केन्द्रीय विद्यालय संगठन, जबलपुर संभाग
KENDRIYA VIDYALAYA SANGATHAN, JABALPUR REGION
प्री-बोर्ड परीक्षा -2025-26
PRE-BOARD EXAMINATION-2025-26
कक्षा -12, विषय-अर्थशास्त्र (030)
CLASS – XII, SUBJECT-ECONOMICS (030)

समय :3 घंटे | पूर्णांक – 80
Time allowed-3 Hours | Maximum Marks-80

GENERAL INSTRUCTIONS:

1. This question paper contains two sections:
   Section - A: Macro Economics
   Section - B: Indian Economic Development

All the questions in both the sections are compulsory. Marks for questions are indicated against each question.
2. Question number 1 - 10 and 18 - 27 are Objective type /very short-answer questions carrying 1 mark each. They are required to be answered in one word /one sentence each.
3. Question number 11 - 12 and 28 - 29 are short-answer questions caring 3 marks each. Answers to them should not normally exceed 60-80 words each
4. Question number 13 - 15 and 30 - 32 are also short-answer questions carrying 4 marks each. Answers to them should not normally exceed 80-100 words each.
5. Question number 16 - 17 and 33 - 34 are long answer questions carrying 6 marks each. Answers to them should not normally exceed 100-150 words each.
6. Answer should be brief and to the point and the above word limit be adhered to as far as possible.

सामान्य निर्देश:

1.इस प्रश्न पत्र में दो खंड हैं:

खंड - अ: समष्टि अर्थशास्त्र

खंड - ब: भारतीय आर्थिक विकास

दोनों अनुभागों में सभी प्रश्न अनिवार्य हैं। प्रत्येक प्रश्न के सामने प्रश्नों के अंक अंकित हैं।

२. प्रश्न संख्या 1- 10 और 18– 27वस्तुनिष्ठ /अति लघु उत्तरीय प्रश्न हैं जिनमें से प्रत्येक के लिए 1 अंक निर्धारित हैं। इनके उत्तर सामान्यतः एक शब्द /एक वाक्य में होना चाहिए।

३. प्रश्न संख्या 11- 12और 28- 29लघु उत्तरीय प्रश्न हैं जिनमें से प्रत्येक के लिए 3अंक निर्धारित हैं। इनके उत्तर सामान्यतः 60- 80शब्दों से अधिक नहीं होने चाहिए।

४. प्रश्न संख्या 13- 15और 30- 32भी लघु उत्तरीय प्रश्न हैं, प्रत्येक प्रश्न 4अंक का है। इनके उत्तर सामान्यतः 80- 100शब्दों से अधिक नहीं होने चाहिए।

५.प्रश्न संख्या 16- 17और 33- 34दीर्घ उत्तरीय प्रश्न हैं जिनमें से प्रत्येक 6अंक का है। इनके उत्तर सामान्यतः 100- 150शब्दों से अधिक नहीं होने चाहिए।

६.उत्तर संक्षिप्त और सारगर्भित होना चाहिए और जहां तक संभव हो उपरोक्त शब्द सीमा का पालन किया जाना चाहिए।

	SECTION – A MACROECONOMICS/ समष्टि अर्थशास्त्र	
1	An Indian company receives a loan from a company located abroad. This transaction would be recorded on the..... side of.....account in India's Balance of Payment. (a)Credit, Current (b) Debit, Current (c) Credit, Capital (d) Debit, Capital एक भारतीय कंपनी को विदेश में स्थित एक कंपनी से ऋण मिलता है। यह लेनदेन भारत के भुगतान संतुलन के..... खाते के..... पक्ष में दर्ज किया जाएगा। (क) चालू, क्रेडिट (ख) चालू ,डेबिट (ग) पूंजी, क्रेडिट (घ) पूंजी, डेबिट	1
2	Read the following statements - Assertion (A) and Reason (R): **Assertion (A):** Demand deposits are considered as a convenient mode of payment for execution of even the high value transactions. **Reason (R):** Demand deposits are non-withdrawable in nature and cannot be withdrawn against issue of cheques and other similar instruments of payment. From the given alternatives choose the correct one: Alternatives: (A) Both Assertion (A) and Reason (R) are true and Reason (R) is the correct explanation of Assertion (A). (B) Both Assertion (A) and Reason (R) are true and Reason (R) is not the correct explanation of Assertion (A). (C) Assertion (A) is true but Reason (R) is false. (D) Assertion (A) is false but Reason (R) is true. निम्नलिखित कथन पढ़ें - अभिकथन (ए) और कारण (आर) अभिकथन (A): माँग जमा को उच्च मूल्य के लेनदेन के निष्पादन के लिए भी भुगतान का एक सुविधाजनक तरीका माना जाता है। कारण (R): माँग जमा गैर-निकासी योग्य प्रकृति के होते हैं और इन्हें चेक और भुगतान के अन्य समान साधनों के जारी होने पर नहीं निकाला जा सकता है। दिए गए विकल्पों में से सही विकल्प चुनें:	1

	विकल्प: (A अभिकथन (ए): और कारण (आर) दोनों सत्य हैं और कारण (आर) अभिकथन (ए): का सही स्पष्टीकरण है। (B) अभिकथन (ए): और कारण (आर) दोनों सत्य हैं और कारण (आर) अभिकथन (ए): का सही स्पष्टीकरण नहीं है। (C) अभिकथन (ए): सत्य है लेकिन कारण (आर) गलत है। (D) अभिकथन (ए): गलत है लेकिन कारण (आर) सच है।	
3	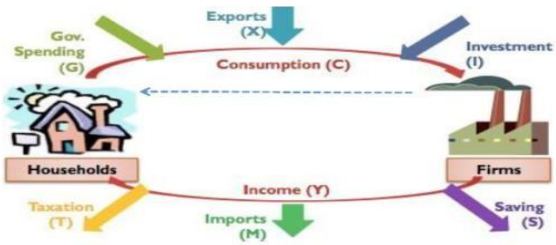 Identify the correct option based on the above picture A. Leakage – Tax, Saving & Exports B. Injection – Govt. Exp., Export & Investment C. Injection – Govt. Exp., Export & Imports D. Leakage – Tourism, Saving & Export उपरोक्त चित्र के आधार पर सही विकल्प चुनिए। A. रिसाव - कर, बचत और निर्यात B. इंजेक्शन - सरकारी व्यय, निर्यात और निवेश C. इंजेक्शन - सरकारी व्यय, निर्यात और आयात D. रिसाव - पर्यटन, बचत और निर्यात **Note: The following question is for the Visually Impaired Candidates on lieu of Q.3** Identify, flow variable from the following: (a) Distance between Delhi and Amritsar (b) Annual expenditure of a school (c) Bank balance of Mr. Mukesh as on 31.03.2022	1

	(d) Investments of Mr. Mohit as on 31.12.2021 निम्नलिखित से प्रवाह चर की पहचान करें: (क) दिल्ली और अमृतसर के बीच की दूरी (ख) एक स्कूल का वार्षिक व्यय (ग) श्री मुकेश का बैंक बैलेंस 31.03.2022 को (घ) श्री मोहित का निवेश 31.12.2021 को	
4	Tim went to the supermarket with 5,000 in his wallet to buy groceries for his family. He purchased vegetables, fruits, and other household items, paying the respective prices at the counter. Which functions of money were being demonstrated in this real-life scenario? A) Unit of Labour B) Store of Value C) Medium of Exchange D) Measure of Creditworthiness Choose the correct options from the following: (a) Option A and B (b) Option B and C (c) Option A, B and D (d) Option A, C and D टिम अपने पर्स में 5,000 रुपये लेकर सुपरमार्केट गया ताकि अपने परिवार के लिए किराने का सामान खरीद सके। उसने सब्जियाँ, फल और अन्य घरेलू सामान खरीदे, और काउंटर पर उचित कीमत का भुगतान किया। इस वास्तविक जीवन परिदृश्य में पैसे के कौन-कौन से कार्य प्रदर्शित हो रहे थे? A) श्रम की इकाई B) जमा की इकाई C) विनिमय का माध्यम D) क्रेडिट योग्यता का माप नीचे दिए गए विकल्पों में से सही विकल्प चुनें: (a) विकल्प A और B (b) विकल्प B और C (c) विकल्प A, B और D (d) विकल्प A, C और D	1
5	If the legal reserve ratio is 20%, the value of money multiplier would be (a) 2 (b) 3 (c) 5 (d) 4 यदि कानूनी रिजर्व अनुपात 20% है, तो मौद्रिक गुणक का मान होगा (क) 2 (ख) 3 (ग) 5 (घ) 4	1
6	Read the following statements carefully: Statement 1: Gross National Product (GNP) can be greater than Gross Domestic Product(GDP) in a two sector economy. Statement 2: Net factor income from abroad is zero in a two-sector economy. In the light of the given alternatives, choose the correct alternative from the following: (A) Statement 1 is true and statement 2 is false. (B) Statement 1 is false and statement 2 is true (C) Both statements 1 and 2 are true	1

	(D) Both statements 1 and 2 are false निम्नलिखित कथनों को ध्यानपूर्वक पढ़ें: कथन 1: एक दो क्षेत्रीय अर्थव्यवस्था में सकल राष्ट्रीय उत्पाद (GNP) सकल घरेलू उत्पाद (GDP) से अधिक हो सकता है। कथन 2: एक दो-क्षेत्रीय अर्थव्यवस्था में विदेश से शुद्ध कारक आय शून्य है। दिए गए विकल्पों के आलोक में, निम्नलिखित में से सही विकल्प का चयन कीजिए: (A) कथन 1 सत्य है और कथन 2 असत्य है। (B)कथन 1 असत्य है और कथन 2 सत्य है (C)कथन 1 और 2 दोनों सत्य हैं (D)कथन 1 और 2 दोनों असत्य हैं।	
7	If in an economy, the value of Net Factor Income from Abroad is 200 crores, and the value of Factor Income to Abroad is 40 crores. Identify the value of factor income from abroad. (a) 200 crores (b) 160 crores (c) 240 crores (d) 180 crores अगर किसी अर्थव्यवस्था में, विदेश से शुद्ध कारक आय का मूल्य 200 करोड़ है, और विदेश को कारक आय का मूल्य 40 करोड़ है। विदेश को कारक आय का मूल्य पहचानें: (क) 200 करोड़ (ख) 160 करोड़ (ग) 240 करोड़ (घ) 180 करोड़	1
8	Suppose for a given economy, S= -60 + 0.1Y I= ₹ 4,000 crore (Where S = Saving Function, Y = National Income and I = Investment Expenditure) Equilibrium level of Income would be ₹ _____ crore. (Choose the correct alternative to fill up the blank) Alternatives: a) 4,000 b) 40,000 c) 40,600 d) 60,400 मान लीजिए किसी दी गई अर्थव्यवस्था के लिए, S= -60 + 0.1Y I= ₹ 4,000 करोड़ (जहाँ S = बचत फलन, Y = राष्ट्रीय आय और I = निवेश व्यय) आय का संतुलन स्तर ₹ _____ करोड़ होगा। (रिक्त स्थान की पूर्ति के लिए सही विकल्प चुनें) विकल्प: a) 4,000 b) 40,000 c) 40,600 d) 60,400	1

9	Read the following statements carefully: **Statement 1 :** The consumption curve is an upward sloping straight line curve due to the direct relationship between income and consumption and the consumption of constant marginal propensity to consume.. **Statement 2 :** Aggregate demand curve and consumption curve are parallel to each other. in the light of the given statements, choose the correct alternative from the following: a) Both the statements are true b) Both the statements are false c) Statement 1 is true and statement 2 is false. d) Statement 2 is true and statement 1 is false. निम्नलिखित कथनों को ध्यान से पढ़ें: **कथन 1:** उपभोग वक्र आय और उपभोग और निरंतर सीमांत उपभोग प्रवृत्ति के उपभोग के बीच सीधे संबंध के कारण एक ऊपर की ओर झुका हुआ सीधी रेखा वक्र है। **कथन 2:** समग्र मांग वक्र और उपभोग वक्र एक दूसरे के समानांतर हैं दिए गए कथनों के आलोक में निम्नलिखित में से सही विकल्प चुनें: क) दोनों कथन सत्य है । ख) दोनों कथन असत्य हैं ग) कथन1 सत्य है और कथन 2 गलत है । घ कथन 2 सत्य है और कथन 1 गलत है ।	1
10	Under the…… exchange rate system, the Central Bank and government of the country do not have any authority to interfere in the exchange rate determination. (a) Fixed (b) Floating (c) Managed (d) All of the above ……..विनिमय दर प्रणाली के तहत, देश का केंद्रीय बैंक और सरकार विनिमय दर निर्धारण में हस्तक्षेप करने का कोई अधिकार नहीं रखते। (क) निश्चित (ख) प्रवाहमान (ग) प्रबंधित (घ) उपरोक्त सभी	1
11	How will you treat the following in the calculation of the Gross Domestic Product of India? Give reasons for your answer. (a) Profits earned by a branch of foreign bank in India. (b) Salaries of Indian employees working in embassy of Japan in India. (c) Salary of residents of Japan working in Indian embassy in Japan. आप भारत के सकल घरेलू उत्पाद की गणना में निम्नलिखित को कैसे मानेंगे? अपने उत्तर के लिए कारण दें। (क) भारत में विदेशी बैंक की शाखा द्वारा अर्जित लाभ । (ख) भारत में जापान के दूतावास में काम करने वाले भारतीय कर्मचारियों की वेतन ।	3

	(ग) जापान में भारतीय दूतावास में काम कर रहे जापान के निवासियों की वेतन ।	
12	The statutory requirement of the Reserve Ratio (RR) acts as a limit to the amount of credit that banks can create." Justify the given statement with the valid explanation. OR "The Reserve Bank of India (RBI) provides several banking services to the Government." Do you agree with the given statement? Give valid explanation in support of your answer. आरक्षित अनुपात (आरआर) की वैधानिक आवश्यकता बैंकों द्वारा सृजित ऋण की मात्रा की सीमा के रूप में कार्य करती है।दिए गए कथन की पुष्टि वैध स्पष्टीकरण से करें । अथवा "भारतीय रिज़र्व बैंक (आरबीआई) सरकार को कई बैंकिंग सेवाएँ प्रदान करता है ।" क्या आप दिए गए कथन से सहमत हैं? अपने उत्तर के समर्थन में वैध स्पष्टीकरण दीजिए ।	3
13	Assuming that increase in investment is ₹ 900 cr. and marginal propensity to consume is 0.6. Explain the working of multiplier. मान लें कि निवेश में वृद्धि 900 करोड़ रुपये है और उपभोग की सीमांत प्रवृत्ति 0.6 है, निवेश गुणक के काम करने की व्याख्या करें । OR On the basis of the given figure, answer the following questions : दी गई आकृति के आधार पर, निम्नलिखित प्रश्नों के उत्तर दें: 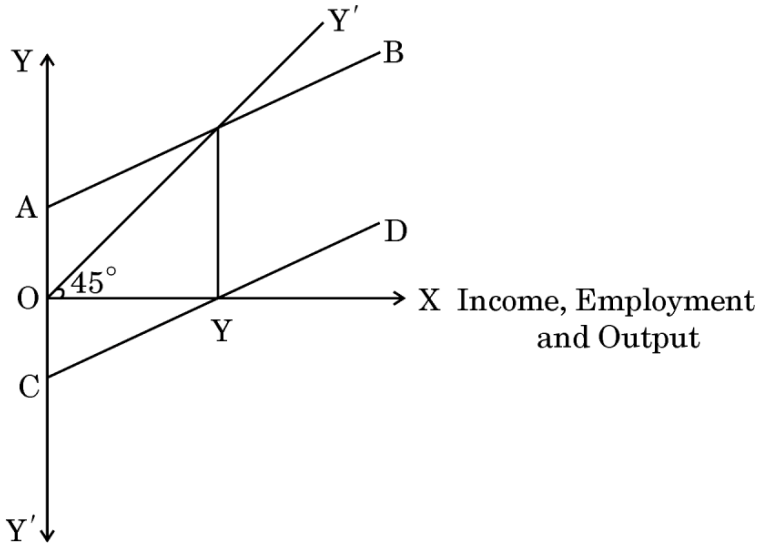 (a) Identify AB and CD curves.	4

	(b) Briefly discuss the reason for AB curve starting from point A (Y-intercept). (c) State the significance of OY level of income. (क) AB और CD वक्रों की पहचान करें। ख) बिंदु A (Y-अवरोधन)से AB वक्र के शुरू होने का कारण संक्षेप में चर्चा करें। (ग) आय के OY स्तर की महत्वता का उल्लेख करें	1 2 1
14	Calculate the value of 'Value of output' from the following data निम्नलिखित डेटा से आउटपुट का मूल्य का मान निकालें। PARTICULARS/विवरण — In crores Excise duty उत्पाद शुल्क — 20 Net value added at Factor Cost / कारक लागत पर शुद्ध मूल्य वर्धन — 100 Subsidies / सब्सिडी — 5 Depreciation / अवमूल्यन — 10 Intermediate consumption / बीच की खपत — 75	4
15	Mr. Roshan, a normal resident of XYZ country, took a $1 million loan from an overseas bank to expand his manufacturing business. During the same year, the Government of XYZ country borrowed $5 billion from an international financial institution to cover the Balance of Payments (BoP) deficit prevailing in the country." Nisha, an economics student, read the above information and identified both the transactions cited, as autonomous transactions in the BoP account of XYZ country. Do you agree with Nisha's identification of the underlying concept? Give valid arguments in support of your answer. श्री रोशन, जो XYZ देश के सामान्य निवासी हैं, ने अपने निर्माण व्यवसाय का विस्तार करने के लिए एक विदेशी बैंक से 1 मिलियन डॉलर का ऋण लिया। उसी वर्ष, XYZ देश की सरकार ने देश में प्रचलित भुगतान संतुलन (BOP) घाटे को कवर करने के लिए एक अंतरराष्ट्रीय वित्तीय संस्था से 5 बिलियन डॉलर का ऋण लिया। निशा, जो एक अर्थशास्त्र की छात्रा हैं, ने उपरोक्त जानकारी पढ़ी और XYZ देश के BOP खाते में उल्लिखित दोनों लेनदेन को स्वायत्त लेनदेन के रूप में पहचाना। क्या आप निशा की इस अवधारणा की पहचान से सहमत हैं? अपने उत्तर के समर्थन में वैध तर्क दें।	4
16	(A)In an economy C= 200 + 0.5 Y is the consumption function where C is the consumption expenditure and Y is the national income. Investment	4+2

	expenditure is ₹ 400 crores. Is the economy in equilibrium at an income level ₹1500 crores? Justify your answer. (B) Define: (i) Ex-Ante Savings (ii) Full Employment OR Show inflationary gap using a well labelled diagram. Suggest any two fiscal measures to correct the situation of inflationary gap. (A) अर्थव्यवस्था में C= 200 + 0.5 Y उपभोग फलन हैं जहाँ C उपभोग व्यय है और Y राष्ट्रीय आय है। निवेश व्यय ₹ 400 करोड़ है। क्या अर्थव्यवस्था ₹1500 करोड़ की आय स्तर पर संतुलन में है? अपने उत्तर को प्रमाणित करें। (B) परिभाषित करें: i) पूर्व-निर्धारित बचत ii) पूर्ण रोजगार या एक अच्छी तरह से लेबल किए गए चित्र का उपयोग करते हुए मुद्रस्फितिक अंतराल दिखाएं । महंगाई की स्थिति को सुधारने के लिए कोई दो राजकोषीय उपाय सुझाएं।	2+4
17	Read the following text carefully : While announcing the federal budget this year, Finance Minister Nirmala Sitharaman revised the fiscal gap target down to 4.8% from 4.9% pegged in this fiscal year's budget, likely aided by reduced spending on planned capital investments and a larger-than-expected central bank dividend. In the Budget, the government stuck to its fiscal consolidation roadmap and set the fiscal deficit target for 2025-26 at 4.4%, in line with its goal of bringing the budget gap below 4.5% by fiscal 2026. This comes amid the possibility of increased spending and income tax rate cuts to stimulate consumption in an economy expected to see its slowest growth in four years. On the basis of given text and common understanding, answer the following questions : (a) "The fiscal deficit gives the borrowing requirement of the government." Elucidate. (b) What are the two major budgetary decisions made by the government of India in the given case, निम्नलिखित पाठ को ध्यान से पढ़ें: इस वर्ष संघीय बजट की घोषणा करते हुए, वित्त मंत्री निर्मलासीतारमण ने इस वित्तीय वर्ष के बजट में निर्धारित 4.9% से राजकोषीय घाटा लक्ष्य को 4.8% तक कम कर दिया, संभवतः योजनाबद्ध पूंजी निवेश पर कम खर्च और अपेक्षित से अधिक केंद्रीय बैंक के लाभांश के कारण।बजट में, सरकार ने अपने राजकोषीय समेकन रोडमैप को बनाए रखा और 2025-26 के लिए राजकोषीय घाटा लक्ष्य 4.4% निर्धारित किया, जिसका उद्देश्य वित्तीय 2026 तक बजट घाटा 4.5% से नीचे लाना है। यह ऐसे समय में आया है जब खर्च में वृद्धि और उपभोग को उत्तेजित करने के लिए आयकर दर कटौती की संभावना है, ऐसे में अर्थव्यवस्था में चार वर्षों में सबसे धीमी वृद्धि देखने की उम्मीद है। दिए गए पाठ और सामान्य समझ के आधार पर, निम्नलिखित प्रश्नों के उत्तर दें: (a) "राजकोषीय घाटा सरकार की उधारी आवश्यकता को दर्शाता है।" स्पष्ट करें।	4+2

	(b) दिए गए मामले में भारत सरकार द्वारा किए गए दो प्रमुख बजटीय निर्णय क्या हैं?	
	SECTION – INDIAN ECONOMIC DEVELOPMENT भारतीय आर्थिक विकास	
18	Read the following statements - Assertion (A) and Reason (R): Assertion (A): Since the default rates of farm loans have become chronically high due to multiple reasons, the rural banks are facing a lot of cash crunch. Reason (R): Due to lack of proper storage facilities a lot of farm produce is wasted. Alternatives: (A) Both Assertion (A) and Reason (R) are true and Reason (R) is the correct explanation of Assertion (A). (B) Both Assertion (A) and Reason (R) are true and Reason (R) is not the correct explanation of Assertion (A). (C) Assertion (A) is true but Reason (R) is false. (D) Assertion (A) is false but Reason (R) is true. निम्नलिखित कथन पढ़ें - अभिकथन (ए) और कारण (आर) अभिकथन (A): चूँकि कृषि ऋणों की चूक दर कई कारणों से लगातार ऊँची हो गई है, इसलिए ग्रामीण बैंकों को नकदी की भारी कमी का सामना करना पड़ रहा है। कारण (R): उचित भंडारण सुविधाओं के अभाव में बहुत सारी कृषि उपज बर्बाद हो जाती है।विकल्प: (A अभिकथन (ए): और कारण (आर) दोनों सत्य हैं और कारण (आर) अभिकथन (ए): का सही स्पष्टीकरण है। (B) अभिकथन (ए): और कारण (आर) दोनों सत्य हैं और कारण (आर) अभिकथन (ए): का सही स्पष्टीकरण नहीं है। (C) अभिकथन (ए): सत्य है लेकिन कारण (आर) गलत है। (D) अभिकथन (ए): गलत है लेकिन कारण (आर) सच है।	1
	Read the given image carefully: दी गई तस्वीर को ध्यान से पढ़ो:	1

19	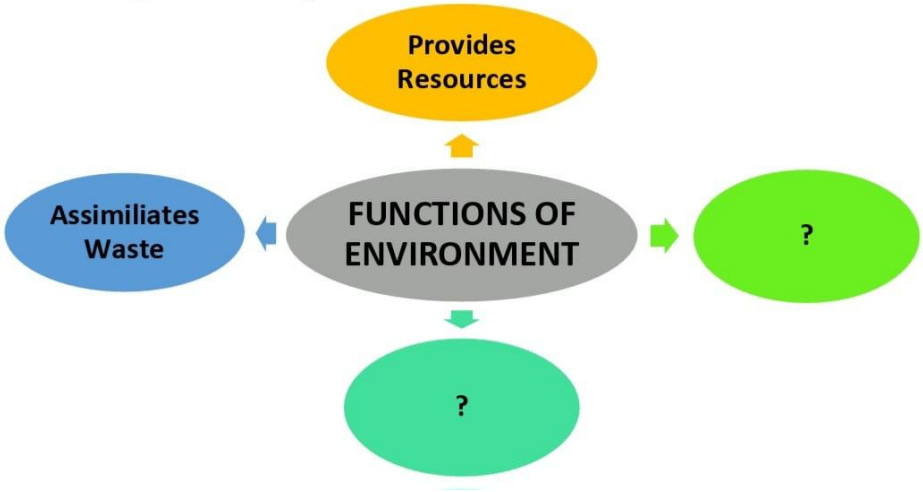 Choose the correct option which indicates the combination of vital functions performed by the environment. i. Sustains life ii. Provides aesthetic services iii. Generates waste iv. Provides only renewable resources Options: A. (i) and (ii) B. (ii) and (iii) C. (i) and (iv) D. (i) and (iii) सही विकल्प चुनें जो वातावरण द्वारा किए जाने वाले महत्वपूर्ण कार्यों के संयोजन को सूचित करता है। i. जीवन का समर्थन करता है ii. सौंदर्य सेवाएं प्रदान करता है iii. अपशिष्ट उत्पन्न करता है i iv. केवल नवीकरणीय संसाधन प्रदान करता है विकल्प: A. (i) और (ii) B. (ii) और (iii) C. (i) और (iv) D. (i) और (iii)	
20	Which of the following is not true about the benefits of education? (a) Increases skewed income distribution. (b) Raises standard and quality of living. (c) Increases participation rate. (d) Develops mental abilities. शिक्षा के लाभों के बारे में निम्नलिखित में से कौन सा कथन सत्य नहीं है? (a) विषम आय वितरण में वृद्धि (b) जीवन स्तर और गुणवत्ता में सुधार (c) भागीदारी दर में वृद्धि (d) मानसिक क्षमताओं का विकास	1

21	Read the following statements carefully: Statement 1: Casual workers are hired on a permanent basis and also get social security benefits. Statement 2: Workforce comprises, both employed and unemployed person. In light of the given statements, choose the correct option from the following: (a)Statement 1 is true & Statement 2 is false. (b) Statement 1 is false & Statement 2 is true. (c) Both Statements 1 and 2 are true. (d) Both Statements 1 and 2 are false निम्नलिखित कथन पढ़ें - अभिकथन (ए) और कारण (आर) कथन 1: आकस्मिक श्रमिकों को स्थायी आधार पर नियुक्त किया जाता है और उन्हें सामाजिक सुरक्षा लाभ भी मिलते हैं। कथन 2: कार्यबल में नियोजित और बेरोजगार दोनों व्यक्ति शामिल हैं। दिए गए वाक्यों के प्रकाश में, निम्नलिखित में से सही विकल्प चुनें: (अ) वाक्य 1 सही है और वाक्य 2 गलत है। (ब) वाक्य 1 गलत है और वाक्य 2 सही है। (स) दोनों वाक्य 1 और 2 सही हैं। (द) दोनों वाक्य 1 और 2 गलत हैं।	1
22	Which of the following is the correct difference between physical and human capital? (a) Physical capital can be sold but human capital cannot be sold. (b)Physical capital provides both private and social benefits while human capital provides only social benefits (c)Physical capital cannot be separated from its owner while human capital can. (d) The depreciation of physical capital can be arrested with more investment while human capital will continue to deplete. भौतिक और मानव पूंजी के बीच सही अंतर क्या है? (क) भौतिक पूंजी बेची जा सकती है लेकिन मानव पूंजी नहीं बेची जा सकती। (ख) भौतिक पूंजी निजी और सामाजिक दोनों प्रकार के लाभ प्रदान करती है जबकि मानव पूंजी केवल सामाजिक लाभ प्रदान करती है। (ग) भौतिक पूंजी को इसके मालिक से अलग नहीं किया जा सकता जबकि मानव पूंजी को अलग किया जा सकता है। (घ) भौतिक पूंजी के मूल्यह्रास को अधिक निवेश से रोका जा सकता है, जबकि मानव पूंजी का ह्रास जारी रहेगा।	1
23	In the Swadeshi Movement against the British , started in 1905 , Indian started ditching British goods for Indian product.	1

	Which of the following would have been the likely impact of the movement? i. Rise in import of raw materials ii. Fall in import from Britain iii. Rise in production of goods in India iv. Rise in export tariffs Options: a. (i) and (ii) b. (i) and (iv) c. (ii) and (iii) d. (ii) and (iv) 1905 में अंग्रेजों के खिलाफ शुरू हुए स्वदेशी आंदोलन में, भारतीयों ने ब्रिटिश वस्तुओं को छोड़कर भारतीय उत्पादों को अपनाना शुरू कर दिया। इस आंदोलन का निम्नलिखित में से कौन सा संभावित प्रभाव रहा होगा? i. कच्चे माल के आयात में वृद्धि ii. ब्रिटेन से आयात में गिरावट iii. भारत में वस्तुओं के उत्पादन में वृद्धि iv. निर्यात शुल्क में वृद्धि विकल्प: a. (i) and (ii) b. (i) and (iv) c. (ii) and (iii) d. (ii) and (iv)	
24	Which of the following is not used as a strategy for sustainable development? (a) Use of bio-gas (b) Use of solar power (c)Use of thermal power (d) Use of hydel power निम्नलिखित में से किसका उपयोग सतत विकास की रणनीति के रूप में नहीं किया जाता है? (a) जैव-ऊर्जा का उपयोग (b) सौर ऊर्जा का उपयोग (c) तापीय ऊर्जा का उपयोग (d) जल विद्युत का उपयोग	1
25	Jobless growth leads to unemployment because: a. Labour refuse to migrate b. Labour is very expensive c. GDP growth is slow d. Growth is due to technology बेरोज़गारी रहित विकास बेरोज़गारी की ओर ले जाता है क्योंकि: a. श्रमिक पलायन करने से इनकार करते हैं b. श्रम बहुत महंगा है c. सकल घरेलू उत्पाद की वृद्धि धीमी है d. विकास प्रौद्योगिकी के कारण है	1

26	Which of the following is **not** correct about the planning in India? a) Mixed economy has been the framework of planning in India. b) The duration of the Twelfth five year plan was 2012-17. c) Equality has not been an objective of planning in India. d) Planning in India started with a heavy reliance on the public sector. भारत में नियोजन के बारे में निम्न में से कौन सा कथन सही **नहीं** है ? a) मिश्रित व्यवस्था भारत में नियोजन का आधार बनी है | b) बारहवीं पंचवर्षीय योजना की अवधि 2012-17 थी | c) समानता भारत में नियोजन का उद्देश्य नहीं रहा है | d) भारत में नियोजन सार्वजनिक क्षेत्र में अत्यधिक निर्भरता के साथ प्रारंभ हुआ |	1
27	From the set of statements given in column I and column II , choose the correct pair of statements : Column I: A. Economic reforms in India; B. First five year plan in Pakistan; C. Statism; D. Urbanization Column II: i. 1956; ii. 1991; iii. Commune system in China; iv. Closely linked with structural transformation in the country Alternatives: a) A – (i) b) B – (ii) c) C – (iii) d) D – (iv) कॉलम I तथा कॉलम II में दिए गए कथनों के समूह में से सही युग्म के कथनों का चयन कीजिये : कॉलम I: A. भारत में आर्थिक सुधार; B. पाकिस्तान में पहली पंचवर्षीय योजना; C. राज्यवाद; D. शहरीकरण कॉलम II: i.1956; ii.1991; iii. चीन में कम्यून व्यवस्था; iv. देश के संरचनात्मक परिवर्तन से निकट का सम्बन्ध विकल्प : a) A – (i) b) B – (ii) c) C – (iii) d) D – (iv)	1

<table>
<tr><td>28</td><td>Edward Barbier defined Sustainable Development as a strategy which is directly concerned with increasing the material standard of living of the poor at the grass root level.”
Elaborate the given statement.

एडवर्ड बार्बियर ने सतत विकास को एक ऐसी रणनीति के रूप में परिभाषित किया है जो सीधे तौर पर जमीनी स्तर पर गरीबों के भौतिक जीवन स्तर को बढ़ाने से संबंधित है। दिए गए कथन को विस्तार से समझाइए।</td><td>3</td></tr>
<tr><td>29</td><td>China`s rapid industrial growth can be traced back to its reforms in 1978.Do you agree?. Elucidate.
चीन के तीव्र औद्योगिक विकास का श्रेय 1978 में किए गए उसके सुधारों को दिया जा सकता है। क्या आप सहमत हैं? स्पष्ट कीजिए।
Or/या
What is the important implication of the ‘one child norm’ in China
चीन में 'एक बच्चे के मानदंड' का महत्वपूर्ण निहितार्थ क्या है?</td><td>3</td></tr>
<tr><td>30</td><td>Discuss briefly the role of small -scale industries in the growth journey of India.
भारत की विकास यात्रा में लघु उद्योगों की भूमिका पर संक्षेप में चर्चा करें।
Or/या
Describe two key features of India`s foreign trade on the eve of independence.
स्वतंत्रता की पूर्व संध्या पर भारत के विदेशी व्यापार की दो प्रमुख विशेषताओं का वर्णन कीजिए।</td><td>4</td></tr>
<tr><td>31</td><td>Compare and analyses the given data of distribution of workforce (in 2018-19) with valid reasons.
<table>
<tr><td>Country</td><td>Agriculture (%)</td><td>Industry (%)</td><td>Services (%)</td></tr>
<tr><td>India</td><td>43</td><td>25</td><td>32</td></tr>
<tr><td>China</td><td>26</td><td>28</td><td>46</td></tr>
<tr><td>Pakistan</td><td>41</td><td>24</td><td>35</td></tr>
</table>
कार्यबल के वितरण के दिए गए आंकड़ों (2018-19) की तुलना एवं विश्लेषण मान्य कारणों से कीजिये –
<table>
<tr><td>देश</td><td>कृषि (%)</td><td>उद्योग (%)</td><td>सेवा (%)</td></tr>
<tr><td>भारत</td><td>43</td><td>25</td><td>32</td></tr>
<tr><td>चीन</td><td>26</td><td>28</td><td>46</td></tr>
<tr><td>पाकिस्तान</td><td>41</td><td>24</td><td>35</td></tr>
</table></td><td>4</td></tr>
</table>

32	 Identify the situation depicted in the given image. Suggest the impact of the indicated situation on the Indian economy. दिए गए चित्र में दर्शाई गई स्थिति को पहचानिए। भारतीय अर्थव्यवस्था पर इस स्थिति के प्रभाव का सुझाव दीजिए। **Note: The following question is for the Visually Impaired Candidates on lieu of Q.32** a) Define worker-population ratio? What does it signify? b) Why are regular salaried employees more in urban areas than in rural areas ? a) श्रमिक – जनसँख्या अनुपात की परिभाषा दीजिये,इसका क्या महत्त्व है ? b) शहरी क्षेत्रों में नियमित वेतनभोगी कर्मचारी ग्रामीण क्षेत्रों से अधिक क्यों होते हैं?	2+2
33	State whether the following statements are true/false, with valid arguments: (a) Human Capital and Human Development are one and the same thing. (b) India has a poor stock of technical manpower. निम्नलिखित कथनों में से सही/गलत क्या हैं, यह उचित तर्कों सहित बताइए: (क) मानव पूंजी और मानव विकास एक ही चीज़ हैं। (ख) भारत में तकनीकी जनशक्ति का भंडार कम है। Or (a) Define agricultural marketing. (b) Discuss briefly the importance of micro-credit programmes in rural development. (c) Enlist any two problems faced by farmers in the initial years of organic farming. (क) कृषि विपणन को परिभाषित कीजिए। (ख) ग्रामीण विकास में सूक्ष्म-ऋण कार्यक्रमों के महत्व पर संक्षेप में चर्चा कीजिए। (ग) जैविक खेती के प्रारंभिक वर्षों में किसानों के सामने आने वाली किन्हीं दो समस्याओं को सूचीबद्ध कीजिए।	3+3 2+2+2

34	Read the following text carefully: With the July 1991 budget, there was a clear switch in favour of a move towards an outward-oriented, market-based economy. The liberalization steps initiated in the budget were very comprehensive although the pace remained gradual and there were occasional hiccups. The 1991 reforms did away with import licensing on all but a handful of intermediate inputs and capital goods. Consumer goods, accounting for approximately 30% of tariff lines, remained under licensing. Only a decade later, after a successful challenge by India's trading partners at the World Trade Organization (WTO), were these goods freed of licensing. Today, except for a handful of goods that are disallowed on environmental/health/safety grounds, all goods may be imported without a license or other restrictions. With the removal of licensing, the tariff rates became effective restrictions on imports. Therefore, a major task of the reforms has been to lower the tariff rates, Tariff reductions have been mainly confined to non-agricultural, industrial goods. Therefore, the liberalization applies strictly to these goods. The reduction in tariffs has been achieved through a gradual compression of the tariff rates. A simultaneous rationalization of the tariff structure through a reduction in the number of tariff bands helped in this direction. On the basis of the given text and common understanding, answer the following questions: (a) "The trade liberalization reforms initiated in 1991 budget were very comprehensive." Justify the given statement explaining any two trade reforms introduced in 1991. (b). State any two areas in which tariff reductions were introduced. निम्नलिखित पाठ को ध्यानपूर्वक पढ़ें: जुलाई 1991 के बजट के साथ, एक बहिर्मुखी, बाज़ार-आधारित अर्थव्यवस्था की ओर स्पष्ट रुझान देखा गया। बजट में शुरू किए गए उदारीकरण के कदम बहुत व्यापक थे, हालाँकि उनकी गति धीमी रही और कभी-कभी कुछ रुकावटें भी आईं। 1991 के सुधारों ने कुछ मध्यवर्ती आगतों और पूँजीगत वस्तुओं को छोड़कर बाकी सभी पर आयात लाइसेंसिंग को समाप्त कर दिया। उपभोक्ता वस्तुएँ, जो टैरिफ लाइनों का लगभग 30% हिस्सा हैं, लाइसेंसिंग के अधीन रहीं। केवल एक दशक बाद, विश्व व्यापार संगठन (WTO) में भारत के व्यापारिक साझेदारों द्वारा एक सफल चुनौती के बाद, इन वस्तुओं को लाइसेंसिंग से मुक्त किया गया।	3+3

	आज, पर्यावरण/स्वास्थ्य/सुरक्षा के आधार पर प्रतिबंधित कुछ वस्तुओं को छोड़कर, सभी वस्तुओं का आयात बिना लाइसेंस या अन्य प्रतिबंधों के किया जा सकता है। लाइसेंसिंग को हटाने के साथ, टैरिफ दरें आयात पर प्रभावी प्रतिबंध बन गईं। इसलिए, सुधारों का एक प्रमुख कार्य टैरिफ दरों को कम करना रहा है, टैरिफ में कमी मुख्य रूप से गैर-कृषि, औद्योगिक वस्तुओं तक ही सीमित रही है। इसलिए, उदारीकरण इन वस्तुओं पर सख्ती से लागू होता है। टैरिफ दरों में क्रमिक कमी के माध्यम से टैरिफ में कमी हासिल की गई है। टैरिफ बैंड की संख्या में कमी के माध्यम से टैरिफ संरचना के साथ-साथ युक्तिकरण ने इस दिशा में मदद की। दिए गए पाठ और सामान्य समझ के आधार पर, निम्नलिखित प्रश्नों के उत्तर दीजिए: (a) "1991 के बजट में शुरू किए गए व्यापार उदारीकरण सुधार बहुत व्यापक थे।" 1991 में शुरू किए गए किन्हीं दो व्यापार सुधारों की व्याख्या करते हुए दिए गए कथन का औचित्य सिद्ध कीजिए। (b) किन्हीं दो क्षेत्रों का उल्लेख कीजिए जिनमें टैरिफ में कटौती की गई।	