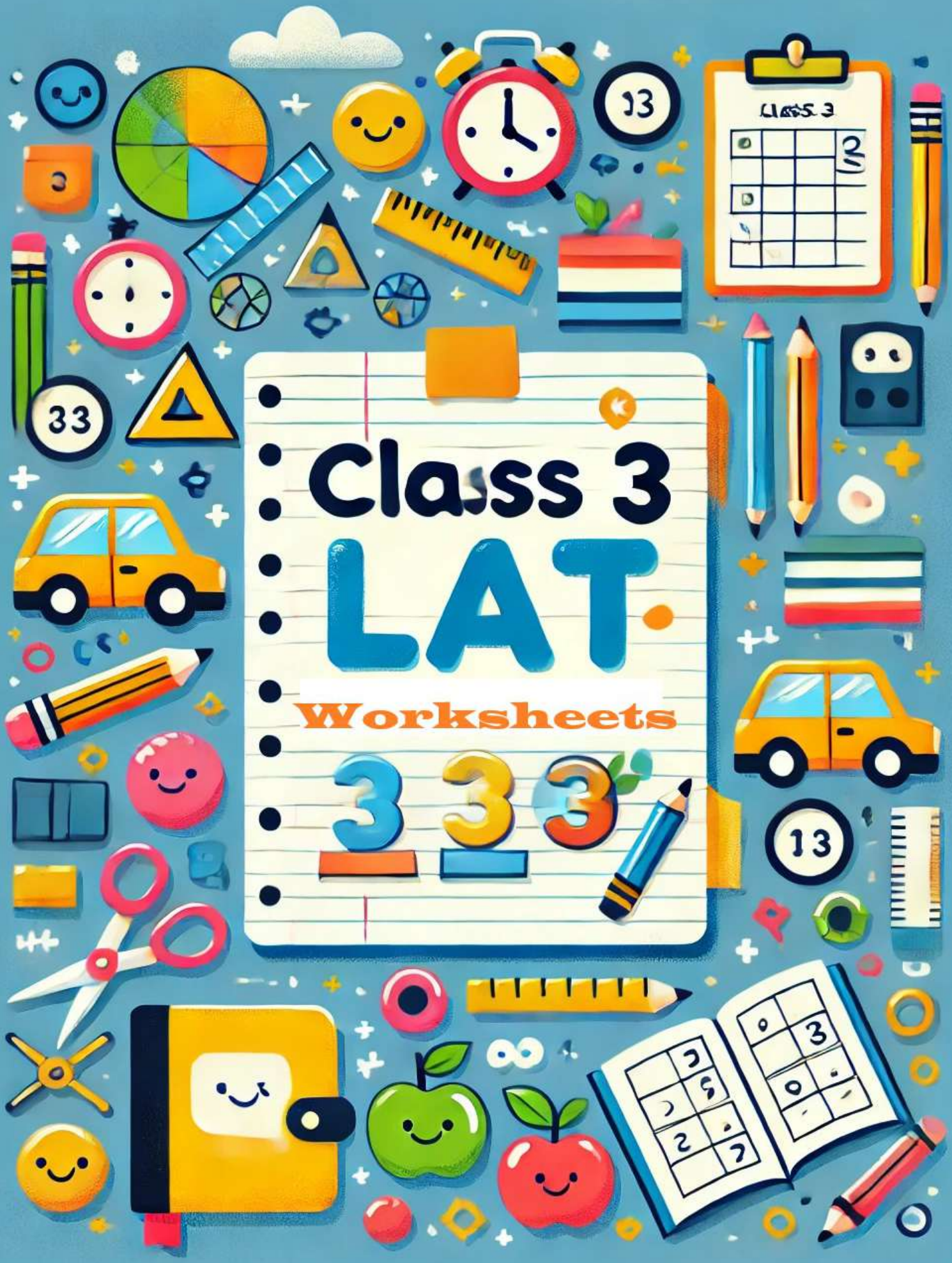
Class 3
LAT
Worksheets

ENGLISH

केन्द्रीय विद्यालय संगठन, जम्मू संभाग

KENDRIYA VIDYALAYA SANGATHAN, JAMMU REGION

LAT WORKSHEET
CLASS – III

SUBJECT – ENGLISH
CHAPTER NO. - 1
CHAPTER NAME - COLOURS

CLASSWORK

Q. No.	Question	Answer
1	Read the following lines and answer the question. "I need the red And you need the black If we share our crayons We have a full pack" How many children are there? a) One b) Two c) Four d) Six	b) Two
2	Why do the children decide to share their crayons? a) Because they don't like their own colours. b) Because they want to play outside. c) Because they are tired of colouring. d) Because each child needs a color that the other has.	d) Because each child needs a colour that the other has.
3	What do the children have if they share their crayons? a) A few crayons b) A broken crayon c) No crayons at all d) A full pack of crayons	d) A full pack of crayons
4	"NEWSPAPER" is made of two different words NEWS and PAPER. BLUEBERRY, BASKETBALL, JOYFUL, EARTHWORM Which word cannot be broken into two different meaningful words? a) BLUEBERRY b) KNOWLEDGE c) BASKETBALL d) EARTHWORM	b) KNOWLEDGE
5	Which word cannot be made from the letters of the underlined word. "This is a **brown** crayon" a) New b) Now c) Won d) Own	a) New

6	Choose the word that doesn't have the same initial sound as crayon. a) Cow b) Crow c) Crane d) Cradle	a) Cow
7	Identify the action word in the given sentence : "The dog is barking " a) The b) Is c) Dog d) Barking	d) Barking
8	Read the following sentences and answer the questions. "You have a few crayons, Red, yellow and black. Green, purple and black, I have some too." What colours of crayons does the first child have? a) Red, yellow and blue b) Green, purple and black c) Green, purple and blue d) Red, yellow, black	d) Red, yellow, black
9	What colours of crayons does the second child have? a) Red, yellow and blue b) Green, purple and black c) Orange, pink and black d) Green, blue and pink	b) Green, purple and black
10	Choose the option that **doesn't** describe a drawing. a) Eraser b) Beautiful c) Colourful d) Pretty	a) Eraser
11	Read the line and tick the opposite of the underlined word. "we have a **full** pack" a) Half b) Empty c) Quarter d) Gone	b) Empty
12	Choose the correct rhyming word of the underlined word. You have a **few** crayons. a) Too b) New c) Share d) Have	b) New
13	Tick the correct vowel to complete the given word meaningfully. P_RPLE a) O b) E c) A d) U	d) U
14	What is the correct plural form for Crayon? a) Crayons b) Crayon c) Crayonies d) Crayonees	a) Crayons

15	Unscramble the letters to form a valid English word. LYLEWO a) WOLLEY b) LOWELY c) OWELLY d) YELLOW	d) Yellow

HOMEWORK

Q. No.	Question	Answer
1	Tick the correct spelling from the given options. a) PAK b) PAC c) PACK d) PAKC	c) PACK
2	Which of the following is not a colour? a) Red b) Banana c) Black d) Orange	b) Banana
3	Choose the correct sequence of the given letters in alphabetical order. Colour, Some, Few, Need a) Colour, Few, Some, Need b) Colour, Few, Need, Some c) Colour, Some, Few, Need d) Few Need, Some, Colour	b) Colour, Few, Need, Some
4	See the picture and choose the correct young one of the given animal. a) Calf b) Cow c) Chick d) Cat 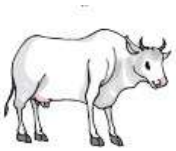	a) Calf
5	Choose the sentence with the correct punctuation marks. a) If we share our crayons, we have a full pack? b) If we share our crayons, we have a full pack. c) If we share our crayons, we have a full pack, d) If we share our crayons, we have a full pack!	d) If we share our crayons, we have a full pack!
6	Tick the action word that you can find in the grid. a) Pup b) Pour c) Up d) Car 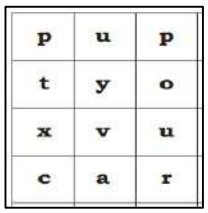 	b) Pour
7	Which sentence has the most repeated first letters? a) Govind goes to get guavas. b) We have reached the stream. c) Lata loves lemonade d) Anu eats an apple	a) Govind goes to get guavas.

8	Fill in the blank using the correct article. You have __ few crayons. a) a b) the c) an d) None	a) a
9	Make the past form of the underlined word. I **<u>need</u>** the red colour. a) Needs b) Needed c) Needing d) None	b) Needed
10	Read the given line and answer the question. "We have a full **<u>pack</u>**" Choose the correct describing word of the underlined word. a) We b) a c) have d) full	d) full

केन्द्रीय विद्यालय संगठन, जम्मू संभाग

KENDRIYA VIDYALAYA SANGATHAN, JAMMU REGION

LAT WORKSHEET
CLASS – III

SUBJECT – ENGLISH
CHAPTER NO. - 2
CHAPTER NAME - BADAL AND MOTI

CLASSWORK

Q. No.	Question	Answer
1	Read the passage and answer the given questions. There was a boy called Badal. He lived with his mother in a village and they were very happy. One evening, when Badal was returning from school, he saw a puppy shivering in the cold. Whom did Badal live with? a) His grandmother b) His father c) His Mother d) His sister	c) His Mother
2	Where did Badal live with her? a) In a city b) In a capital c) In a town d) In a village	d) In a village
3	Where was Badal returning from? a) School b) Work c) College d) Office	a) School
4	When was he returning from school? a) Morning b) Evening c) Night d) Afternoon	b) Evening
5	What did he see when he was returning? a) A cat b) A lion c) A dog d) A puppy	d) A puppy
6	Make the past form of 'shivering'. a) shivered b) shiverd c) shiveres d) shivers 	a) shivered

7	Choose the sentence with the correct punctuation marks. a) Can this puppy stay with us, Maa. b) Can this puppy stay with us, Maa? c) Can? This puppy stay with us, Maa. d) Can this puppy, stay with us Maa?	b) Can this puppy stay with us, Maa?
8	Tick the correct opposite of the underlined word. He tried <u>hard</u>, but could not come out. a) Tough b) Difficult c) Soft d) Solid	c) Soft
9	Choose the correct word to replace the underlined naming word. Badal and his mother named the puppy Moti. **<u>Moti</u>** grew up and loved Badal. a) He b) They c) She d) It	d) It
10	Badal fell deep _____ the pit. a) into b) in c) onto d) on	a) into
11	Read the lines and answer the question. He followed the scent and went near the pit and started barking. Who started barking? a) Dog b) Badal c) Moti d) Cat	c) Moti
12	Choose the correct rhyming word of the underlined word. They used a **<u>rope</u>** to pull Badal out of the pit. a) Loop b) Hope c) Scoop d) Rote	b) Hope
13	Tick the one which is **not true**. a) Moti grew up and loved Badal. b) Moti caught Badal's scent. c) Badal lived with his grandmother. d) Badal hugged his puppy Moti and thanked him.	c) Badal lived with his grandmother.
14	Change the gender of the underlined word. Badal's **<u>mother</u>** was worried. a) Brother b) Grandfather c) Uncle d) Father	d) Father

15	Choose the option that **doesn't** describe a puppy. a) Furry b) Playful c) Electric d) Energetic	c) Electric

HOMEWORK

Q. No.	Question	Answer
1	Tick the correct spelling from the given options. a) neighbours b) neghbours c) neigbors d) neybors	a) neighbours
2	'PLAYGROUND' is made by two different words PLAY and GROUND.' **HAIRCUT BLACKBOARD TOOTHBRUSH TOGETHER** Which word cannot be broken into two different meaningful words? a) TOOTHBRUSH b) HAIRCUT c) BLACKBOARD d) TOGETHER	d) TOGETHER
3	Which word **cannot** be made from the letters of 'BARKING' a) Bark b) King c) Park d) Ring	c) Park
4	Choose the correct punctuation mark to fill in the blank. Yes beta__but only if you promise to take care of the puppy. a) ? b) , c) . d) ;	b) ,
5	Tick the one which is **not** a pet animal. a) Dog b) Pig c) Sheep d) Fox	d) Fox
6	Unscramble the letters to form a valid English word. AELPSO a) PLEASE b) POLEAS c) LEAPSO d) LEOSAP	a) PLEASE
7	Read the lines and answer the given question. One rainy day, while Badal was on his way home from _____, he slipped on the muddy lane. Where was Badal coming from? a) college b) village c) city d) school	d) school

8	Tick the correct past form of the underlined word. Moti too **accompanies** them. a) accompany b) accompanied c) accompanying d) accompanied	b) accompanied
9	Choose the present form of the underlined word. Everyone was **relieved**. a) relieves b) releiving c) relievs d) relief	a) relieves
10	"Badal hugged and thanked Moti." Badal thanked and hugged Moti because _____. a) Moti played with him. b) Moti went to school with him. c) Moti saved him by finding him in the pit. d) Moti helped him in doing chores.	c) Moti saved him by finding him in the pit.

केन्द्रीय विद्यालय संगठन, जम्मू संभाग

KENDRIYA VIDYALAYA SANGATHAN, JAMMU REGION

LAT WORKSHEET
CLASS – III

SUBJECT – ENGLISH
CHAPTER NO. - 3
CHAPTER NAME – BEST FRIENDS

CLASSWORK

Q. No.	Question	Answer
1	Read the following lines and answer the question. "I am the best! I have four sides and all of them are equal in size." Guess and choose the correct shape. a) Rectangle b) Circle c) Star d) Square	d) Square
2	Which of the following is not true about a circle? a) I am round. b) I have no edges. c) I have no sides. d) I have 2 sides. 	d) I have 2 sides.
3	Tick the correct option to fill the blank in the given sentence. "I saw __ eagle yesterday." a) A b) The c) An d) We	c) An
4	Which among the following shapes has fewer than four sides? a) Rectangle b) Square c) Triangle d) Cube	c) Triangle
5	Which word cannot be made from the letters of 'TOGETHER'. a) Too b) To c) The d) Got	a) Too
6	Identify and tick the sentence which doesn't have an action word in it. a) The dog is barking. b) The students are studying. c) Today is a beautiful day. d) The man is smiling.	c) Today is a beautiful day.

7	Choose the word which doesn't have the same initial sound as children. a) Chat b) Chop c) Chirp d) Cradle	d) Cradle
8	Read the following sentences and answer the questions. "I have four sides. Two are equally long and two are equally short. Children enjoy biscuits and chocolates in rectangle shape" Choose the **true** statement a) Two are equally short. b) I have four equal sides. c) I have no edges. d) Two long sides are unequal.	a) Two are equally short.
9	In the above lines, 'I' refers to - a) Circle b) Biscuit c) Rectangle d) Square	c) Rectangle
10	Can Square be considered a rectangle? a) No b) Yes c) May be d) Not always	b) yes
11	Which word cannot be made from the letters of ' BEAUTIFUL' a) Be b) Fat c) At d) full	d) full
12	Read the lines and tick the opposite of the underlined word. "Listening to the other three friends, Rectangle laughed **<u>aloud</u>**" a) Shouting b) Noise c) Quiet d) Loudly	c) Quiet
13	Choose the present tense of the underlined word. "The friends realised their mistake and **<u>promised</u>** each other that they would never fight again" a) Promising b) Promised c) Promises d) Promise	d) Promise
14	Tick the correct vowel to complete the given word meaningfully. M_STAKE a) O b) E c) I d) U	c) I
15	Tick the sentence which is **not** grammatically correct. a) I saw an brown hen. b) I saw an elephant in the zoo. c) A dog is barking. d) Mary ate an apricot	b) I saw an brown hen.

HOMEWORK

Q. No.	Question	Answer
1	Which of the following sentences doesn't have an action word. a) We run and bark. b) We jump and swing. c) We chirp and sing. d) We are birds.	d) We are birds
2	Arrange the following shapes into alphabetical order and choose the correct answer. SQUARE RECTANGLE CIRCLE TRIANGLE a) Rectangle, circle, triangle, square b) Circle, square, rectangle, triangle c) Circle, Triangle, Square,Rectangle d) Circle, Rectangle, Square,Triangle	d) Circle, Rectangle, Square, Triangle
2	'FOOTBALL' is made by two different words FOOT and BALL.' **BEAUTIFUL RAINBOW BETWEEN TOGETHER** Which word can be broken into two different meaningful words? a) BEAUTIFUL b) RAINBOW c) BETWEEN d) TOGETHER	b) RAINBOW
3	Read the given line and find the meaning of the underlined word. The other shapes **refused** to agree with the circle. a) agree b) accept c) disagreed d) except	c) disagreed
4	Choose the correct punctuation mark to fill in the blank. Then why should you fight__ a) ? b) , c) . d) ;	a) ?
5	Tick the present form of the underlined word. "They **decided** to ask the first person they meet." a) Decide b) Decides c) Deciding d) Decided	a) Decide
6	Unscramble the letters to form a valid English word. NWOREDS a) SWOREND b) WENDORS c) WONDERS d) RENDOWS	c) WONDERS

7	Tick the correct spelling from the given options. a) Dezign b) Design c) Disegn d) Desiegn	b) Design
8	Choose the option that **doesn't** have an adjective. a) Beautiful pictures. b) Amazing designs. c) Wise star. d) Draw mountains.	d) Draw mountains
9	Choose the word that will come in 3rd position in the dictionary. Children Circle Course Create a) Children b) Circle c) Course d) Create	c) course
10	Identify the action word in the given sentence. "Children use me to draw mountains." a) Children b) Draw c) Mountains d) Me	b) Draw

केन्द्रीय विद्यालय संगठन, जम्मू संभाग

KENDRIYA VIDYALAYA SANGATHAN, JAMMU REGION

LAT WORKSHEET
CLASS – III

SUBJECT - ENGLISH
CHAPTER NO. - 4
CHAPTER NAME - OUT IN THE GARDEN

CLASSWORK

Q. No.	Question	Answer
1	Read the lines carefully and answer the questions (1to5) Out in the garden. Each fine day. with my ball, I like to play. Children like to play with _____ a) Garden b) Ball c) Bat d) Doll	b) Ball
2	I play during the day and sleep at _____. Choose the opposite word for "Day". a) Play b) Say c) Night d) Daylight	c) Night
3	Where are the children playing? a) Park b) Garden c) School d) Home	b) Garden
4	Which type of game are children playing? a) Indoor game b) Outdoor game c) A & b d) None of above	b) Outdoor game
5	Which punctuation mark should be used in this line? "I like to play in the garden" a) . b) , c) ? d) !	a) .
6	Choose the option that is not an action word. a) Throw b) Garden c) Catch d) Bounce	b) Garden

7	I fly in the air without engines and controlled by a man on the ground. What am I? a) Ball b) Kite c) Girl d) Garden	b) Kite
8	Read all the options and choose a pair of action words. a) Girl and boy b) Sing and dance c) Man and woman d) Tyres and marbles	b) Sing and dance
9	Do mind reading all the options and choose the rhyming word for “BOUNCE”. a) Round b) Sound c) Pronounce d) Ball	c) Pronounce
10	Identify the action shown in the picture. a) Jumping b) Sliding c) Catching a butterfly d) Flying a kite	b) Sliding
11	Which of the following is an indoor game? a) Hitting marbles b) Playing stapu c) Playing chess d) Playing tug-of-war	c) Playing chess
12	Observe the picture and fill up the blanks. Rohan is _____the tyre. a) Moving b) Sliding c) Rolling d) Touching	c) Rolling
13	Observe the picture and complete the sentence with the correct pair of action words. Children are _____and _____ the ball. a) Singing and dancing b) Running and walking c) Throwing and catching d) Eating and drinking	c) Throwing and catching
14	Observe the picture and complete the sentence using the correct option. In community lunch, we _____and _____to her carefully. a) Stand and eat b) Cut and paste c) Speak and laugh d) Eat and laugh	d) Eat and laugh
15	Choose the option that has the “id” sound. a) Skip b) Slide c) Jump d) Swing	b) Slide

HOMEWORK

Q. No.	Question	Answer
1	Read the lines carefully and answer the following question. I tug my kite, I pulled my kite. I fly my kite, On each fine day. Which of the following action words is represented in the above lines? a) Tug b) Pull c) Fly d) All of the above	d) All of the above
2	In the above lines, "I'' refers to a) The kite b) The child c) The fly d) None of the above	b) The child
3	Choose the rhyming word for "Fly". a) Flower b) Lie c) Run d) Flying	b) Lie
4	"Children are pulling the rope". Which picture depicts this sentence? a) b) c) d)	c)
5	Which of the following can fly in the sky? a) Birds b) Butterfly c) Kite d) All of the above	d) All of the above
6	I <u>catch</u> my ball, On each fine day. Tick the opposite of the underlined word. a) Match b) Bath c) Throw d) Play	c) Throw

7	Observe the picture and name the game. a) Tug of war b) Poshampa c) Snake and ladder d) Kabaddi 	b) Poshampa
8	Choose the correct meaning of “sway”. a) To move slowly from side to side b) To jump up and down continuously c) To move something smoothly d) To put something quickly.	a) To move slowly from side to side
9	Choose the word that has ‘it’ sound. a) Skip b) Dip c) Kite d) Slide	c) Kite
10	<u>Sourav</u> went to the school. In the above sentence, underlined word is a----------: a) Action word b) Naming word c) Describing word d) None of the above	b) Naming word

केन्द्रीय विद्यालय संगठन, जम्मू संभाग

KENDRIYA VIDYALAYA SANGATHAN, JAMMU REGION

LAT WORKSHEET
CLASS - III

SUBJECT - ENGLISH
CHAPTER NO. - 5
CHAPTER NAME – TALKING TOYS

CLASSWORK

Q. No.	Question	Answer
1	Read the lines carefully and answer the questions. (1to5) It was a holiday. The local market was full of people. The toy shop opened at 9 a.m. There were many toys like wooden toys, soft toys, board games, bat & ball and many others. At what time the toy shop opened? a) 8 a.m. b) 9 a.m. c) 9 p.m. d) 8 p.m.	b) 9 a.m.
2	Which toy is not mentioned in the above lines? a) Wooden toys b) Board games c) Soft toys d) Vande Bharat train	d) Vande Bharat train
3	"It was a holiday" according to you, which day it can be? a) Monday b) Tuesday c) Wednesday d) Sunday	d) Sunday
4	Choose the describing word given for "toys" in the above lines. a) Wooden b) Soft c) Both a & b d) None of the above	c) Both a & b
5	Observe the picture & choose the toy that was not present at the toy shop. a) . b) c) d)	d) chess

6	Read the questions (6 to 15) carefully and choose the correct answer. “After sometime a girl and a little boy stopped”. In the above sentence, which word is a describing word? a) After b) Little c) Girl d) Boy	b) Little
7	Which of the following toy can join using “and” a) Wooden toys b) Board games c) Soft toys d) Bat ball	d) Bat ball
8	“Namaste! How may I help you?” Which punctuation marks have been used in the above sentence. a) “ “ b) ! c) ? d) All of the above	d) All of the above
9	Choose the correct plural for the given picture. a) Bus b) Buses c) Buy d) Bush 	b) Buses
10	Choose the picture that sounds like the letter ‘B’. a) b) c) d)	c) Bus
11	Which colour name is hidden in the word “COLOURED”. a) Orange b) Purple c) Red d) Pink	c) Red
12	Choose the suitable describing word for “Water”. a) Long b) Clean c) Short d) Old	b) Clean
13	Observe the picture and choose a channapatna toy. a) b)  c) d)	b)

14	The children _____ the toys. Fill the past form of "buy" in the above sentence. a) Shy b) Sell c) Hi d) Bought	d) Bought
15	Choose the option that is in a singular form. a) Buses b) Trains c) Child d) Marbles	c) Child

HOMEWORK

Q. No.	Question	Answer
1	Read the lines and answer the questions. (1to5) The girl pointed at the board games displayed in the shop. Finally, she chose the game 'Snakes and Ladders'. What does the girl choose to buy? a) Bus b) Snakes c) Ladders d) Snakes and Ladders	d) Snakes and Ladders
2	Where does the girl point at? a) Toys b) Doll c) Train d) Board games	d) Board games
3	I went to the market and <u>chose</u> a dress. "Underlined word " is the past form of _____. a) Choose b) Chocolate c) Chop d) None of the above	a) Choose
4	"Finally, she chose the game". Here "She" refers to a a) Board games b) Girl c) Snakes and Ladders d) Shop	b) Girl
5	Choose the "Naming word" from the following options. a) Point b) Display c) Snakes and Ladders d) Chose	c) Snakes and Ladders
6	Read the lines carefully and answer the questions. (6 to10) Red and green Yellow and brown My top goes round and round. These lines are describing a :- a) Red b) Green c) Top d) Round	c) Top

7	<u>Children</u> are going to market. Choose the correct singular for underlined word. a) Childs b) Child c) Students d) Kid	b) Child
8	Choose the meaning of the word “Excitement”. a) The state of sadness b) In a hurry c) The state of being excited d) Looking angrily	c) The state of being excited
9	In the park,I saw a _____tree. Observe the picture and choose the correct describing word for the sentence. a) Clean b) Tall c) Busy d) Dirty 	b) Tall
10	Observe the pictures and choose the KONDAPALLI DANCING DOLL. a) b) c) d)	b)

केन्द्रीय विद्यालय संगठन, जम्मू संभाग

KENDRIYA VIDYALAYA SANGATHAN, JAMMU REGION

LAT WORKSHEET
CLASS - III

SUBJECT - ENGLISH
CHAPTER NO. - 6
CHAPTER NAME – PAPER BOAT

CLASSWORK

Q. No.	Question	Answer
1	Read the lines carefully and answer the questions (1-2). Meena walked towards the stream near the bamboo bridge. She bent a little and put a paper boat in the water. Meena was delighted as the boat floated down, she saw a naughty boy pushing the boats into the water. What was floating in the stream? a) Meena b) Paper boat c) Boy d) Bamboo bridge	b) Paper boat
2	Observe the picture and choose the bridge mentioned in the above line. a) b) c) d)	c) Bamboo bridge
3	Choose the synonym of the word “delighted.” a) Sad b) Angry c) Extremely happy d) Dull	c) Extremely happy
4	Meena bent a little and put a _____boat in the river. a) Wooden b) Paper c) Metal d) Iron	a) Paper
5	What was the boy doing with the boats? a) Pushing the boats b) Floating the boats c) Walking over the boat d) Benting the boats	a) Pushing the boats

6	Read carefully and answer the question. COLOUR , CAR , CARROM , CROWD Which word comes in the third position in the dictionary? a) Colour b) Carrom c) Crowd d) Car	a) Colour
7	In the line "The boy said, "I will not do it again,"' who does "I" refer to? a) Meena b) Boat c) Boy d) Stream	c) Boy
8	Observe the picture and fill in the blank. The ball is _____ the table. a) On b) Under c) Behind d) In	b) Under
9	What do you get when you add "ly" to the word "happy"? a) Happily b) Happiy c) Happyly d) Happyily	a) Happily
10	"The ball is **on** the chair." Choose the correct picture that represents this sentence. a) 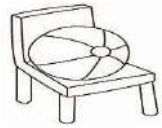 b) 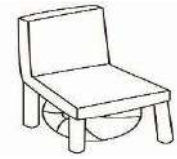 c) d)	a)
11	"Why are you overturning the paper boats____" Which punctuation mark should be used in the sentence? a) . b) ! c) ? d) ,	c) ?
12	Choose the item that would sink in the river. a) Paper boat b) Ice-cream stick c) Stone d) Packet of chips	c) Stone
13	"Snowman" is made up of two words: snow + man. Select the option that is not made up of two words. a) Football b) Moonlight c) Biscuit d) Bedroom	c) Biscuit
14	"Rohan goes to school every day. Rohan likes reading stories." Which word can replace "Rohan" in the sentence? a) He b) She c) I d) Me	a) He

15	"You just **stop** overturning my boats." Choose the opposite of the underlined word. a) Start b) End c) Point d) Top	a) Start

HOMEWORK

Q. No.	Question	Answer
1	Read the lines and answer the questions. (1-2) Meena took out coloured paper of different sizes, she showed the boy how to fold and re-fold the paper to make a boat. Then he took a piece of paper and started to make a paper boat. What does Meena use to make a boat? a) Coloured paper b) White paper c) Both a & b d) None of the above	a) Coloured paper
2	In the above lines, "He" refers to: a) Meena b) Paper c) Boat d) Boy	d) Boy
3	Read carefully and answer the questions. (3-10) Choose the correct plural of "Size." a) Wise b) Sizes c) Rise d) Lies	b) Sizes
4	Which option is hidden in the word "DIFFERENT"? a) Friend b) Trend c) Fight d) Right	b) Trend
5	Please **take** your umbrella with you, it looks like it might rain. Choose the past form of the underlined word "Take." a) Make b) Lake c) Took d) Taked	c) Took
6	Observe the picture and fill in the blank: "Children are enjoying the _____." a) Swing b) Slide c) See-saw d) None of the above 	c) See-saw
7	Choose the words that can be used instead of naming words. a) He b) She c) Both a & b d) None of the above	c) Both a & b

8	Observe the picture and select its plural. a) Oranges b) Mangos c) Mangoes d) Apples	c) Mangoes
9	"In the sentence, 'Mohan went to his friend's house and then _____ back to his own house,' what is the opposite of 'went'?" a) Go b) Gone c) Come d) Came	d) Came
10	Boy: _____. Meena: Yes, I will help you. What will be the question of the boy? a) Where are you going? b) What is your name? c) Will you help me? d) Can we be friends?	c) Will you help me

केन्द्रीय विद्यालय संगठन, जम्मू संभाग

KENDRIYA VIDYALAYA SANGATHAN, JAMMU REGION

LAT WORKSHEET
CLASS - III

SUBJECT - ENGLISH
CHAPTER NO. - 7
CHAPTER NAME - THE BIG LADDOO

CLASSWORK

Q. No.	Question	Answer
1	INSTRUCTIONS: - Question 1 and 2 are on the basis of given comprehension passage. If all the laddoos were one Laddoo Oh! What a BIG Laddoo it would be! If all the children were one child Oh! What a BIG child that would be! If all the seas were one sea Oh! What a BIG sea it would be! What do we call a 'large salty water body?' a) Would b) Sea c) Big d) Laddoo	b) Sea
2	Identify the punctuation mark used in the following sentence: Oh! What a BIG sea it would be! a) Exclamation sign b) Question Mark c) Full Stop d) None of these	a) Exclamation sign
3	One day ,while visiting the market; I came across a poster there but I could not identify which shop this poster belonged to. Please help me to know which shop this poster belongs to? a) Beauty Parlour b) Sweets shop c) Grocery shop d) Electronics shop	b) Sweets shop

4	What is shown in the given picture? a) Farming b) Painting c) Artwork d) None of these 	a) Farming
5	Here is a girl in the picture who cannot see but she recognizes the laddu from the box of sweets without eating it which surprised me a lot. Tell me how did the girl recognize the laddu? a) Touching its round shape b) Touching its rough surface c) Smelling it d) By all of the above 	d) By all of the above
6	I am heavier than a goat. What am I a) Cat b) Frog c) Bull d) Rabbit	c) Bull
7	Observe the following pictures and tell which of these is the lightest of all? a) b) c) d)	a) Feather
8	Which adjective degree is the most appropriate for the following? A sea is _____ than a pond. a) Biggest b) Bigger c) Big d) None of these	b) Bigger
9	Choose the appropriate word to fill in the given blanks: …….. is…….... in shape. a) Laddoo, round b) Jalebi, square c) Laddoo, rectangular d) Jalebi, triangular 	a) Laddoo, round

10	Which of the following adjective is not suitable for a laddoo? a) Bitter b) Sweet c) Round d) Sugary	a) Bitter
11	Which is the most famous sweet of the festival shown in the picture? a) Cake b) Pongal Bhat c) Gujiya d) Sewaiyan 	b) Pongal Bhat
12	To prepare Khichdi, which ingredient is not required: a) Rice b) Lentils c) Vegetables d) Milk	d) Milk
13	Choose an adjective from the given sentence: The child threw the big laddoo into the sea. a) Child b) Laddo c) Big d) Sea	c) Big
14	What is not true about festivals? a) Festivals help us to stay together. b) They bring happiness and joy in our lives. c) We prepare many sweets and dishes during the festivals. d) It is mandatory to all to celebrate all the festivals.	d) It is mandatory to all to celebrate all the festivals.
15	Tick a word from the following that is not the rhyming word of the underlined word: Oh! What a BIG sea it <u>would</u> be! a) Wood b) Good c) Should d) World	d) World

HOMEWORK

Q. No.	Question	Answer
1	The poem 'The Big Laddoo' is based on child's a) Reality b) Imagination c) Habits d) None of these	b) Imagination
2	Fill the blank using the feminine gender of underlined word: The <u>lion</u> and _____work together to protect their pride from danger. a) Lions b) Lioness c) Lonely d) Tiger	b) Lioness

3	I am round in shape and can also be eaten. What am I? a) Brick b) Gulab Jamun c) Marble d) Jalebi	b) Gulab Jamun
4	What is the sound made when the Laddoo is thrown into the sea? a) Bubbling b) Splish- splash c) Tinkle d) Gurgle	b) Splish-splash
5	Flying kites is popular during which festival? a) Makar Sankranti b) Diwali c) Holi d) Pongal	a) Makar Sankranti
6	Choose the correct word to make the pair with underlined word: We should not work merely for <u>bread</u> and …… a) Ghee b) Potato c) Butter d) Jam	c) Butter
7	Which word can be formed using given jumbled letter? LSASPH a) Splash b) Splish c) Splashing d) Shape	a) Splash
8	An iron nail sinks in the water while a _____ floats on the water. a) A piece of wood b) A coin c) A piece of stone d) An eraser	a) A piece of wood
9	He marked the <u>wrong</u> answer. Which word has the same sound as the 'WR' in wrong? a) Word b) Who c) Writing d) Weather	c) Writing
10	Read the given lines and answer the question that follows: And if the big <u>child</u> Picked the big <u>laddoo</u> And threw it into the big <u>sea.</u> The underlined words in these lines are: a) Nouns b) Verbs c) Pronouns d) Prepositions	a) Nouns

केन्द्रीय विद्यालय संगठन, जम्मू संभाग

KENDRIYA VIDYALAYA SANGATHAN, JAMMU REGION

LAT WORKSHEET
CLASS - III

SUBJECT - ENGLISH
CHAPTER NO. - 8
CHAPTER NAME – THANK GOD

CLASSWORK

Q. No.	Question	Answer
1	INSTRUCTIONS: Question 1 and 2 are on the basis of following passage: When the fruits were all ripe and ready to be eaten, the farmer decided to gift the best fruit to the king." The farmer thought about it and said, "Since it is a long journey to the palace. Questions: When is a fruit ready to eat? a) When it is unripe. b) When it is ripe. c) When it turns pink. d) All of the above.	b) When it is ripe
2	What is the king's residence called? a) Home b) House c) Place d) Palace	d) Palace
3	Which of the following is different from others? a) b)  c) d)	c) Cauliflower
4	Tick the "t" sound word from the given below words: a) Handkerchief b) Journey c) Replied d) Watermelon	d) Watermelon

5	In the given picture, the king is …… a grape at the farmer. a) Throwing b) Catching c) Seeing d) Growing 	a) Throwing
6	Observe the give poster and answer question 6 to 8 on the basis of the poster: 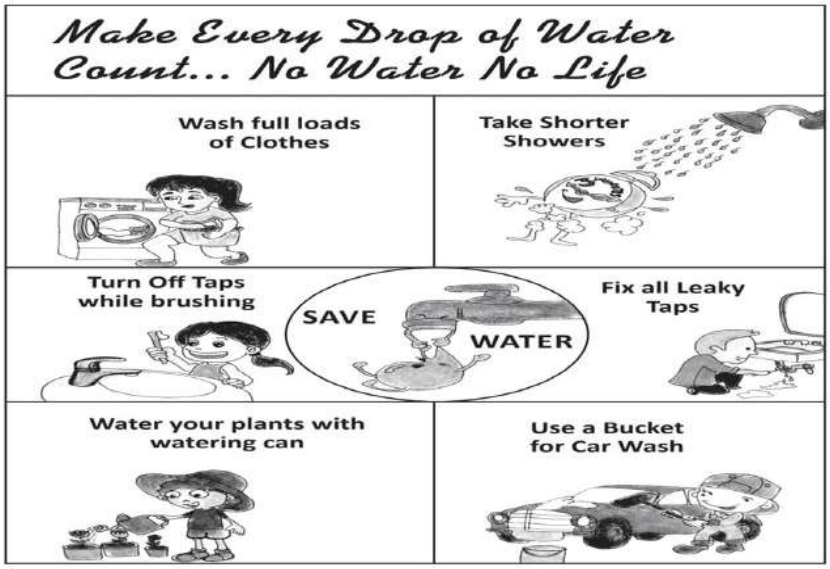 This poster is about _____. a) Planting trees b) Saving water c) Washing cars d) Taking bath	. b) Saving water
7	We _____water if we don't wash full loads of clothes. a) Save b) Drink c) Waste d) Dirty	c) Waste
8	Life would be very_____ without water. a) Funny b) Easy c) Enjoyable d) Difficult	d) Difficult
9	Which word can be made by unjumbling the given jumbled words? RAFEMR a) Farmer b) Remember c) Farming d) Mermaid	a) Farmer

10	In the given picture, the farmer cultivated grapes. Look and tell what a grape plant is? a) Creeper b) Climber c) Herb d) Shrub 	b) Climber
11	My brother has a <u>thick</u> book while I have a _____ book. a) Thin b) Fat c) Long d) Short	a) Thin
12	Tick the correctly spelt word from the following. a) Spacial b) Journey c) Playfuly d) Palece	d) Journey
13	What is the primary lesson taught by the story "Thank God"? a) Watermelons are better than grapes. b) Be wise in decision- making and show gratitude. c) Always bring gifts to the king. d) Avoid playful behaviour in front of the king.	b) Be wise in decision-making and show gratitude
14	My father told me that the watermelon is <u>heavy</u> and the banana is..... a) Pink b) Slow c) Light d) Fast	c) Light
15	Identify the name of the fruit based on the given clues: It is a large and oval shaped fruit. Its thick cover is green in colour and the edible inner part is red in colour. It contains black seeds. a) Watermelon b) Muskmelon c) Guava d) Mango.	a) Watermelon

HOMEWORK

Q. No.	Question	Answer
1	The fruits <u>are</u> in the basket while the bag……. on the table. a) Are b) Is c) Has d) Had	b) Is

2	Which could be the most appropriate word to fill in the given blank? My dad is wearing a suit and a ……. a) Saree b) Flies c) Frock d) Tie	d) Tie
3	The underlined words in the sentences given below are: The farmer placed the basket of grapes in front of the king. a) Nouns b) Pronouns c) Verbs d) Adjectives	a) Nouns
4	The person shown in the picture is a: a) Doctor b) Teacher c) King d) Farmer	d) Farmer
5	What did the farmer do when the king questioned his gratitude? a) He ignored the king's question. b) He laughed at the king's confusion. c) He explained why he was grateful. d) He Apologized for his reaction.	c) He explained why he was grateful
6	Why did the farmer decide to take grapes instead of watermelons? a) Grapes were easier to grow. b) Watermelons were too heavy for the journey. c) The king preferred grapes. d) The farmer did not like watermelons.	b) Watermelons were too heavy for the journey.
7	What did the farmer say each time a grape hit him? a) "Ouch!" b) "Thank God!" c) "Stop it!" d) "I'm leaving!"	b) "Thank God!"
8	There……many animals in the jungle. a) is b) are c) has d) it	b) Are
9	Which of the following things reaches us due to a farmer's hard work a) Vegetables b) Grains c) Fruits d) All of these	d) All of these
10	Which of the following is different from others? a) Watermelon b) Strawberry c) Laddoo d) Litchi	c) Laddoo

केन्द्रीय विद्यालय संगठन, जम्मू संभाग

KENDRIYA VIDYALAYA SANGATHAN, JAMMU REGION

LAT WORKSHEET
CLASS - III

SUBJECT – ENGLISH
CHAPTER NO. - 9
CHAPTER NAME - MADHU'S WISH

CLASSWORK

Q. No.	Question	Answer
1	INSTRUCTIONS: Question 1 to 5 are on the basis of following comprehension passage : A jug of water appeared. Thirsty, Madhu drank as though he had never seen water. His hiccups stopped. He was no longer thirsty. What problem did Madhu have? a) He was hungry. b) He had hiccups. c) He was tired. d) He had hiccups.	b) He had hiccups
2	Tick the past form of drink. a) Drunk b) Drinking c) Drank d) Drinked	c) Drank
3	How did Madhu's hiccups stop? a) He slept. b) He ate. c) He drank water. d) He started walking.	c) He drank water.
4	How was Madhu feeling? a) Happy b) Sad c) Thirsty d) Crazy	c) Thirsty
5	What happened after Madhu drank the jug of water? a) He became hungrier. b) His hiccups stopped. c) He asked for more food. d) He felt sleepy.	b) His hiccups stopped
6	Tick the correct option to fill in the blank. Madhu first received a basket of _____ from the banyan tree. a) Fruits b) Kheer c) Laddoos d) Badam milk	c) Laddoos

7	What is the pronoun used to replace "Madhu" in the given sentence? "He was no longer thirsty." a) He b) Him c) His d) They	a) He
8	Which of the following is the opposite of the underline word? He was never <u>tired</u> of eating. a) Sleepy b) Thirsty c) Hungry d) Energetic	d) Energetic
9	After eating laddoo's, what did Madhu ask for next? a) More laddoos b) Colourful fruits c) A basket d) Ice cream	b) Colourful fruits
10	Choose the correct meaning of "Savouries"? a) Snacks b) Vegetables c) Fruits d) Water 	a) Snacks
11	Which of the following is the rhyming of the underlined word? My child, you have been so <u>kind</u>. a) Peace b) Love c) Mind d) Joy	c) Mind
12	Choose the word that will come in second position in the dictionary. a) HE b) HER c) HEARD d) HAPPILY	a) HE
13	Tick the correctly spelt word. a) Appared b) Appaered c) Apeared d) Appeared	d) Appeared
14	"He was never tired of eating. Every day, at noon, he would sit under a _____tree and eat his lunch." Where did Madhu sit everyday to eat his lunch? a) Under a banyan tree. b) Under a coconut tree. c) Under an apple tree. d) Under a neem tree 	a) Under a banyan tree.
15	"One day, as he was eating, an old man came. Madhu felt sorry for him and shared his _____ with him." What did Madhu share with the old man who approached him? a)Money b) Clothes c)Toys d) Food	d) Food

HOMEWORK

Q. No.	Question	Answer
1	Which word cannot be made from the letters of 'THINKING'? a) KING b) FAT c) INK d) THIN	b) FAT
2	What did Madhu finally wish for from the mystical banyan tree? a) More food b) Endless wealth c) Eternal happiness d) Water	a) More food
3	What did Madhu realize about the importance of water? a) Water is unnecessary. b) Water is more important than food. c) Water is not available. d) Water is essential and cannot be replaced.	d) Water is essential and cannot be replaced
4	The underline words in the sentences given below are :- He started eating them. There were <u>grapes, mangoes, apples, banana, guava, oranges.</u> a)Vegetables b) Fruits c) Grains d) Dry fruits	b) Fruits
5	Which punctuation mark can be used after the word 'Oh tree' in the following sentence? Oh tree let me have different types of food. a) ? b) ! c) , d) .	c) ,
6	Choose the word which does not have the same initial sound as RETURN. a) RELEARN b) REBURN c)RERUN d) RESTORE	d) RESTORE
7	Fill in the blank using correct article: __ jug of water appeared. a) An b) The c) A d) None	c) A
8	Read the given line and answer the question: He thought of colourful <u>fruits.</u> Choose the correct describing word of the underlined word. a) Colourful b) Thought c) He d) None	a) Colourful

9	Tick the plural of the underlined word. A <u>basket</u> full of fruits. a) Basketes b) Baskets c) Basketed d) Basketies 	b) Baskets
10	Choose the word that is not noun in the given sentence. Madhu got grapes and many others fruits. a) Fruits b) Grapes c) Madhu d) And	d) And

केन्द्रीय विद्यालय संगठन, जम्मू संभाग

KENDRIYA VIDYALAYA SANGATHAN, JAMMU REGION

LAT WORKSHEET
CLASS -III

SUBJECT - ENGLISH
CHAPTER NO. - 10
CHAPTER NAME - NIGHT

CLASSWORK

Q. No.	Question	Answer
1	Read the lines and answer the question. The sun that shines all day so bright. I wonder where it goes at night. What shines all the day? a) Night b) Sun c) Day d) Wonder	b) Sun
2	Mark the past form of the underlined verb. The sun **sinks** behind a distant hill. a) Sunk b) Sank c) Sinks d) Sanked 	b) Sank
3	Read the sentence and answer the question. Tick the opposite of the underlined word. Everynight, I **go** to bed when my father_____ home from office. a) Went b) Gone. c) Came d) Comes	d) Comes
4	Choose the option that doesn't describe the sun. a) Shiny b) Bright c) Dark d) Yellow	c) Dark
5	Look at the picture carefully and identify the action. A girl is _____ in the night. a) sweeping b) sleeping c) awakening d) swimming 	b) sleeping
6	Mark the past form of the underlined word. I **see** the sun is shining down on me. a) saw b) see c) seen d) seed	a) saw

7	Which word can be meaningful by adding “sun” before the word. a) sunspoon b) sunsky c) sunlight d) sunstair	c) sunlight
8	Choose the correct word to replace the underlined naming word. The sun that shines all day so bright. **<u>Sun</u>** sinks behind a distant hill. a) she b) He c) It d) They	c) It
9	Read the sentence carefully and tick the synonym (similar) meaning of underlined word. The sun sinks behind a **<u>distant</u>** hill. a) near b) far c) close d) recent	b) far
10	Read the sentence and tick the rhyming word of underlined word. The day begins to **<u>peep</u>**. a) sleep b) day c) begins d) the	a) sleep
11	Read the sentence and tick the correct article. _____Sun is shining down on me. a) A b) An c) The d) None	c) The
12	Observe the pictures and tick the things that you can count easily. a) wheats in a plate b) hair c) starts d) oranges 	d) oranges
13	Read the riddle carefully and tick the correct answer. I may be full, floating white or grey above, I can bring a rain. What am I? a) sun b) moon c) Tree d) Clouds	d) Clouds

14	Read the riddle carefully and tick the correct answer. So high above the world, twinkling like diamonds in the night sky. What am I? a) sun b) moon c) stars d) Cloud	c) stars
15	Read the sentence carefully and mark the opposite word of underlined word. All the world grows **dark** and still. a) bright b) fight c) grow d) still	a) bright

HOMEWORK

Q. No.	Question	Answer
1	Read the sentence and tick the correct option. Raman is an _____boy. a) sweet b) naughty c) smart d) honest	d) honest
2	Read the lines and choose the correct describing word for underlined word.. Deep in the forest stood a very tall tree. Its leafy **branches** spread all around. a) Deep b) spread c) all d) leafy	d) leafy
3	Read the sentence carefully and mark the feminine gender of underlined word:- A **man** is walking on the road. a) Men b) mans c) woman d) female	(c) woman
4	Read the sentence carefully and Identify the underlined word. **I** go to bed and sleep. a) noun b) pronoun c) adjective d) verb	b) pronoun
5	Read the lines and answer the question. Let's play a fun game called "I spy"! We are going to take turns to be spies. Mark the name of the game. a) play b) I spy c) spies d) Game	b) I spy
6	Mark the proper noun from the following sentence. The Ganga is a holy river. a) The b) holy c) river d) Ganga	d) Ganga

7	Fill in the blank with correct proposition. The frog is going to jump _____ the water. a) In b) on c) into d) with	c) into
8	Read the sentence and choose the adjective for the “Night". The bright moon is shining in the dark night and little stars are twinkling. a) bright b) dark c) moon d) little	b) dark
9	Tick the statement that is not true about sun. a) The shines all the day. b) The sun goes at night. c) The sun rises in the west. d) The sun sets in the west.	c) The sun rises in the west.
10	Write the similar meaning of the underlined word. I **wonder** where it goes at night. a) buy b) happy c) Think d) end	c) Think

केन्द्रीय विद्यालय संगठन, जम्मू संभाग

KENDRIYA VIDYALAYA SANGATHAN, JAMMU REGION

LAT WORKSHEET
CLASS – III

SUBJECT - ENGLISH
CHAPTER NO. - 11
CHAPTER NAME - CHANDA MAMA COUNT THE STARS.

CLASSWORK

Q. No.	Question	Answer
1	Read the following sentence and write the similar meaning of underlined word. The sun **peeps** out from behind the cloud. a) Dusk b) Dawn c) Glance d) Shing	c) Glance
2	Read the sentences and answer the questions. Chanda Mama was happy! Now the moon came out every night. He would look at star. Who was happy? a) Sun b) Stars c) Night d) Moon	d) Moon
3	Read the lines and answer the questions. Chanda Mama was happy! Now the moon came out every night. He would look at star. Who came out every night? a) Sun b) Moon c) Stars d) Sky	b) Moon
4	Make the present form of underlined word. Chanda Mama **woke up** in the evening. a) Waked up b) Wake up c) Woken up d) Woked up	b) Wake up
5	Read the lines and tick the correct answer. Chanda Mama _____ counting the stars. a) are b) was c) were d) have	b) was
6	Read the lines and choose the correct describing word for moon. The beautiful moon come out every night and looked at the twinkling stars. a) every b) twinkling c) stars d) Beautiful	d) Beautiful

7	Choose the correct word to replace the underlined. Meena is a good girl. Meena lives in Delhi. a) He b) Her c) They d) She	d)She
8	Choose the correct word to replace the underlined naming words. Ravi and Rohan are good friends. Ravi and Rohan are neighbours also. a). We b) they c) He d) them	b) they
9	Tick the rhyming word of underlined word. How many stars there are in the sky? a) cry b) stars c) there d) many	a) cry
10	Read the sentence carefully and fill in the blank with correct option. _____ is a book and _____ is a bus. a) Here , here b) There , there c) Here , there d) there , here	c) Here, there
11	Read the lines and Choose the correct helping verb for the blank. Children_____ playing in the garden. a) is b) was c)has d) are	d) are
12	Write the opposite word of underlined word. Chanda Mama said, "I am **never** able to complete my counting." a) always b) at no time c) not ever d)not once	a) always
13	Read the sentence carefully and mark the correct articles. Moon continued to count_____ stars at night. a) a b) an c) The d) None	c) The

14	Look at the picture carefully and answer the question. What information does this picture tells us about? a) People are enjoying in a fair. b) People are enjoying in a park. c) People are working in a office. d) People are reading a school. 	b) People are enjoying in a park.
15	Read the lines and tick the opposite of underlined word for the blank. Chanda Mama was **sad** because he was unable to count the stars but Sun was _____ because he knows the number of stars. a) happy b) horrified c) amazed d) afraid	a) happy

HOMEWORK

Q. No.	Question	Answer
1	Read the passage carefully and Answer the Question the question that are given below. One night, he was Moon was very upset. He began to cry. "Ooohh... Ooohh.. What is this? I am never able to complete my counting." On seeing his tears, the sun smiled, "Don't worry! Why do you cry? I can tell you how many stars there are in the sky." Who was upset at night? a) Sun b) Stars c)sky d) Moon	d) Moon
2	Read the passage carefully and Answer the Question the question that are given below. One night, he was Moon was very upset. He began to cry. "Ooohh... Ooohh.. What is this? I am never able to complete my counting." On seeing his tears, the sun smiled, "Don't worry! Why do you cry? I can tell you how many stars there are in the sky." Who was not able to complete the counting? a) Sun b) Stars c) Moon d) Sky	c) Moon
4	Identify the picture. a) Railway station b) Taxi stand c) Bus stand d) Airport 	a)Railway station

5	Arrange the given words in the meaning sequence and tick the correct option. We / respect /teachers/ should /our. a) We our teachers should respect. b) Our teachers should respect we. c) We should respect our teachers. d) Should respect teachers our.	c) we should respect our teachers.
6	Read the passage carefully and Answer the Question the question that are given below. One night, he was Moon was very upset. He began to cry. "Ooohh... Ooohh.. What is this? I am never able to complete my counting." On seeing his tears, the sun smiled, "Don't worry! Why do you cry? I can tell you how many stars there are in the sky." Why was the moon crying? a) Because the sun smiled. b) Because the sun asked him question. c) Because the moon was unable to count the stars. d) Because the stars were naughty.	c) Because the moon was unable to count the stars.
7	Mark the verb from the given sentence. The Stars are twinkling in the big sky. a) Stars b) big c) sky d) twinkling	d) twinkling
8	Read the sentence and mark the correct option. There _____ many butterflies flying in the garden. a) are b) is c) was d) am 	a) are
9	Mark the similar word of underlined word . The boy was <u>surprised</u>. a) Happy b) sad c) astonished d) big	c) astonished
10	Choose the correct helping verb for blank. A girl _____ playing Kho-Kho. a) is b) are c) have d) has	a) is

केन्द्रीय विद्यालय संगठन, जम्मू संभाग

KENDRIYA VIDYALAYA SANGATHAN, JAMMU REGION

LAT WORKSHEET
CLASS – III

SUBJECT - ENGLISH
CHAPTER NO. - 12
CHAPTER NAME - CHANDRAYAN

CLASSWORK

Q. No.	Question	Answer
1	**Read the paragraph and answer the following questions from 1 to 2:-** There was a girl named Rani who lived in a village. She was very curious and used to ask many questions to her family, teachers and friends. One evening, Rani heard her mother singing… "Chanda mama door ke….." Hearing this, Rani asked her mother? Amma said, "Rani, the Moon is very far in the sky". What is the name of the girl? a) Rani b) Moon c) sky d) Mother	a) Rani
2	Who sang the Song - "Chanda Mama door ke..." a) Rani b) teacher c) Mother d) friend	c) mother
3	Read the sentence and mark the similar meaning of underlined word. Pratik **immediately** said, "I know aunty, it is a rocket." a) excited b) curious c) instantly d) amazed	c) instantly
4	Look at the picture carefully and answer the given question. What is the woman doing in this picture? a) She is playing with kids. b) She is dancing with kids. c) she is reading book. d) She is climbing on the tree. 	c) She is reading books.

5	Choose the correct degree of adjective and fill in the blank. Munna is _____ than his elder brother. a) Smart b) smarter c) Smartest d) More smart	b) smarter
6	Tick the correct pronoun for the given sentence. Rani looked at the TV. ____could see photos of some machines on the Moon a) He b) Her c)She d) they 	c)She
7	Tick the similar meaning for the underlined word. Pratik was pointing to the TV and shouting in <u>excitement</u>, "Look Rani, India is on the Moon!" a) boredom b) joy c) uninterested d) Casual	b) joy
8	Mark the present form for the underlined word. Nandini Aunty **<u>brought</u>** sharbat for the children. a) brang b) bring c) buy d) begun	b)bring
9	Fill in the blanks using correct article. I eat _____egg everyday. a) the b) a c) an d) None	c) an
10	Fill in the blank by forming words using the correct option. The Moon was counting _____ars in the sky. a) sk b)st c) sp d) sw	b) st
11	Read the lines carefully and tick the describing word for sky. Two Birds are flying in the blue sky. a) birds b) flying c) two d) blue	d) blue
12	Read the lines and choose the correct proper noun in the given the sentence. Oliver was a nine years old boy and lived with other homeless boys in the orphanage. a)Orphanage b) boy c)Oliver d) lived	c) Oliver
13	Fill in the blank by forming words using the correct option. I need a _____oon and a bowl for ____up. a) sk ,sp b)st , sp c) sp , so d) sw , so	c) sp , so

14	Read the rhyme and answer the question. On Monday I go to school. On Tuesday I walk to the pool. On Wednesday I clean my flat. On Thursday I feed my fish.  What does a child on Wednesday? a) The child goes to school. b) The child feeds his fish. c) The child walks to the pool d) The child cleans his flat.	d) The child clean his flat.
15	Look at the picture carefully and identify the object. a) Aeroplane b) Moon c) rocket d) Chandrayaan-3	d) Chandra yaan -3

HOMEWORK

Q. No.	Question	Answer
1	Read the lines and answer the questions . Nandini replied," Chandra mean moon and Yaan means Vehicle. On 14 July, 2023 India became the first country to land on the far side of the moon!" What is the meaning of Chandrayaan ? a) Sun vehicle b) fast vehicle c) space vehicle d) vehicle for moon.	d) vehicle for moon
2	Look at the picture carefully and identify the object. a) Aeroplane b) Moon c) rocket d) ship	c) rocket

3	Fill in the blank by forming word using the correct option, I need two ____oons of “Daal” a) sk b) Sw c) sp d) st	c) sp
4	Choose the word that is not noun in the following sentence. Rani replied," people say India is on the moon." a) Rani b) Moon c) India d) replied	(d) replied
5	Tick the plural of the underlined word. A <u>butterfly</u> has beautiful wings. a) butterflys b) butterflyies c)butterflies d)butters flys	c) butterflies
6	Read the lines and choose the opposite of underlined word for the blank. Rani woke up hearing the loud voice of her **<u>elder</u>** brother but her _____ brother is sleeping till now. a) elderest b) dearest c) younger d) older	c) younger
7	Identify the picture and tick the correct spelling. a) scientist b) sciantist c) Scientest d) sicentist 	a) scientist
8	Mark the past form of underlined word. Pratik <u>visits</u> Vivaan's house. a) visit b) visited c) visied d) vosted	b) visited
9	Choose the correct describing word for toy. A beautiful girl playing with her favourite toy in the big park. a) Beautiful b) big c) Favourite d) girl	c) Favourite
10	Choose the correct article. _____eagle flying in _____sky. a) a, an b) a, a b) the , the d) an, the 	d) an, the

HINDI

केंद्रीय विद्यालय संगठन, जम्मू संभाग
अधिगम उपलब्धि परीक्षा कार्यपत्रक
कक्षा–तीसरी

विषय – हिन्दी
पाठ संख्या- 1
पाठ का नाम : **सीखो**

कक्षाकार्य

क्रम संख्या	**प्रश्न**	**उत्तर**
1	सूरज की किरणों से हमें क्या सीखना चाहिए? क) रोना ख) गाना ग) लिखना घ) जगना और जगाना	घ) जगना और जगाना
2	फूलों से हमें क्या सीखना चाहिए? क) रोना ख) हँसना ग) लिखना घ) जागना	ख) हँसना
3	किससे हमें शीश झुकाना सीखना चाहिए? क) पहाड़ से ख) नदी से ग) तरु की डालियों से घ) फूलों से	ग) तरु की डालियों से
4	फूलों से नित हँसना सीखो, भोरों से नित _____ क) रोना ख) गाना ग) लिखना घ) जागना	ख) गाना
5	सीख हवा के झोंकों से लो, कोमल भाव_____? क) बहाना ख) गाना ग) लिखना घ) जागना	क) बहाना
6	दूध तथा पानी से सीखो मिलना और _____ ? क) रोना ख) गाना ग) लिखना घ) मिलाना	घ) मिलाना
7	जलधारा से जीवन पथ में रुकना सीखना चाहिए। क) कथन सही है ख) कथन गलत है ग) कथन कविता सीखो से संबंधित नहीं है घ) सभी विकल्प सही हैं	ख) कथन गलत है

8	कौन सा कथन सही है? क) फूलों से रोना सीखना चाहिए ख) धुंए से ऊंचाई पर चढ़ना सीखना चाहिए ग) लता और पेडों से नहीं सीखना चाहिए घ) सभी कथन गलत हैं	ख) धुंए से ऊंचाई पर चढ़ना सीखना चाहिए
9	मधुमक्खी से हमे क्या मिलता है? क) बिजली ख) शहद ग) आग घ) पटाखे	ख) शहद
10	जलधारा का सही अर्थ चुनो। क) रोना ख) लिखना ग) बहता पानी घ) जागना	ग) बहता पानी
11	दीपक हमें क्या देता है? क) रोना ख) गाना ग) लिखना घ) प्रकाश	घ) प्रकाश
12	हवा के झोंकों से हमें गाना सीखना चाहिए। क) कथन सही है | ख) कथन गलत है | ग) कथन कविता सीखो से संबंधित नहीं है | घ) सभी विकल्प सही हैं	ख) कथन गलत है |
13	लता और पेडों से सबको गले लगाना सीखना चाहिए? क) कथन सही है। ख) कथन गलत है। ग) कथन कविता सीखो से संबंधित नहीं है। घ) सभी विकल्प सही हैं।	क) कथन सही है।
14	कविता की किस पंक्ति में धरती का समानार्थक शब्द दिया गया है ? क) दीपक से सीखो जितना, हो सके अँधेरा हरना। ख) पृथ्वी से सीखो प्राणी की, सच्ची सेवा करना। ग) तरु की डालियों से नित सीखो शीश झुकाना झुकी घ) धुंए से सीखो हर दम, ऊंचे ही पर चढ़ना।	ख) पृथ्वी से सीखो प्राणी की सेवा करना।
15	पेड़ का समान अर्थ शब्द चुनो? क) वारी ख) जलध ग) तरु घ) पृथ्वी	ग) तरु

गृहकार्य

क्रम स.	प्रश्न	उत्तर
1	समान अर्थ वाले शब्दों का मिलान करो। I) सुमन अ) तरु II) वृक्ष ब) वायु III) रवि स) फूल IV) पवन ड) सूरज क) I) – स, II) – अ, III) – ड, IV) - ब ख) I) – ड, II) – स, III) – अ, IV) - ब ग) I) – स, II) – ड, III) – ब, IV) - अ घ) I) – ब, II) – अ, III) – ड, IV) – स	क) I) – स II) – अ III) – ड IV) - ब
2	तुक वाला शब्द जोड़ा चुनो? क) मिलना- सुनाओ ख) बड़ना– चढ़ना ग) तितली– फूल घ) गधा– गढ़ी	ख) बड़ना– चढ़ना
3	रिक्त स्थान भरो: दूध और पानी से सीखो _____ और _____ क) फटना और फटाना ख) जोड़ना और जुड़वाना ग) लिखना और मिटाना घ) मिलना और मिलाना	घ) मिलना और मिलाना
4	क्या होगा यदि सूरज न उगे ? क) दीपक नहीं जलेगा ख) धरती रुक जायेगी ग) बादल फट जायेगा घ) संसार में अंधेरा हो जायेगा	घ) संसार में अंधेरा हो जायेगा
5	दिये गए शब्द जोड़े को देख, समझकर मिलता हुआ शब्द जोड़ा चुनो। **मिलना - मिलाना** क) जागना– जीवन ख) सोचना -बूझ ग) जगना- जगाना घ) सभी विकल्प	ग) जगना- जगाना
6	**सीखो** शब्द में कौन सी मात्रा आई है? क) ए ख) इ ग) ई घ) ऊ	ग) ई
7	**नित** शब्द का अर्थ लिखो _____। क) कभी कभी ख) प्रतिदिन ग) नहीं घ) पेड़	ख) प्रतिदिन

8	सही वर्तनी चुनो क) प्राणि ख) परआणि ग) प्राणी घ) पीरानि	ग) प्राणी
9	पौधे के रंग बिरंगे भाग को क्या कहते हैं? क) फूल ख) जड़ ग) तना घ) डाली	क) फूल
10	पृथ्वी से हमें क्या सीखना चाहिए? क) रोना ख) प्राणी की सच्ची सेवा करना ग) दुख देना घ) सभी को जगाना	ख) प्राणी की सच्ची सेवा करना

पाठ संख्या - 2
पाठ का नाम- चींटी

कक्षाकार्य

क्रम सं	प्रश्न	उत्तर
1	**रिक्त स्थान भरें** हर पल चलती जाती _____, श्रम का राग सुनाती **चींटी**। क) हाथी ख) चींटी ग) मेड़क घ) बकरी	ख) चींटी
2	कड़ी धूप हो या हो _____, दाना चुनकर लाती चींटी। क) वर्षा ख) बादल ग) बिजली घ) छुट्टी	क) वर्षा
3	सचमुच कैसी _____ है, घर को खूब सजाती चींटी। क) बेकार ख) मोची ग) कलाकार घ) हलवाई	ग) कलाकार
4	चींटी के कितने पैर होते है? क) पांच ख) चार ग) दो घ) छह	घ) छह
5	_____ पैर बढ़ाकर, पर्वत पर चढ़ जाती चींटी। क) मोटे-मोटे ख) लंबे- लंबे ग) उल्टे- सीधे घ) नन्हे -नन्हे	घ) नन्हे -नन्हे
6	दिए गए वाक्य के लिए एक शब्द लिखो। जो मेहनत करता हो। _____ क) आलसी ख) मजाकिया ग) मेहनती घ) गरीब	ग) मेहनती
7	दिए गए वाक्य के लिए एक शब्द लिखो। जो किसी से न डरे। क) निडर ख) फिकर ग) बेरंग घ) डरपोक	क) निडर
8	इनमें से कौन सा प्राणी समूह में नहीं रहता है? क) चींटी ख) मधुमक्खी ग) भेड़िया घ) बाघ	घ) बाघ

9	निम्नलिखित वाक्यों में संज्ञा पहचानें: "चींटी बहुत मेहनती होती है।" क) मेहनती ख) बहुत ग) होती घ) चींटी	घ) चींटी
10	**चींटी** शब्द का लिंग पहचानें| क) पुल्लिंग ख) दोनों (स्त्रीलिंग व पुल्लिंग) ग) स्त्रीलिंग घ) कोई भी नहीं	ग) स्त्रीलिंग
11	चींटी कविता के कवि का नाम _____ है। क) प्रकाश मिश्रा ख) कल्पना ग) सोमनाथ घ) प्रकाश मनु	घ) प्रकाश मनु
12	सही वर्तनी शब्द चुनो। क) चींटि ख) चीन्ति ग) चींटी घ) चिन्टि	ग) चींटी
13	सही वर्तनी शब्द चुनो| क) मेहनात ख) मेहनत ग) मेहनट घ) मेहीनत	क) मेहनात
14	निम्नलिखित शब्दों में से **'पर्वत'** का पर्यायवाची शब्द चुनो| क) गिरि ख) धरातल ग) रवि घ) मेघ	क) गिरि
15	रेखांकित शब्द का विलोम शब्द चुनो: वे हमारी तरह **<u>आलसी</u>** नहीं है क) डरपोक ख) बहादुर ग) मेहनती घ) चटोरा	ग) मेहनती

गृहकार्य

क्रम	**प्रश्न**	**उत्तर**
1	कविता "चींटी" आपको क्या सिखाती है? क) आलस करना ख) मेहनत करना ग) घमंड में रहना घ) दूसरों को परेशान करना	ख) मेहनत करना
2	**सिखलाती** शब्द के समान लय वाला शब्द चुनो। क) मेहनत ख) दिखलाती ग) पर्वत घ) नदी	ख) दिखलाती

3	कविता '**चींटी**'में चींटी को कलाकार क्यों कहा गया है? क) क्योंकि वो घमंडी है। ख) क्योंकि वो अपने घर को खूब सजाती है। ग) क्योंकि वो दाना चुनकर लाती है। घ) क्योंकि वो मेहनत करती है।	ख) क्योंकि वो अपने घर को खूब सजाती है।
4	**चींटी कड़ी धूप से डरती है।** क) सही ख) गलत ग) दोनों विकल्प सही है घ) सभी विकल्प सही है|	ख) गलत
5	चींटी कविता की पंक्ति पूरी करो नहीं कभी _____ चींटी। क) कलाकार ख) सोती ग) घबराती घ) डराती	ग) घबराती
6	**चढ़**- _____ समान लय वाला शब्द चुनो क) खड़े ख) अड़ ग) लाती घ) दिखाया	ख) अड़
7	निम्नलिखित वाक्य में से संज्ञा शब्द चुनो:- **हाथी का शरीर बड़ा है।** क) बड़ा, हाथी ख) है, का ग) हाथी, शरीर घ) बड़ा, शरीर	ग) हाथी, शरीर
8	कविता के अनुसार मेहनत का क्या महत्व है? क) मेहनत ही प्रभु की पूजा है। ख) मेहनत करना व्यर्थ है। ग) मेहनत से हम थक जाते है। घ) मेहनत नहीं करनी चाहिए।	क) मेहनत ही प्रभु की पूजा है।
9	कविता के अनुसार चींटी किन परिस्थितियों में अपना काम करती है? क) जब उसके पास खाली समय हो। ख) सर्दी के मौसम में। ग) जब उसको अच्छा लगे। घ) कड़ी धूप और वर्षा में।	घ) कड़ी धूप और वर्षा में।
10	कविता के आधार पर विशेषण को विशेष्य से मिलाओ। **विशेषण** **विशेष्य** 1) छोटा अ) इरादे 2) कड़ी ब) पैर 3) नन्हे स) तन 4) बड़े ड) धूप क) 1)- स, 2)- अ, 3)- ड, 4) – ब ख) 1)- स, 2)- ड, 3)- ब, 4) - अ ग) 1)- स, 2)- ड, 3)- अ, 4) – ब घ) 1)- अ, 2)- ड, 3)- स, 4) – ब	ख) 1)- स, 2)- ड, 3)- ब, 4) – अ

पाठ- 3

पाठ का नाम- कितने पैर

कक्षाकार्य

क्रम स.	**प्रश्न**	**उत्तर**
1	प्रातःकाल किसी से मिलने पर अभिनंदन के लिए किस शब्द का प्रयोग किया जाता है ? क) सुप्रभात ख) शुभरात्रि ग) शुभइच्छा घ) शुभअपराह्न	क) सुप्रभात
2	_____ सभी जीवित प्राणियों का घर है। क) हवा ख) पानी ग) धरती घ) आकाश	ग) धरती
3	दो पैरों वाले जीवों को क्या कहते हैं? क) दोपैर ख) आकाश ग) दोपग घ) द्विपाद	घ) द्विपाद
4	निम्नलिखित वाक्य में कौन सा विराम चिन्ह प्रयोग होगा- किस जीव के पैर नहीं होते क) पूर्णविराम ख) प्रश्नवाचक चिन्ह ग) विस्मयादिबोधक चिन्ह घ) योजक चिन्ह	ख) प्रश्नवाचक चिन्ह
5	पुस्तकों के संग्रह को_____कहते हैं। क) अलमारी ख) पुस्तकालय ग) पुस्तककक्ष घ) संग्रहालय	ख) पुस्तकालय
6	बुद्धिमान का विलोम शब्द चुनिए। क) होशियार ख) ईमानदार ग) बेवकूफ घ) कमजोर	ग) बेवकूफ
7	मधुमक्खी के पैरों की संख्या कितनी होती है? क) चार ख) छह ग) आठ घ) पाँच	ख) छह
8	_____ अपने पेट के बल सरकते हैं क्योंकि उनके पैर नहीं होते। क) केंचुए ख) छिपकली ग) मगरमच्छ घ) मच्छर	क) केंचुए

9	**अध्यापिका** का पुल्लिंग चुनिए। क) शिक्षक ख) सर ग) अध्यापक घ) गुरु	ग) अध्यापक
10	बरसात की ऋतु को किस नाम से जानते हैं? क) बसंत ख) शरद ग) वर्षा घ) बरसात	ग) वर्षा
11	'चतुष्पाद' का प्रचलित शब्द कौन- सा है? क) चार पैरों वाला ख) चौपाया ग) चौराहा घ) चतुष्पाद	ख) चौपाया
12	दो बकरियों और तीन मकड़ियों के कुल पैरों की संख्या कितनी होगी? क) 18 ख) 30 ग) 24 घ) 32	घ) 32
13	ऑस्ट्रेलिया सबसे _____ महाद्वीप है। क) बड़ा ख) छोटा ग) महंगा घ) सुन्दर	ख) छोटा
14	मेंढक एक _____ है। क) संज्ञा ख) सर्वनाम ग) क्रिया घ) विशेषण	क) संज्ञा
15	किस जानवर के पेट में थैली होती है? क) भालू ख) ज़िराफ ग) हिरण घ) कंगारू	घ) कंगारू

गृहकार्य

क्रम स.	प्रश्न	उत्तर
1	सारे ____ और _____ द्विपाद होते हैं। क) पक्षी और मनुष्य ख) पक्षी और जानवर ग) जानवर और मनुष्य घ) जीव और जंतु	क) पक्षी और मनुष्य
2	सामान्यतः सीलन और अंधेरे वाली जगह पर कौन- सा जीव पाया जाता है? क) मकड़ी ख) जंतु ग) मधुमक्खी घ) कनखजूरा	घ) कनखजूरा

3	ऑस्ट्रेलिया का राष्ट्रीय पशु कौन सा है? क) शेर ख) चीता ग) हाथी घ) कंगारू	घ) कंगारू
4	शरीर का कौन- सा अंग इधर- उधर जाने में सहायता करता है? क) पूँछ ख) हाथ ग) त्वचा घ) पैर	घ) पैर
5	शून्य पैर वाले जीव कैसे चलते हैं? क) उड़कर ख) हाथों से ग) रेंगकर घ) पीठ के बल	ग) रेंगकर
6	आठ से अधिक पैर वाले जीव का नाम चुनिए क) मकड़ी ख) कनखजूरा ग) मधुमक्खी घ) मच्छर	ख) कनखजूरा
7	धरती का पर्यायवाची शब्द चुनिए। क) मिट्टी ख) खेत ग) पृथ्वी घ) समुद्र	ग) पृथ्वी
8	'चार' संख्या के लिए सही विकल्प चुनिए। क) ५ ख) ४ ग) ७ घ) ८	ख) ४
9	'जीव- जंतु' में प्रयुक्त विराम चिन्ह (-) का नाम बताइए। क) सांकेतिक चिन्ह ख) योजक चिन्ह ग) प्रश्नवाचक चिन्ह घ) विस्मयादिबोधक चिन्ह	ख) योजक चिन्ह
10	ऑस्ट्रेलिया के झंडे में कौन- सा रंग नहीं होता है। क) हरा ख) नीला ग) लाल घ) सफ़ेद	क) हरा

पाठ- 4

पाठ का नाम- बया हमारी चिड़िया रानी

कक्षाकार्य

क्रम स.	**प्रश्न**	**उत्तर**
1	'तिनका' का तुकांत शब्द चुनिए। क) मनका ख) तनख्वाह ग) जनता घ) पंखा	क) मनका
2	'चिड़िया रानी! ' में प्रयुक्त विराम चिन्ह का नाम बताइए। क) प्रश्नवाचक चिन्ह ख) योजक चिन्ह ग) विस्मयादिबोधक चिन्ह घ) अर्द्धविराम	ग) विस्मयादिबोधक चिन्ह
3	'निगरानी' शब्द का अर्थ चुनिए। क) रक्षा करना ख) नागों की रानी ग) शक़ करना घ) नजर रखना	घ) नजर रखना
4	'आंगन' से तात्पर्य है- क) बागों के फूल ख) मैदान की घास ग) पार्क के पौधे घ) घर का खुला स्थान	घ) घर का खुला स्थान
5	'फिर अंडे सेयेगी तू जब' में प्रयुक्त शब्द **सेयेगी** का अर्थ है- क) सोना ख) सोचना ग) संजोना घ) सेंकना	घ) सेंकना
6	'तिनके लाकर **महल** बनाती' में **महल** किसके लिए प्रयोग हुआ है? क) महल ख) मकान ग) घोंसला घ) झोपड़ी	ग) घोंसला
7	कौन सा पक्षी घोंसला नहीं बनाता है? क) कोयल ख) कबूतर ग) बया घ) कौआ	क) कोयल
8	**ठंडा** का समानार्थी शब्द बताइए। क) गर्म ख) शीतल ग) गुनगुना घ) बर्फीला	ख) शीतल

10	_____ से आंगन भर देंगे' कविता के आधार पर विकल्प चुनिए- क) फूलों से ख) पौधों से ग) दानों से घ) पक्षियों से	ग) दानों से
11	'ऊंची डाली पर लटकाती' पंक्ति में संज्ञा शब्द चुनिए। क) ऊँची ख) डाली ग) पर घ) लटकाती	ख) डाली
12	**रानी** का पुल्लिंग शब्द चुनिए। क) रंक ख) महाराज ग) राजा घ) सम्राट	ग) राजा
13	**चिड़िया** का बहुवचन चुनिए। क) चिड़िया ख) चिड़ियाँ ग) चिड़ियाओं घ) चिडियों	ख) चिड़ियाँ
14	_____ को चिड़ियों का राजा कहते हैं। क) शुतुरमुर्ग ख) मोर ग) बाज घ) गरुड़	घ) गरुड़
15	बया के बच्चों के उड़ जाने पर उसको कैसा लगेगा? क) खुशी होगी ख) उदासी होगी ग) रोना आएगा घ) गुस्सा आएगा	ग) रोना आएगा

गृहकार्य

क्रम स.	**प्रश्न**	**उत्तर**
1	निम्नलिखित में से हिंदूओं की पवित्र नदी का नाम चुनिए। क) यमुना ख) गंगा ग) ब्रह्मपुत्र घ) कावेरी	ख) गंगा
2	निम्नलिखित में से अंडे देने वाले जीव का नाम बताइए। क) चिड़िया ख) बकरी ग) कुत्ता घ) मनुष्य	क) चिड़िया

3	'**मीठा**' का विलोम शब्द बताइए। क) फीका ख) खट्टा ग) तीखा घ) नमकीन	ख) खट्टा
4	'**पर** ' का पर्यायवाची शब्द चुनिए। क) पैर ख) पँख ग) शायद घ) पांव	ख) पँख
5	पक्षियों के घर को क्या कहते हैं क) घोंसला ख) घर ग) झोपड़ी घ) झूला	क) घोंसला
6	बया पानी कहां से लाती है? क) तालाब ख) नाला ग) नदी घ) घड़ा	ग) नदी
7	**'दाना'** का बहुवचन चुनिए। क) दिन ख) पानी ग) खाना घ) दाने	घ) दाने
8	निम्नलिखित में से किस फसल में दाना नहीं होता है? क) केला ख) अनार ग) मक्का घ) गेहूँ	क) केला
9	कविता में 'छोटे' के लिए कौन सा शब्द प्रयोग हुआ है? क) लघु ख) नन्हा ग) नीचा घ) न्यून	ख) नन्हा
10	निम्नलिखित में से कौन चिड़िया नहीं है? क) बया ख) मैना ग) चमगादड़ घ) शुतुरमुर्ग	ग) चमगादड़

पाठ : 5
पाठ का नाम : आम का पेड़

कक्षाकार्य

क्रम स.	प्रश्न	उत्तर
1	सौरभ के चाचाजी ने आम किन दिनों में भेजें थे? क) सर्दियों में ख) गर्मियों में ग) पतझड़ में घ) वसंत में	ख) गर्मियों में
2	सौरभ ने आम का पेड़ उगाने के लिए बगीचे में क्या बोया था? क) आम का छिलका ख) आम के पेड़ के पत्ता ग) आम की गुठली घ) पूरा आम	ग) आम की गुठली
3	आम का पेड़ कौन से वातावरण में होता है? क) ठंडा ख) सूखा ग) गरम घ) नम	ग) गरम
4	आम के पेड़ को उगने के लिए क्या चाहिए? क) पानी, धूप और मिट्टी ख) हवा और धूल ग) केवल हवा घ) केवल पानी	क) पानी, धूप और मिट्टी
5	निम्नलिखित में से किस फल की गुठली नहीं होती? क) आम ख) आड़ू ग) केला घ) जामुन	ग) केला
6	**'कोंपलों'** शब्द का क्या अर्थ है? क) पौधों की छोटी व मुलायम पत्ती ख) पौधों की जड़ें ग) पौधों का तना घ) पौधों के फूल	क) पौधों की छोटी व मुलायम पत्ती
7	बाजरा क्या है? क) सब्जी ख) अनाज ग) फल घ) दाल	ख) अनाज
8	**'खोदना'** शब्द किसका उदाहरण है? क) क्रिया ख) संज्ञा ग) सर्वनाम घ) विशेषण	क) क्रिया

9	पिताजी ने पौधे को बड़ा होने में कितना समय बताया? क) एक महीना ख) चार-पाँच वर्ष ग) दस वर्ष घ) तीन हफ्ते	ख) चार-पाँच वर्ष
10	पिताजी ने सौरभ और प्रिया को किस बारे में बताया? क) आम की खेती के बारे में ख) बगीचे की सजावट के बारे में ग) पौधे के बड़े होने के बारे में घ) सब्जियों के बारे में	ग) पौधे के बड़े होने के बारे में
11	**'शाखाएँ'** शब्द का क्या अर्थ है? क) पेड़ का तना ख) भूमि के नीचे का भाग ग) पेड़ के पत्ते घ) पेड़ के तने से जुड़ा भाग	घ) पेड़ के तने से जुड़ा भाग
12	पेड़ की जड़ का क्या कार्य है? क) भोजन बनाना ख) मिट्टी से पानी को सोखना ग) फूलों को उगाना घ) फल पैदा करना	ख) मिट्टी से पानी को सोखना
13	गुठली वाले फल में कौन सी विशेषता होती है? क) फल में बीज नहीं होता। ख) फल में एक बीज होता है। ग) फल में कई बीज होते हैं। घ) फल में पानी नहीं होता।	ख) फल में एक बीज होता है।
14	नीचे दिए गए शब्दों में से सही तुक वाले शब्द को चुनें- क)पानी-जल ख) पेड़-पेड़ों ग) आम-काम घ) सुबह-शाम	ग) आम-काम
15	'नन्हा पौधा' में **नन्हा** क्या है? क) सर्वनाम ख) विशेषण ग) क्रिया घ) संज्ञा	ख) विशेषण

गृहकार्य

क्रम स.	**प्रश**	**उत्तर**
1	आम का फल किस रूप में मिलता है? क) मीठा ख) कड़वा ग) खट्टा घ) मीठा और खट्टा	घ) मीठा और खट्टा
2	आम के पेड़ का क्या उपयोग है? क) लकड़ी के लिए ख) फल के लिए ग) छांव देने के लिए घ) उपरोक्त सभी	घ) उपरोक्त सभी

3	**'मकई'** निम्नलिखित में से क्या है? क) फल ख) सब्जी ग) अनाज घ) दाल	ग) अनाज
4	**'चाचाजी'** शब्द किसका उदाहरण है? क) संज्ञा ख) सर्वनाम ग) क्रिया घ) विशेषण	क) संज्ञा
5	प्रतिदिन पानी डालने पर भी क्या हुआ? क) आम का पौधा निकल आया। ख) आम का पौधा बड़ा हो गया। ग) आम का पौधा नहीं निकला। घ) आम का पौधा मुरझा गया।	ग) आम का पौधा नहीं निकला।
6	आज तुम दोनों बहुत **<u>प्रसन्न</u>** हो। रेखांकित शब्द के विलोम शब्द का चयन कीजिए। क) खुश ख) संतुष्ट ग) दुखी घ) उल्लास	ग) दुखी
7	गुठली का आकार कैसा होता है? क) गोल ख) लंबा और कठोर ग) छोटा और नरम घ) चौकोर	ख) लंबा और कठोर
8	आम किस देश का राष्ट्रीय फल है? क) भारत ख) नेपाल ग) पाकिस्तान घ) श्रीलंका	क) भारत
9	**'पेड़'** का पर्यायवाची शब्द बताइए। क) टहनी ख) पौधा ग) तरु घ) सुमन	ग) तरु
10	विशेषण शब्दों का सही मिलान करें। i) मीठे क) शाखाएं ii) नन्हा ख) आम iii) लाल ग) पौधा iv) बड़ी घ) कोपलें क) (i) – ख (ii) – घ (iii) – क (iv) - ग ख) (i) – क (ii) – ख (iii) – ग (iv) – घ ग) (i) – ख (ii) – ग (iii) – क (iv) - घ घ) (i) – ख (ii) – ग (iii) – घ (iv) – क	घ) (i) – ख (ii) – ग (iii) – घ (iv) – क

पाठ : 6

पाठ का नाम : बीरबल की खिचड़ी

कक्षाकार्य

क्रस.	**प्रश्न**	**उत्तर**
1	किस राजा के दरबार में बीरबल मंत्री थे? क) चन्द्रगुप्त मौर्य ख) अकबर ग) शाहजहाँ घ) सम्राट अशोक	ख) अकबर
2	बीरबल _____ के लिए प्रसिद्ध थे? क) मूर्खता ख) चतुराई ग) बहादुरी घ) खाना बनाने के लिए	ख) चतुराई
3	अकबर के दरबार में कितने रत्न थे? क) सात ख) आठ ग) नौ घ) दस	ग) नौ
4	**'विद्वान'** शब्द का क्या अर्थ है? क) मशहूर ख) मूर्ख ग) शिक्षित व्यक्ति घ) विख्यात	ग) शिक्षित व्यक्ति
5	व्यक्ति ने कहाँ रातभर खड़े रहने का दावा किया था? क) गंगा के पानी में ख) घर के आँगन में ग) यमुना के पानी में घ) समुद्र के जल में	ग) यमुना के पानी में
6	वह व्यक्ति पूरी रात ठंडे जल में किसके सहारे खड़ा रहा? क) आग ख) दीपक की गर्मी ग) गर्म वस्त्र घ) जूते	ख) दीपक की गर्मी
7	यमुना नदी का उद्गम स्थल कहाँ से है? क) हिमाचल प्रदेश ख) उत्तराखंड ग) राजस्थान घ) मध्यप्रदेश	ख) उत्तराखंड
8	निम्नलिखित में से **'एक'** का विपरीत शब्द क्या होगा? क) शून्य ख) दो ग) अनेक घ) बहुत	ग) अनेक
9	नीचे दिए गए शब्दों में से शुद्ध वर्तनी वाला शब्द चुनें- क) सममान ख) सम्मान ग) स्मान घ) संमान	ख) सम्मान

10	नीचे दिए गए वाक्यों में से कौन सा शुद्ध नहीं है? क) अकबर और बीरबल के बारे में अनेक कहानियाँ प्रसिद्ध हैं। ख) अकबर के दरबार में अनेक विद्वान थे। ग) अकबर इस बात का विश्वास नहीं हुआ। घ) अकबर ने बीरबल को बुलावा भेजा।	ग) अकबर इस बात का विश्वास नहीं हुआ।
11	**'प्रसिद्ध'**का समानार्थी शब्द क्या है? क) जाने-माने ख) पढ़े-लिखे ग) ईमानदार घ) चतुर	क) जाने-माने
12	बीरबल ने खिचड़ी पकाने में कौन-सा विशेषतरी का अपनाया था? क) खिचड़ी को जलाने का ख) जल्दी पकने का ग) खिचड़ी को बिना पानी के पकाने का घ) धीमी आँच पर पकाने का	घ) धीमी आँच पर पकाने का
13	**'नदी'** शब्द का बहुवचन क्या होगा? क) नदिया ख) नदियाँ ग) नदियां घ) नदीयां	ख) नदियाँ
14	इडली और सांभर किस राज्य में प्रसिद्ध है? क) पंजाब ख) आन्ध्रप्रदेश ग) राजस्थान घ) मध्यप्रदेश	ख) आन्ध्रप्रदेश
15	कहानी बीरबल की खिचड़ी का मुख्य संदेश क्या है? क) किसी भी काम को जल्दबाजी में करना ख) दूसरों के परिश्रम को जाने बगैर राय ना बनाना ग) दूसरों के परिश्रम को न समझना घ) दूसरों के परिश्रम को सम्मान न देना	ख) दूसरों के परिश्रम को जाने बगैर राय ना बनाना

गृहकार्य

क्रम स.	**प्रश्न**	**उत्तर**
1	बीरबल कौन थे? क) राजा ख) अकबर के सैनिक ग) अकबर के दरबार में मंत्री घ) व्यापारी	ग) अकबर के दरबार में मंत्री
2	**'हाँडी'** शब्द का क्या अर्थ है? क) थाली ख) गिलास ग) कटोरी घ) मिट्टी का बना बर्तन	घ) मिट्टी का बना बर्तन

3	बादशाह अकबर ने व्यक्ति को क्या इनाम देने का वादा किया? क) थैली भर मोहरे ख) गहने ग) सोने की मुद्राएं घ) चाँदी के सिक्के	क) थैली भर मोहरे
4	शुद्ध वर्तनी वाला शब्द चुनें- क) विस्वास ख) विशवास ग) विश्वास घ) विषवास	क) विस्वास
5	बीरबल ने किस चीज़ के उपयोग से अपनी चतुराई दिखाई? क) आग ख) दीपक ग) खिचड़ी घ) बाँस	ग) खिचड़ी
6	**प्रातः** शब्द का विपरीत क्या होगा? क) दोपहर ख) सवेरा ग) रात्रि घ) सायं	घ) सायं
7	दीपक का प्रकाश कहाँ से आ रहा था? क) आँगन से ख) नदी के किनारे से ग) मन्दिर से घ) राजमहल से	घ) राजमहल से
8	'लंबे बाँस' में विशेषण क्या है? क) लंबे ख) बाँस ग) लंबे और बाँस दोनों घ) दोनों में से कोई नहीं	क) लंबे
9	भारत की सबसे लंबी नदी कौन सी है? क) गंगा ख) यमुना ग) ब्रह्मपुत्र घ) नर्मदा	क) गंगा
10	नीचे दिए गए शब्दों में से सही बहुवचन वाले शब्दों को चुनें- क) कहानी– कहानिया ख) साथी– साथियों ग) हाँडी – हाँडीया घ) मोहर - मोहरा	ख) साथी– साथियों

पाठ–07

पाठ का नाम- <u>मित्र को पत्र</u>

कक्षाकार्य

क्रम स.	**प्रश्न**	**उत्तर**
1	गुवाहाटी भारत में कहाँ स्थित है ? क) पूर्व में ख) पश्चिम में ग) उत्तर में घ) दक्षिण में	क) पूर्व में
2	रूपम अपने दोस्त _____को पत्र लिख रहा है। क) आदित्य को ख) अभिषेक को ग) आदर्श को घ) अमनदीप को	ख) अभिषेक को
3	स्वस्थ रहने के लिए क्या करना चाहिए ? क) खाते रहना चाहिए ख) सोते रहना चाहिए ग) शारीरिक परिश्रम करना घ) पढ़ना चाहिए	ग) शारीरिक परिश्रम करना
4	ब्रह्मपुत्र नदी में भारत का सबसे बड़ा द्वीप _____ है| क) ब्रह्मपुत्र द्वीप ख) माजुली द्वीप ग) पूर्वी द्वीप घ) दक्षिणी द्वीप	ख) माजुली द्वीप
5	विभिन्न प्रकार के खेल कौन से है ? क) खो- खो ख) क्रिकेट ग) फुटबॉल घ) दिए गए सभी	घ) दिए गए सभी
6	संज्ञा शब्द छाँटिये— क) गुवाहाटी ख) नदी ग) रूपम घ) दिए गए सभी	घ) दिए गए सभी
7	माजुली किस नदी में स्थित है ? क) गंगा नदी ख) कावेरी नदी ग) ब्रह्मपुत्र नदी घ) तुंगभद्रा नदी	ग) ब्रह्मपुत्र नदी
8	डाक टिकट मिलती है— क) मेट्रो स्टेशन से ख) डाकखाने से ग) हॉस्पिटल से घ) विद्यालय से	ख) डाकखाने से

9	"त्र" संयुक्त अक्षर बनता है— क) त और र के मेल से ख) प और र के मेल से ग) ह और र के मेल से घ) ती और री के मेल से	क) त और र के मेल से
10	गुवाहाटी भारत के पूर्वोत्तर प्रदेशों का प्रवेश द्वार है, जो ब्रह्मपुत्र नदी के तट पर स्थित है। नदी से हमें क्या मिलता है? क) तेल ख) खाना ग) कपड़े घ) पानी	घ) पानी
11	निम्नलिखित वाक्य की अशुद्धि पहचानिए —मंदिर में देवी माँ की पूजा की जाती है क) पूर्णविराम (।) ख) अर्धविराम (,) ग) प्रश्नसूचक (?) घ) योजकचिह्न (-)	क) पूर्णविराम (।)
12	निम्नलिखित में से विलोम शब्द बताये – क) नाना ख) आकाश - पाताल ग) लड़का घ) नानी	ख) आकाश - पाताल
13	शुद्ध वर्तनी वाला शब्द चुनिए – क) शास्त्रीय ख) पर्सिद ग) काइताब घ) शरमीला	क) शास्त्रीय
14	नदी को किस प्रकार पार किया जाता है ? क) जहाज़ से ख) तैरकर ग) नाव से घ) बैठकर	ग) नाव से
15	कामाख्या देवी का मंदिर _____स्थित है- क) गुवाहाटी में ख) केरल में ग) गुजरात में घ) हरियाणा में	क) गुवाहाटी में

गृहकार्य

क्रम स.	प्रश्न	उत्तर
1	रूपम ने अपने मित्र अभिषेक को पत्र लिखा तथा नानी के घर के बारे में बताया। नानी के घर कब जाते है? क) परीक्षा के समय ख) सोने के समय ग) गर्मी की छुट्टियों में घ) लड़ाई के समय	ग) गर्मी की छुट्टियों में

<table>
<tr><td>2</td><td>पढ़े व सही उत्तर चुने—
<table><tr><td>(i) क्रिकेट</td><td>(क) नगर</td></tr><tr><td>(ii) ब्रह्मपुत्र</td><td>ख) खेल</td></tr><tr><td>(iii) गुवाहाटी</td><td>ग) नदी</td></tr></table>क) (i)- ख, (ii)- ग, (iii)- क
ख) (i)- क, (ii)-ख, (iii) ग
ग) (i)- ग, (ii)- क,(iii)- ख
घ) (i) -ख, (ii)- ख, (iii)- क</td><td>क)
(i)- ख,
(ii)- ग,
(iii)- क</td></tr>
<tr><td>3</td><td>महानगर से कौन सा शब्द नहीं बन सकता है ?
क) महा
ख) नगर
ग) महान
घ) नागरिक</td><td>घ) नागरिक</td></tr>
<tr><td>4</td><td>विलोम शब्द छाँटिये -
क) नाना – नानी
ख) घोड़ा - घोड़े
ग) किताब – किताबें
घ) मटका–मटके</td><td>क) नाना – नानी</td></tr>
<tr><td>5</td><td>नीचे दिए गए शब्दों में से सही तुक वाले शब्द को छाँटिये -
क) आना – जाना
ख) नाना - पाना
ग) मटका - लटका
घ) दिए गए सभी</td><td>घ) दिए गए सभी</td></tr>
<tr><td>6</td><td>मंदिर में लोग क्या करने जाते है ?
क) पूजा करने
ख) खेल खेलने
ग) सोने
घ) खाना बनाने</td><td>क) पूजा करने</td></tr>
<tr><td>7</td><td>भाववाचक संज्ञा बताए –
क) घोड़ा
ख) श्याम
ग) मिठास
घ) पुलिस</td><td>ग) मिठास</td></tr>
<tr><td>8</td><td>प्राकृतिक सुंदरता वाला प्रदेश बताए
क) मेघालय
ख) सिक्किम
ग) असम
घ) दिए गए सभी</td><td>घ) दिए गए सभी</td></tr>
<tr><td>9</td><td>“अपनी बात को लिखकर दूसरे तक पहुँचाना” एक प्रकार है -
क) फ़ोन का
ख) पत्र का
ग) सुनने का
घ) बोलने का</td><td>ख) पत्र का</td></tr>
<tr><td>10</td><td>नदी को पार करने के लिए _____ की ज़रूरत होती है।
क) हवाई जहाज़ की
ख) घर की
ग) नाव की
घ) कपड़े की</td><td>ग) नाव की</td></tr>
</table>

पाठ–8

पाठ का नाम- चतुर गीदड़

कक्षाकार्य

क.स	**प्रश्न**	**उत्तर**
1	एक पानी का स्रोत चुनिए - क) तालाब ख) नदी ग) झरना घ) दिए गए तीनों	घ) दिए गए तीनों
2	मगरमच्छ क्या खा रहा था ? क) टॉफ़ी ख) मछलियाँ ग) आदर्श को घ) पत्थर	ख) मछलियाँ
3	तालाब पर पानी पीने कौन आया था? क) गीदड़ ख) चिड़ियाँ ग) इंसान घ) पानी	क) गीदड़
4	प्रयत्न शब्द का उचित अर्थ चुनिए - क) उदास ख) गहराई ग) कोशिश घ) मापना	ग) कोशिश
5	मगरमच्छ का मित्र कौन था ? क) गीदड़ ख) कछुआ ग) सियार घ) मछली	ख) कछुआ
6	"स्वर्ग सिधारना" मुहावरे का अर्थ बताये - क) ज़िंदा होना ख) मर जाना ग) घूमना घ) सो जाना	ख) मर जाना
7	मगरमच्छ व कछुआ किसे खाने की योजना बनाते है ? क) कछुए को ख) गीदड़ को ग) मगरमच्छ को घ) शेर को	ख) गीदड़ को
8	उचित विराम चिह्न का प्रयोग करे – ओह अपने मित्र को देखो। क) ? ख) "...." ग) ! घ) —	ग) !
9	गीदड़ एक _____ जानवर है। क) पागल ख) चालाक ग) मूर्ख घ) भूखा	ख) चालाक

10	मेरा प्रिय मित्र मगरमच्छ स्वर्ग सिधार गया । अब दुनिया में मेरा कोई नहीं रहा। - यह कथन किसका है ? क) कछुए का ख) गीदड़ का ग) मगरमच्छ का घ) मछली का	क) कछुए का
11	जंगली जानवरों के नाम चुनिए– क) हाथी ख) बाघ ग) सियार घ) दिए गए सभी	घ) दिए गए सभी
12	मगरमच्छ कहाँ रहता है ? क) जल में ख) थल में ग) जल और थल दोनों घ) कहीं भी नहीं	ग) जल और थल दोनों
13	सही मिलान करे– (i) कछुआ — क) जानवर (ii) तालाब — ख) धीमी गति (iii) जंगली — ग) मछली क) (i)-ख, (ii)-ग, (iii)-क ख) (i)-ख, (ii)-क, (iii)-ग ग) (i)-क, (ii)-ख, (iii)-ख घ) (i)-ग, (ii)-क, (iii)- ख	क) (i)-ख, (ii)-ग, (iii)-क
14	प्यास लगने पर _____ पीते है। क) पानी ख) दूध ग) खाना घ) शहद	क) पानी
15	हमें अपने मित्र का साथ कब देना चाहिए ? क) लड़ाई करने में ख) ज़रूरत के समय ग) कक्षा से बाहर रहने में घ) सोने में	ख) ज़रूरत के समय

गृहकार्य

क्रस.	प्रश्न	उत्तर
1	कछुआ कहाँ बैठा था ? क) पानी में ख) तालाब के किनारे ग) घर के बाहर घ) घास पर	ख) तालाब के किनारे
2	बारिश आने पर जंगल का पानी कहाँ इकट्ठा होता है ? क) बाल्टी में ख) तालाब में ग) कप में घ) चमड़ी में	ख) तालाब में

<table>
<tr><td>3</td><td>“धीमे स्वर मे ” का अर्थ है–
क) धीरे चलना ख) धीरे सोना
ग) धीरे बोलना घ) धीरे भागना</td><td>क) धीरे चलना</td></tr>
<tr><td>4</td><td>संज्ञा शब्द चुने -
क) मछली ख) गीदड़
ग) मगरमच्छ घ) दिए गए सभी</td><td>घ) दिए गए सभी</td></tr>
<tr><td>5</td><td>अब तो मैं निश्चिंत होकर तालाब का पानी पी सकता हूँ। उसके डर से मैं कई बार प्यासा ही रह जाता था। “निश्चिंत” शब्द का अर्थ है –
क) मूर्ख ख) होशियार
ग) बिना चिंता के घ) आलसी</td><td>ग) बिना चिंता के</td></tr>
<tr><td>6</td><td>सही मिलान करें—
<table><tr><td>(i) बादल</td><td>(क) हिलाना</td></tr><tr><td>(ii) पूँछ</td><td>ख) तैरना</td></tr><tr><td>(iii) मछली</td><td>ग) पानी</td></tr></table>
क) (i)-ग, (ii)-क, (iii)- ख ख) (i)- क, (ii)- ग, (iii)-ख
ग) (i)-क, (ii)-क, (iii)-क घ) (i)-ख, (ii)-ख, (iii)- क</td><td>क)
(i)-ग, (ii)-क, (iii)- ख</td></tr>
<tr><td>7</td><td>शुद्ध शब्द का चुनाव करें –
क) बिलकुल ख) बिलॅकुल
ग) बिल्कुल घ) बुलकुल</td><td>क) बिलकुल</td></tr>
<tr><td>8</td><td>ज़मीन से पानी निकाला जाता है -
क) बोरवेल से ख) कटोरी से
ग) झरने से घ) बादल से</td><td>क) बोरवेल से</td></tr>
<tr><td>9</td><td>मछली शब्द का बहुवचन बताओ-
क) मछली ख) मछलियाँ
ग) अनेक मछलियाँ घ) चार मछली</td><td>ख) मछलियाँ</td></tr>
<tr><td>10</td><td>जल व थल पर रहने वाले जीव चुनिए -
क) कछुआ ख) मगरमच्छ
ग) एक व दोनों घ) कोई भी नहीं</td><td>ग) एक व दोनों</td></tr>
</table>

पाठ– 9

पाठ का नाम–प्रकृति पर्व : फूलदेई

कक्षाकार्य

क्रस	**प्रश्न**	**उत्तर**
1	जानकी किस पर्व के लिए उत्साहित थी? क) होली ख) फूलदेई ग) दीवाली घ) मकर सक्रांति	ख) फूलदेई
2	फूलदेई पर्व मुख्यतः किस मौसम में मनाया जाता है? क) शीत ऋतु ख) वसंत ऋतु ग) ग्रीष्म ऋतु घ) वर्षा ऋतु	ख) वसंत ऋतु
3	जानकी और उसके मित्र किस चीज़ से अपनी टोकरियाँ भरते हैं? क) फलों से ख) मिठाइयों से ग) पत्थरों से घ) फूलों से	घ) फूलों से
4	फूलदेई को उत्तराखंड में किस नाम से भी जाना जाता है? क) बाल पर्व ख) ज्ञान पर्व ग) शक्ति पर्व घ) कृषि पर्व	क) बाल पर्व
5	**"इजा"** शब्द का अर्थ क्या है? क) पिता ख) माता ग) भाई घ) मित्र	ख) माता
6	फूलदेई पर्व में बच्चों को किस प्रकार की शिक्षा मिलती है? क) प्रकृति प्रेम और सामूहिकता की ख) खेलकूद की ग) धर्म की घ) इतिहास की	क) प्रकृति प्रेम और सामूहिकता की
7	**"पर्व"** शब्द का सही पर्यायवाची क्या है? क) समय ख) प्रेम ग) गीत घ) त्यौहार	घ) त्यौहार
8	जानकी और उसके मित्रों के पास कौन-कौन से फूल थे? क) गुलाब, कमल ख) बुरांस, फ्योंली ग) गेंदे के फूल घ) सूरजमुखी, चंपा	ख) बुरांस, फ्योंली
9	**"प्रकृति"** शब्द में कितने वर्ण है ? क) चार ख) पांच ग) छह घ) सात	ग) छह

10	**"फूल"** शब्द किसका उदाहरण है? क) संज्ञा ख) सर्वनाम ग) क्रिया घ) विशेषण	क) संज्ञा
11	**फूलदेई** किसका प्रतीक है? क) सौंदर्य का ख) उत्साह का ग) ऋतु परिवर्तन का घ) जन का	ग) ऋतु परिवर्तन का
12	जानकी और उसके दोस्तों को फूलदेई के दिन क्या उपहार मिलते हैं? क) मिठाई ख) कपड़े ग) किताबें घ) चावल और गुड़	घ) चावल और गुड़
13	उत्तराखंड में किस भाषा में **"माँ"** को **"इजा"** कहा जाता है? क) हिंदी ख) कुमाऊँनी ग) उर्दू घ) पंजाबी	ख) कुमाऊँनी
14	शुद्ध वर्तनी वाला शब्द चुनें– क) समृधि ख) समरीधि ग) समृद्धि घ) समिर्द्धी	ग) समृद्धि
15	**"आगमन"** शब्द से कौनसा शब्द नहीं बन सकता है? क) नमक ख) आम ग) आग घ) गम	क) नमक

गृहकार्य

1	फूलदेई के त्योहार पर कौन से मौसम के आने की सूचना मिलती है? क) गर्मी ख) सर्दी ग) वसंत घ) बरसात	ग) वसंत
2	फूलदेई के दिन बच्चे किस प्रकार के गीत गाते हैं? क) भक्ति गीत ख) प्रकृति गीत ग) शोक गीत घ) युद्ध गीत	ख) प्रकृति गीत
3	जानकी और उसके मित्रों की टोली को क्या कहा जाता है? क) बाराती ख) भजनमंडली ग) गुलदस्ता घ) फुलारी	घ) फुलारी

4	फूलदेई का पर्व विशेष रूप से किसके लिए होता है? क) वयस्कों के लिए ख) बच्चों के लिए ग) बुजुर्गों के लिए घ) शिक्षकों के लिए	ख) बच्चों के लिए
5	उत्तराखंड के लोग फूलदेई के दिन घर की दहलीज को किससे सजाते हैं? क) पानी से ख) रंग से ग) गोबर-मिट्टी से घ) फूलों से	घ) फूलों से
6	निम्नलिखित वाक्य की अशुद्धि पहचानिए– **जानकी ने हेमा गीता राधा बीर गोविन्द और मनोज को पुकारा |** क) पूर्णविराम (|) ख) प्रश्नसूचकचिन्ह (?) ग) अल्पविराम (,) घ) योजकचिन्ह (-)	ग) अल्पविराम (,)
7	पढ़ें और सही उत्तर चुनें– i) फूलारी क) बुरांस, फ्योंली ii) फूलदेई ख) माँ iii) इजा ग) बालपर्व iv) फूलों के प्रकार घ) बच्चोंकीटोली क) (i) – क (ii) –ख (iii)- ग (iv) –घ ख) (i) – ख (ii) –ग (iii) –घ (iv) –क ग) (i) – ग (ii) –घ (iii) –क (iv) –ख घ) (i)- घ (ii) –ग (iii) –ख (iv) –क	घ) (i)- घ (ii) –ग (iii) –ख (iv) –क
8	नीचे दिए गए शब्दों में से सही **तुक** वाले शब्द को चुनें– क) फूल–फूलों ख) छोटी–मोटी ग) बच्चा–बच्चे घ) भर–भरकर	ख) छोटी–मोटी
9	फूलदेई पर्व का उद्देश्य क्या है? क) उपहार प्राप्त करना ख) नृत्य करना ग) भोजन बनाना घ) प्रकृति से जुड़ना	घ) प्रकृति से जुड़ना
10	जानकी और उसके मित्र किस दिशा में फूल चुनने गए थे? क) नदी की ओर ख) गाँव की ओर ग) जंगल की ओर घ) खेतों की ओर	ग) जंगल की ओर

पाठ–10

पाठ का नाम – रस्साकशी

कक्षाकार्य

क्रस.	**प्रश्न**	**उत्तर**
1	"रस्साकशी" खेल किससे जुड़ा है? क) खेलकूद ख) संगीत ग) चित्रकारी घ) नृत्य	क) खेलकूद
2	कवि ने "जोर लगाओ, हई एसा!"किसके लिए कहा है? क) मेहनत के लिए ख) हार मानने के लिए ग) आराम करने के लिए घ) गुस्सा दिखाने के लिए	क) मेहनत के लिए
3	रस्साकशी खेलने के लिए मुख्य आवश्यकता क्या है? क) रस्सी ख) गेंद ग) बल्ला घ) डंडा	क) रस्सी
4	"पसीने से तर" का मतलब क्या है? क) गंदा हो जाना ख) मेहनत करना ग) हार जाना घ) बैठना	ख) मेहनत करना
5	"रस्सी" शब्द किस प्रकार की संज्ञा है? क) व्यक्तिवाचक ख) जातिवाचक ग) भाववाचक घ) समूहवाचक	ख) जातिवाचक
6	"जोश-खरोश" का सही पर्यायवाची शब्द क्या है? क) उत्साह ख) गुस्सा ग) दुख घ) प्यार	क) उत्साह
7	निम्नलिखित में से कौन सा खेल घर के बाहर खेला जाता है? क) कैरमबोर्ड ख) रस्साकशी ग) शतरंज घ) साँप-सीढ़ी	ख) रस्साकशी
8	"सीना ताने रहो" का मतलब क्या है? क) अकड़ कर चलना ख) आत्मविश्वास के साथ खड़ा रहना ग) आलस करना घ) हार मानना	ख) आत्मविश्वास के साथ खड़ा रहना
9	शुद्ध वर्तनी वाला शब्द चुनें- क) रसि ख) रस्सी ग) रसिी घ) रसी	ख) रस्सी

10	"साथी" का विलोम शब्द क्या होगा? क) दुश्मन ख) मित्र ग) परिवार घ) विरोधी	घ) विरोधी
11	"रस्साकशी" खेल को खेलने के लिए सबसे आवश्यक क्या है? क) गेंद ख) रस्सी ग) बल्ला घ) दौड़ने की जगह	ख) रस्सी
12	"बाहर खेले जाने वाले खेलों "में से कौन सा खेल ताकत और धीरज बढ़ाता है? क) रस्साकशी ख) कैरमबोर्ड ग) शतरंज घ) लूडो	क) रस्साकशी
13	इनमें से कौन सा खेल घर के भीतर खेला जाता है? क) खो-खो ख) फुटबॉल ग) लूडो घ) बैडमिंटन	ग) लूडो
14	नीचे दिए गए शब्दों में से सही **तुक** वाले शब्द को चुनें– क) सीना – ताने ख) अकड़–पकड़ ग) कमर–कमरा घ) आड़ी–तिरछी	ख) अकड़–पकड़
15	निम्नलिखित में से असंगत खेल का चयन करें: क) खो-खो ख) क्रिकेट ग) लूडो घ) रस्साकशी	ग) लूडो

गृहकार्य

क्रस.	प्रश्न	उत्तर
1	"रस्साकशी" में मुख्य कार्य क्या है? क) खेलना ख) खींचना ग) लड़ना घ) गाना	ख) खींचना
2	"जोश-खरोश"का सही अर्थ क्या है? क) थकावट ख) ऊर्जा ग) दुख घ) सुस्ती	ख) ऊर्जा
3	"सिल हुए सब घाव करारे"का अर्थ क्या है? क) चोट ठीक हो गई ख) गुस्सा आ गया ग) चोट बढ़ गई घ) दर्द कम हो गया	क) चोट ठीक हो गई

4	"खींचो"का समानार्थी शब्द क्या है? क) थामो ख) पकड़ो ग) खींचना घ) ले जाओ	ग) खींचना
5	"रस्सी का छोर" का सही अर्थ क्या है? क) रस्सी का अंत ख) रस्सी का बीच ग) रस्सी का आरंभ घ) रस्सी का जोड़	क) रस्सी का अंत
6	"टीम बनाकर खेले जाने वाले खेल"का उदाहरण क्या है? क) क्रिकेट और खो-खो ख) लूडो और शतरंज ग) साँप-सीढ़ी और फुटबॉल घ) बैडमिंटन और रस्साकशी	क) क्रिकेट और खो-खो
7	"शतरंज" और "कैरमबोर्ड" में मुख्य अंतर क्या है? क) शतरंज में योजना बनानी पड़ती है ख) कैरमबोर्ड में दौड़ना पड़ता है ग) शतरंज में दौड़ने की आवश्यकता है घ) कैरमबोर्ड में दो खिलाड़ी ही खेल सकते हैं	क) शतरंज में योजना बनानी पड़ती है
8	बैडमिंटन में _____ और _____ का उपयोग होता है। क) गेंद, बल्ला ख) पासा, रस्सी ग) रैकेट, शटल घ) बल्ला, शटल	ग) रैकेट, शटल
9	खो-खो को खेलने के लिए___ टीमों की ज़रूरत होती है। क) तीन ख) दो ग) चार घ) पाँच	ख) दो
10	पढ़ें और सही उत्तर चुनें– (i) फुटबॉल क) रैकेट और शटल का खेल (ii) कैरमबोर्ड ख) खींचने का खेल (iii) रस्साकशी ग) गोटी चलाने का खेल (iv) बैडमिंटन घ) गोल बनाने का खेल क) (i) – क (ii) –ख (iii)- ग (iv) –घ ख) (i) – ख (ii) –ग (iii) –घ (iv) –क ग) (i) – ग (ii) –घ (iii) –क (iv) –ख घ) (i)- घ (ii) –ग (iii) –ख (iv) –क	घ) (i)- घ (ii) –ग (iii) –ख (iv) –क

पाठ – 11

पाठ का नाम:- एक जादुई पिटारा

कक्षाकार्य

क्रस.	**प्रश्न**	**उत्तर**
1	"आसमान ले पहुँचा भाई" में किसने आसमान पहुँचाया? क) घोड़ा ख) इंजन ग) गुब्बारा घ) भैंसा	क) घोड़ा
2	अनाज हुआ बारह सौ सेर' में 'अनाज' का अर्थ क्या है? क) चावल ख) अनाज ग) गेहूं घ) दाल	ख) अनाज
3	"गप्पू गोला" में क्या बाँधा गया था? क) रस्सी ख) धागा ग) सुतली घ) जाल	ग) सुतली
4	इंजन' शब्द का बहुवचन क्या होगा? क) इंजनों ख) इंजन ग) इंजनें घ) इंजने <	क) इंजनों
5	कठपुतली ने क्या गाड़ा? क) कील ख) रस्सी ग) खूँट घ) झूला	ग) खूँट
6	"भैंसे लाकर जोता खेत" में कौन सा क्रिया शब्द है? क) लाकर ख) खेत ग) जोता घ) भैंसे	ग) जोता
7	कविता में कितने ऊँट निकले? क) सौ ख) एक हजार ग) नौ सौ घ) बारह सौ	ग) नौ सौ
8	**खूँट** का बहुवचन क्या होगा? क) खूँटे ख) खूँटों ग) खूँटा घ) खूँटी	क) खूँटे
9	'खेत में नाचते किसान' वाक्य में कौन-सा विशेषण है? क) खेत ख) किसान ग) नाचते घ) सभी	ग) नाचते

10	कविता में 'सुपारी' काटने पर क्या निकला? क) नारियल ख) घोड़ा ग) आटा घ) गुब्बारा	ग) आटा
11	नारियल फोड़ा' का सही अर्थ क्या है? क) गिराया ख) खोला ग) तोड़ा घ) चढ़ाया	ख) खोला
12	**'एक जादुई पिटारा'** कविता का मुख्य संदेश क्या है? क) कल्पना से नई चीजें सीखना ख) नारियल का उपयोग ग) मेहनत का महत्व घ) चिड़िया का महत्व	क) कल्पना से नई चीजें सीखना
13	कविता में 'घोड़े' का वर्णन किस प्रकार किया गया है? क) तेज़ ख) उड़ने वाला ग) धीमा घ) चलने वाला	ख) उड़ने वाला
14	"भैंसे' शब्द का एकवचन क्या होगा? क) भैंस ख) भैंसें ग) भैंसों घ) भैंसी	क) भैंस
15	"कठपुतली" शब्द किससे संबंधित है? क) खेल ख) कठपुतली नाच ग) नृत्य घ) कोई नहीं	ख) कठपुतली नाच

गृहकार्य

क्रस.	प्रश्न	उत्तर
1	**'खुशी'** का सही पर्यायवाची क्या है? क) दुख ख) गुस्सा ग) प्रसन्नता घ) निराशा	ग) प्रसन्नता
2	**खूँट** किस से संबंधित है? क) खेत ख) इंसान ग) जानवर घ) पेड़	ग) जानवर
3	**'नाचने'** का पर्यायवाची शब्द चुनें। क) चलना ख) नृत्य करना ग) भागना घ) फिसलना	ख) नृत्य करना

4	कविता में आसमान में क्या मिला? क) इंजन ख) भैंसे ग) गुब्बारा घ) घोड़ा	ग) गुब्बारा
5	**'इंजन'** किस से संबंधित है? क) गाड़ी ख) गुब्बारा ग) खेत घ) भैंसा	क) गाड़ी
6	**खूँट** शब्द का सही वाक्य में उपयोग करें। क) जानवर खूँट से बंधा है। ख) खूँट ऊँचाई पर है। ग) खेत में खूँट पड़ा है। घ) कोई नहीं	क) जानवर खूँट से बंधा है।
7	**'सुपारी'** किस वस्तु से संबंधित है? क) फल ख) फूल ग) बीज घ) भोजन	ग) बीज
8	"**पिटारा**" में कौन-सा विशेषण जुड़ा है? क) जादुई ख) बड़ा ग) कठोर घ) अच्छा	क) जादुई
9	**'खुश'** का सही विलोम शब्द क्या होगा? क) निराश ख) प्रसन्न ग) दुखी घ) संतोष	ग) दुखी
10	नाचने वाले किसान कविता में क्या दर्शाते हैं? क) खेत में मेहनत ख) संघर्ष ग) खुशी और आनंद घ) नारियल का उपयोग	ग) खुशी और आनंद

पाठ – 12
पाठ का नाम– अपना काम

कक्षाकार्य

क्रम स.	**प्रश्न**	**उत्तर**
1	सिमरन ने बाग में क्या करते हुए थकावट महसूस की? क) खेलते हुए ख) मधुमक्खी पकड़ते हुए ग) स्कूल का काम करते हुए घ) गाना गाते हुए	ग) स्कूल का काम करते हुए
2	मधुमक्खियाँ किस काम में व्यस्त थीं? क) पानी पीने में ख) पेड़ों पर चढ़ने में ग) फूलों का रस इकट्ठा करने में घ) गाना गाने में	ग) फूलों का रस इकट्ठा करने में
3	**'परिश्रम'** शब्द का सही अर्थ क्या है? क) मेहनत ख) आराम ग) खेल घ) शोर	क) मेहनत
4	'**सुखी**' शब्द का विलोम क्या है? क) खुश ख) आराम ग) दुखी घ) थकान	ग) दुखी
5	सिमरन ने किसे देखकर सोचा कि वह चिड़िया बनना चाहती है? क) मधुमक्खियों को ख) चिड़ियों को ग) पेड़ को घ) नदी को	ख) चिड़ियों को
6	'**पंख**' शब्द का वचन क्या है? क) एकवचन ख) दोनों बहुवचन ग) दोनों घ) इनमें से कोई नहीं	क) एकवचन
7	सिमरन ने किससे परिश्रम करने की प्रेरणा ली? क) चिड़िया से ख) मधुमक्खी से ग) पेड़ से घ) सभी से	घ) सभी से
8	सारे दिन उड़-उड़कर रस इकट्ठा करते-करते हमारे पंख थक जाते हैं।" इस वाक्य में '**रस**' का पर्यायवाची शब्द क्या हो सकता है? क) पानी ख) हवा ग) अमृत घ) पेड़	ग) अमृत

9	सिमरन ने सबसे पहले क्या बनने की इच्छा व्यक्त की? क) पेड़ ख) मधुमक्खी ग) चिड़िया घ) घोंसला	ख) मधुमक्खी
10	'**काम**' शब्द का विलोम शब्द क्या है? क) आराम ख) थकावट ग) मेहनत घ) ऊर्जा	क) आराम
11	कहानी का मुख्य संदेश क्या है? क) चिड़ियों की मौज ख) परिश्रम का महत्व ग) आराम से जीवन जीना घ) पेड़ों की मदद	ख) परिश्रम का महत्व
12	"**फूल**" शब्द का बहुवचन क्या है? क) फूलों ख) फूलियां ग) फुला घ) फुल्ले	क) फूलों
13	सिमरन ने पेड़ को देखकर क्या सोचा? क) पेड़ आराम करता है ख) पेड़ बातें करता है ग) पेड़ भागता है घ) पेड़ रस इकट्ठा करता है	क) पेड़ आराम करता है
14	कहानी में '**परिश्रम**' का क्या महत्व बताया गया है? क) यह थकावट लाता है ख) यह असंभव है ग) यह जीवन जीने का तरीका है घ) यह आनंद देता है	ग) यह जीवन जीने का तरीका है

गृहकार्य

क्रस.	प्रश्न	उत्तर
1	**पुस्तक** शब्द का बहुवचन क्या होगा? क) पुस्तकों ख) पुस्तकें ग) पुस्तके घ) पुस्तका	ख) पुस्तकें
2	चिड़ियों ने सिमरन से क्या कहा? क) उड़ने में कोई कठिनाई नहीं होती ख) उड़ते-उड़ते थक जाती हूँ ग) घर में आराम करती हूँ घ) भोजन ढूँढ़ना आसान है	ख) उड़ते-उड़ते थक जाती हूँ
3	'मधुमक्खियाँ कहाँ से रस इकट्ठा करती हैं? क) फूलों से ख) जलाशयों से ग) पेड़ से घ) पत्तियों से	क) फूलों से

4	"सारे दिन पंख फैलाकर उड़ना पड़े तो..." इस वाक्य में क्रिया शब्द कौन सा है? क) फैलाकर ख) सारे ग) उड़ना घ) तो	ग) उड़ना
5	आनंदपूर्वक' शब्द का अर्थ क्या है? क) दुःखी होकर ख) खुशी से ग) गुस्से में घ) ध्यान से	ख) खुशी से
6	सिमरन ने सबसे पहले क्या देखा जब उसने बाग में किताब रखी? क) चिड़ियाँ उड़ती हुई ख) फूल खिलते हुए ग) मधुमक्खियाँ उड़ती हुई घ) पेड़ लहराते हुए	ग) मधुमक्खियाँ उड़ती हुई
7	सिमरन ने क्यों कहा, "इतना सारा लिखने-पढ़ने का काम"? क) क्योंकि उसे खेलने का मन था ख) क्योंकि उसे गाने का मन था ग) क्योंकि उसे पढ़ाई से थकावट हो रही थी घ) क्योंकि उसे सोने काम न था	ग) क्योंकि उसे पढ़ाई से थकावट हो रही थी
8	"सारे दिन उड़-उड़कर रस इकट्ठा करते-करते हमारे पंख थक जाते हैं।" यह वाक्य किसने कहा था? क) सिमरन ने ख) पेड़ ने ग) चिड़िया ने घ) मधुमक्खी ने	घ) मधुमक्खी ने
9	बिना परिश्रम के क्या नहीं मिल सकता? क) फल ख) फूल ग) मिठाई घ) कुछ भी	घ) कुछ भी
10	कहानी में सिमरन ने आखिर में क्या करना शुरू किया? क) मधुमक्खी बन गई ख) पढ़ाई में मन लगाया ग) पेड़ पर चढ़ गई घ) चिड़िया का पीछा किया	ख) पढ़ाई में मन लगाया

पाठ– 13

पाठ का नाम – पेड़ों की अम्मा 'थिकम्मा'

कक्षाकार्य

क्रस.	**प्रश्न**	**उत्तर**
1	थिकम्मा को 'पेड़ों की अम्मा' क्यों कहा जाता है? क) वह सबको खाना बनाकर खिलाती थीं ख) उन्होंने लाखों पेड़ लगाए ग) वह जंगल में रहती थीं घ) वह किसानों की मदद करती थीं	ख) उन्होंने लाखों पेड़ लगाए
2	थिकम्मा किस राज्य की रहने वाली थीं? क) उत्तरप्रदेश ख) केरल ग) कर्नाटक घ) तमिलनाडु	ग) कर्नाटक
3	थिकम्मा की सबसे बड़ी विशेषता क्या थी? क) वह पढ़ाई में तेज थी ख) वह लोगों को शिक्षा देती थी ग) वह पर्यावरण संरक्षण करती थी घ) वह अच्छे कपड़े पहनती थी	ग) वह पर्यावरण संरक्षण करती थी
4	अम्मा का असली नाम क्या था? क) सवित्री ख) थिकम्मा ग) तुलसी घ) सालूमरदा थिमक्का	ख) थिकम्मा
5	थिकम्मा ने कौन से पेड़ सबसे ज़्यादा लगाए? क) आम ख) पीपल ग) बरगद घ) संतरा	ग) बरगद
6	थिकम्मा ने कितने से अधिक पेड़ लगाए? क) 200 ख) 300 ग) 8000 घ) 1000	ग) 8000
7	थिकम्मा का जीवन हमें क्या सिखाता है? क) मेहनत का महत्व ख) पर्यावरण का संरक्षण ग) बच्चों की देखभाल घ) शिक्षा का महत्व	ख) पर्यावरण का संरक्षण
8	थिकम्मा ने पेड़ों की देखभाल कैसे की? क) उन्हें पानी देती थी ख) उनका ध्यान रखती थी ग) उन्हें समय –समय पर खाद डालती थी घ) उपरोक्त सभी	घ) उपरोक्त सभी

9	थिकम्मा ने पेड़ लगाने का काम क्यों शुरू किया? क) अपने बच्चों के लिए ख) पर्यावरण को बचाने के लिए ग) खाली समय में घ) पैसे कमाने के लिए	ख) पर्यावरण को बचाने के लिए
10	थिकम्मा के लगाए पेड़ किसके लिए उपयोगी थे? क) केवल उनके परिवार के लिए ख) केवल पक्षियों के लिए ग) सभी के लिए घ) केवल पर्यावरण के लिए	ग) सभी के लिए
11	थिकम्मा ने पेड़ लगाने का कार्य किसके साथ शुरू किया? क) अपने भाई के साथ ख) अपने पति के साथ ग) अकेले घ) अपने दोस्तों के साथ	ग) अकेले
12	थिकम्मा को कौन सा सम्मान मिला? क) भारत रत्न ख) पद्मश्री ग) नोबेल पुरस्कार घ) ज्ञानपीठ पुरस्कार	ख) पद्मश्री
13	निम्नलिखित में से विशेषण शब्द चुनिए: क) थिकम्मा ख) सुंदर ग) पेड़ घ) लगाना	ख) सुंदर
14	**'पेड़'** शब्द का वचन बदलकर लिखें: क) पेड़ों ख) पेड़ का ग) पेड़ें घ) पेड़ी	क) पेड़ों
15	**'अम्मा'** शब्द का समानार्थी शब्द क्या है? क) माता ख) बहन ग) दीदी घ) नानी	क) माता

गृहकार्य

क्रस.	**प्रश्न**	**उत्तर**
1	थिकम्मा के काम को क्या माना जाता है? क) अद्वितीय योगदान ख) साधारण प्रयास ग) व्यर्थ प्रयास घ) परंपरा का हिस्सा	क) अद्वितीय योगदान
2	थिकम्मा का कौन-सा कार्य सबसे अधिक प्रसिद्ध हुआ? क) बच्चों को पढ़ाना ख) जल संरक्षण ग) पेड़ लगाना घ) खेती करना	ग) पेड़ लगाना

3	थिकम्मा ने किस प्रकार के पेड़ों को प्राथमिकता दी? क) फूलों के पेड़ ख) फलदार पेड़ ग) छायादार पेड़ घ) छोटे पौधे	ग) छायादार पेड़
4	थिकम्मा _____ के किनारे पौधे लगा रही हैं। क) सड़क ख) नदी ग) दुकान घ) घर	क) सड़क
5	'थिकम्मा ने कई पेड़ लगाए थे।' वाक्य का काल क्या है? क) भूत काल ख) वर्तमान काल ग) भविष्य काल घ) इनमें से कोई नहीं	क) भूत काल
6	'पेड़' शब्द का सही पर्यायवाची क्या है? क) सरोज ख) सुमन ग) वृक्ष घ) कमल	ग) वृक्ष
7	थिकम्मा की आयु कितनी है? क) 100 ख) 107 ग) 99 घ) 110	ख) 107
8	थिकम्मा ने किसके बल पर ये सामाजिक कार्य किया? क) हुनर ख) आलस ग) बुद्धि घ) निष्ठा और श्रद्धा	घ) निष्ठा और श्रद्धा
9	पढ़ें और सही उत्तर चुनें – i) ने क) भुज ii) वृ ख) मिक iii) श्र ग) क्ष iv) त्रि घ) त्र क) (i) – क (ii) – ख (iii)- ग (iv) – घ ख) (i) – ख (ii) – ग (iii) – घ (iv) – क ग) (i) – ग (ii) – घ (iii) – क (iv) – ख घ) (i)- घ (ii) – ग (iii) – ख (iv) – क	घ) (i)- घ (ii) – ग (iii) – ख (iv) – क
10	पेड़ों से हमें क्या <u>नहीं</u> मिलता है? क) फल ख) कागज़ ग) फूल घ) स्टील	घ) स्टील

पाठ– 14
पाठ का नाम – किसान की होशियारी

कक्षाकार्य

क्रम स.	**प्रश्न**	**उत्तर**
1	कहानी में किसान ने किसकी होशियारी से समस्या सुलझाई? क) अपने बेटे की ख) अपनी पत्नी की ग) अपनी खुद की घ) अपने मित्र की	ग) अपनी खुद की
2	किसान के खेत में कौन सा जानवर आ पहुंचा था? क) भेड़ ख) सूअर ग) भालू घ) बंदर	ग) भालू
3	भालू ने किसान से पहली बार कहाँ की उपज माँगी? क) नीचे की ख) ऊपर की ग) सामने की घ) बाहर की	ख) ऊपर की
4	किसान ने सबसे पहले कौन सी फसल बोई? क) अदरक ख) पालक ग) सेब घ) आलू	घ) आलू
5	कहानी की शुरुआत में किसान अपने खेत में क्या कर रहा था? क) पानी डाल रहा था ख) बीज बो रहा था ग) खेत जोत रहा था घ) फसल काट रहा था	ग) खेत जोत रहा था
6	किसान ने अपनी सुरक्षा के लिए क्या उपाय अपनाया? क) भाग गया ख) भालू से समझौता किया ग) भालू से माफी माँगी घ) कोई उपाय नहीं किया	ख) भालू से समझौता किया
7	कहानी का मुख्य संदेश क्या है? क) मेहनत करने का महत्व ख) होशियारी और बुद्धिमानी से समस्या का समाधान करना ग) भालू की दया घ) जानवरों की मदद करन	ख) होशियारी और बुद्धिमानी से समस्या का समाधान करना

8	किसान की सबसे बड़ी ताकत क्या थी? क) उसका साहस ख) उसकी मेहनत ग) उसकी होशियारी घ) उसकी फसल	ग) उसकी होशियारी
9	किसान ने ऊपर की फसल लेने के लिए क्या बोया? क) गाजर ख) दाल ग) गेहूँ घ) आलू	ग) गेहूँ
10	आलू की फसल होने पर भालू को क्या मिला? क) आलू ख) जड़े ग) पत्ते घ) फल	ग) पत्ते
11	'किसान' शब्द का बहुवचन क्या है? क) किसानों ख) किसाना ग) किसानो घ) किसानी	क) किसानों
12	'भालू किसान को मारने झपटा।' इस वाक्य का काल पहचानिए। क) वर्तमान काल ख) भूत काल ग) भविष्य काल घ) अपूर्णभूत काल	ख) भूत काल
13	**'खेत'** शब्द में कितने वर्ण हैं? क) 2 ख) 3 ग) 4 घ) 5	क) 2
14	**'समस्या'** का विलोम शब्द क्या होगा? क) समाधान ख) प्रश्न ग) कठिनाई घ) लाभ	क) समाधान
15	**'गन्ने'** शब्द का एक़वचन पहचानिए। क) गन्ना ख) गन्नों ग) गन्नाए घ) गाने	क) गन्ना

गृहकार्य

क्रस.	प्रश्न	उत्तर
1	किसान ने किसका सामना होशियारी से किया? क) चोरों का ख) राजा का ग) भालू का घ) ग्रामीणों का	ग) भालू का
2	भालू खेत में क्यों आया था? क) भोजन के लिए ख) पानी पीने के लिए ग) खेलने के लिए घ) खेत को नष्ट करने के लिए	क) भोजन के लिए
3	कहानी में किसकी समझदारी सबसे ज्यादा दिखती है? क) राजा की ख) किसान की ग) हाथी की घ) भालू की	ख) किसान की
4	कहानी किस प्रकार की है? क) हास्यपूर्ण ख) प्रेरणादायक ग) डरावनी घ) दुखद	ख) प्रेरणादायक
5	भालू क्या खाना पसंद करता है? क) शहद ख) माँस ग) दोनों घ) इनमे से कोई नहीं	ग) दोनों
6	पत्ते के रूप मे खाए जाने वाली सब्जी इन मे से कौन सी है ? क) पालक ख) मूली ग) टमाटर घ) आलू	क) पालक
7	किसान ने इन मे से कौन सी सब्जी नहीं बोई थी? क)आलू ख) गन्ना ग) गेहूँ घ) प्याज़	घ) प्याज़
8	'मुझे क्यों मारते हो__' उचित विराम चिन्ह चुनिए। क) पूर्ण विराम '।' ख) विस्मबोधक चिन्ह '! ग) प्रश्न चिन्ह '?' घ) अल्पविराम ‘,’	ग) प्रश्न चिन्ह '?'

9	पाठ में गेहूँ के लिए कौन सा विशेषण इस्तेमाल किया गया है? क) चमकीले ख) ताज़े ग) मीठे घ) सुंदर	ग) प्रश्न चिन्ह '?'
10	**'चतुराई'** शब्द का विलोम शब्द पहचानिए। क) चालाकी ख) मूर्खता ग) होशियार घ) बुद्धिमान	ख) मूर्खता

पाठ- 15

पाठ का नाम- भारत

<u>कक्षाकार्य</u>

प्र. सं.	प्रश्न	उत्तर
1	"हम सदैव तेरा गुण गाएँगे" कहने का कवि का क्या आशय है? क) कवि भारत की स्तुति करना चाहता है ख) कवि केवल धर्म की बात करना चाहता है ग) कवि भारत की समस्याओं पर बात करना चाहता है घ) कवि भारत की आलोचना करना चाहता है	क) कवि भारत की स्तुति करना चाहता है
2	निम्नलिखित में से किस शब्द की वर्तनी सही है? क) पविञ ख) पवित्र ग) पवित्र्र घ) पवितर	ख) पवित्र
3	कवि के अनुसार '**रत्न**' शब्द से क्या संकेत किया गया है? क) मूल्यवान वस्त्र ख) सुंदर फूल ग) हीरा, मोती, नीलम घ) केवल सोना	ग) हीरा, मोती, नीलम
4	"**गंगा**" शब्द में कौन-कौन से वर्ण हैं? क) ग, न, ग, आ ख) ग, न, ज, आ ग) ग, म, ग, आ घ) ग, न, ग, ई	क) ग, न, ग, आ
5	भारत में कौन सा पर्वत '**पवित्र ताज**' कहा गया है? क) विंध्याचल ख) अरावली ग) हिमालय घ) नीलगिरी	ग) हिमालय
6	निम्नलिखित में से किस शब्द का विलोम "**सजीव**" है? क) निर्जीव ख) जीवित ग) सजीवता घ) जीवी	क) निर्जीव
7	गंगा और यमुना किस के प्रतीक माने जाते है? क) केवल प्राकृतिक संसाधनों के ख) जीवन और शुद्धता के ग) युद्ध और शांति के घ) व्यापार के	ख) जीवन और शुद्धता के
8	कविता में '**पुत्रों**' का किस रूप में उल्लेख किया गया है? क) भारतीय नागरिक ख) राम और कृष्ण ग) कवि के अनुयायी घ) महान विभूतियाँ	घ) महान विभूतियाँ
9	"भारत के सुंदर" वाक्यांश में "**सुंदर**" का पर्यायवाची शब्द क्या है? क) अद्भुत ख) मनोहर ग) धार्मिक घ) छोटा	ख) मनोहर

10	"**भारत**" शब्द का वचन क्या है? क) एकवचन ख) द्विवचन ग) बहुवचन घ) सर्वनाम	क) एकवचन
11	निम्नलिखित में से कौन सा शब्द विशेषण है? क) भारत ख) सुंदर ग) गंगा घ) नदी	ख) सुंदर
12	हिमालय के बारे में निम्नलिखित में से क्या सत्य है? क) यह समुद्र के किनारे स्थित है ख) यह भारत का एक ताज है ग) यह रेगिस्तान में है घ) यह पर्वत नहीं है	ख) यह भारत का एक ताज है
13	'**भारत**' शब्द का क्या अर्थ है? क) केवल प्राकृतिक संपत्ति ख) सभी प्रकार की समृद्धि ग) पर्वत और नदियाँ घ) केवल सांस्कृतिक धरोहर	ख) सभी प्रकार की समृद्धि
14	"हमारा देश" वाक्य में "हमारा" शब्द कौनसा सर्वनाम है? क) पुरुषवाचक ख) निश्चयवाचक ग) अनिश्चितवाचक घ) संपत्तिवाचक	ख) निश्चयवाचक
15	"**गंगा बहती है**" वाक्य में क्रिया कौन-सी है? क) गंगा ख) बहती ग) है घ) दोनों ख) और (ग)	ख) बहती

गृहकार्य

प्र. सं.	प्रश्न	उत्तर
1	भारत में "**पुत्र**" शब्द से कवि का क्या तात्पर्य है? क) धार्मिक अनुयायी ख) भारत के नागरिक ग) भारतीय संस्कृति घ) कवि के मित्र	ख) भारत के नागरिक
2	हिमालय को भारत का '**मुकुट**' क्यों कहा जाता है? क) इसकी ऊँचाई के कारण ख) इसका धार्मिक महत्व है ग) यह भारत के उत्तर में है घ) इसका सौंदर्य	क) इसकी ऊँचाई के कारण
3	गंगा और यमुना का प्रवाह भारत में किस दिशा की ओर होता है? क) पूर्व की ओर ख) दक्षिण की ओर ग) उत्तर की ओर घ) पश्चिम की ओर	क)पूर्व की ओर

4	"भारत का मुकुट हिमालय है" वाक्य में "**हिमालय**" का लिंग क्या है? क) पुल्लिंग ख) स्त्रीलिंग ग) नपुंसकलिंग घ) विशेषण	क)पुल्लिंग
5	भारत के किस भूभाग को प्राकृतिक सौंदर्य का प्रतीक माना गया है? क) दक्षिणीतट ख) हिमालय ग) कश्मीर घ) रेगिस्तान	ख) हिमालय
6	भारत के लिए "रत्नों का देश" का उल्लेख क्यों किया गया है? क) यहाँ प्राकृतिक संसाधन अधिक है ख) यहाँ पर्वत है ग) यहाँ नदी है घ) यहाँ रेगिस्तान है	क) यहाँ प्राकृतिक संसाधन अधिक है
7	"**भारत**" शब्द में कितने वर्ण है? क) तीन ख) चार ग) पाँच घ) दो	ख) चार
8	'**गंगा**' और '**यमुना**' का नाम लेते समय कवि का क्या तात्पर्य है? क) पर्यटनस्थल ख) भारत की जीवन दायिनी नदियाँ ग) विदेशी नदियाँ घ) केवल धार्मिक स्थल	ख) भारत की जीवन दायिनी नदियाँ
9	हिमालय का क्या महत्व है? क) यह उत्तर में स्थित है ख) यह प्राकृतिक संसाधन है ग) यह भारत का एकताज है घ) यह सुंदर है	ग) यह भारत का एकताज है
10	"**पवित्र**" शब्द का विलोम क्या होगा? क) पुण्य ख) शुद्ध ग) अपवित्र घ) पावन	ग) अपवित्र

पाठ- 16

पाठ का नाम- चंद्रयान

<u>कक्षाकार्य</u>

प्र. सं.	**प्रश्न**	**उत्तर**
1	चंद्रयान-3 को चाँद के किस भाग पर उतारा गया? क) पूर्वी ध्रुव ख) उत्तरी ध्रुव ग) दक्षिणी ध्रुव घ) पश्चिमी ध्रुव	ग) दक्षिणी ध्रुव
2	चाँद पर भेजी गई मशीन का नाम क्या था? क) चंद्रयान ख) मंगलयान ग) विक्रम लैंडर घ) पृथ्वीयान	ग) विक्रम लैंडर
3	"**अंतरिक्ष**" का विलोम शब्द क्या होगा? क) पृथ्वी ख) ग्रह ग) सागर घ) आकाश	क) पृथ्वी
4	"**अनुसंधान**" शब्द का अर्थ क्या है? क) खोज ख) यात्रा ग) खेल घ) संघर्ष	क) खोज
5	"**रॉकेट**" शब्द में कितने वर्ण है? क) दो ख) चार ग) तीन घ) पाँच	ग) तीन
6	चंद्रयान मिशन से भारतीय वैज्ञानिकों को सबसे बड़ी प्रेरणा किस बात से मिली? क) अंतरिक्ष में उड़ान भरने से ख) चाँद पर उतरने की कठिनाइयों को दूर करने से ग) चाँद पर लोगों को बसाने से घ) भारतीय ध्वज स्थापित करने से	ख) चाँद पर उतरने की कठि को दूर करने से
7	चंद्रयान-3 मिशन के तहत भारत ने चाँद पर किस बात की खोज की? क) जीवन ख) खनिज पदार्थ ग) जल घ) वायुमंडल	ग) जल
8	चंद्रयान-3 को चाँद के दक्षिणी ध्रुव पर भेजने का मुख्य कारण क्या था? क) वहाँ अधिक रोशनी होती है ख) वहाँ जल होने की संभावना है ग) वहाँ जीवन है घ) वहाँ बादल नहीं होते	ख) वहाँ जल होने की संभावना है

9	चंद्रयान-3 किस वर्ष चाँद पर उतरा? क) 2018 ख) 2019 ग) 2020 घ) 2023	घ) 2023
10	"**प्रज्ञान**" का तुकांत शब्द क्या होगा? क) विज्ञान ख) चंद्रमा ग) अनुसंधान घ) रॉकेट	क) विज्ञान
11	चाँद पर उतरने वाला भारत का पहला यान कौन-सा था? क) चंद्रयान-1 ख) चंद्रयान-2 ग) चंद्रयान-3 घ) मंगलयान	क) चंद्रयान-1
12	"**प्रज्ञान**" नामक रोवर चाँद पर क्या कार्य कर रहा है? क) वहाँ के वातावरण का अध्ययन ख) वहाँ की मिट्टी का अध्ययन ग) चाँद पर ऊर्जा उत्पादन घ) वहाँ का तापमान मापना	ख) वहाँ की मिट्टी का अध्ययन
13	चंद्रयान-3 के प्रक्षेपण के बाद भारत को किस बात पर गर्व हुआ? क) विकास ख) विज्ञान में प्रगति ग) चाँद पर पहुंचने वाला चौथा देश बनने पर घ) नए यान के निर्माण पर	ग) चाँद पर पहुंचने वाला चौथा देश बनने पर
14	किस यान ने चाँद पर उतरने में सफलता पाई? क) मंगलयान ख) चंद्रयान-3 ग) गगनयान घ) शुक्रयान	ग) गगनयान
15	"**सफल**" का विलोम शब्द क्या होगा? क) असफल ख) सक्षम ग) प्रसिद्ध घ) सुंदर	क) असफल

गृहकार्य

प्र. सं.	प्रश्न	उत्तर
1	"मिशन" का पर्यायवाची क्या है? क) अभियान ख) विमान ग) कार्य घ) प्रयास	क) अभियान
2	भारत ने चाँद पर रोवर भेजने में कौन-सा देश बन गया है? क) पहला ख) दूसरा ग) तीसरा घ) चौथा	घ) चौथा

3	भारतीय वैज्ञानिकों ने चंद्रयान-3 के मिशन से पहले भी अंतरिक्ष में कई मिशन किए थे। **चंद्रयान-3** किस प्रकार विशेष था? क) यह भारत का पहला अंतरिक्षमिशन था ख) यह भारत का पहला मिशन था जिसने चाँद के दक्षिणी ध्रुव पर सफलता पाई ग) यह भारत का मंगल ग्रहमिशन था घ) यह केवल एक परीक्षण मिशन था	ख) यह भारत का पह मिशन था जिसने चाँद के दक्षिणी ध्रुव पर सफलता पाई
4	"**अनुसंधान**" का तुकांत शब्द क्या होगा? क) अंतरिक्ष ख) अभियान ग) सफल घ) रॉकेट	ख) अभियान
5	"**चंद्रयान**" में कितने वर्ण हैं? क) तीन ख) चार ग) पाँच घ) छः	ग) पाँच
6	चंद्रयान मिशन का उद्देश्य क्या था? क) चाँद पर जीवन ढूँढ़ना ख) खनिज पदार्थ का अध्ययन ग) जल की खोज करना घ) चाँद के वायु मंडल का अध्ययन	ग) जल की खोज करना
7	"**लक्ष्य**" का पर्यायवाची शब्द क्या है? क) उद्देश्य ख) असफलता ग) साधन घ) सिद्धि	क) उद्देश्य
8	प्रज्ञान चाँद पर किसका अध्ययन कर रहा है? क) वायुमंडल ख) पानी और मिट्टी ग) केवल तापमान घ) चट्टानों	ख) पानी और मिट्टी
9	चंद्रयान-3 को प्रक्षेपित करने का उद्देश्य क्या था? क) चाँद की मिट्टी का विश्लेषण ख) चाँद पर जीवन की खोज ग) चाँद पर रोवर का उपयोग घ) चाँद के दक्षिणी ध्रुव पर उतरना	घ) चाँद के दक्षिणी ध्रुव पर उतरना
10	"**अंतरिक्ष**" का सही पर्यायवाची शब्द क्या होगा? क) आकाश ख) पवन ग) चंद्रमा घ) अभियान	क) आकाश

पाठ – 17

पाठ का नाम – बोलने वाली माँद

कक्षाकार्य

क्रम संख्या	**प्रश्न**	**उत्तर**
1	निमनलिखित में से कौन '**बोलने वाली माँद**' कहानी से संबंधित नहीं है ? क) लोमड़ी ख) सियार ग) सिंह घ) माँद	क) लोमड़ी
2	सियार ने क्या उम्मीद की थी? क) माँद जवाब देगी ख) सिंह बाहर आएगा ग) माँद चुप रहेगी घ) सिंह सो जाएगा	क) माँद जवाब देगी
3	**माँद** शब्द से मिलते जुलते शब्द पर निशान लगाओ? क) जाँच ख) दाँत ग) गाँव घ) उपरोक्त सभी	घ) उपरोक्त सभी
4	'**गुफा**' शब्द का पर्यायवाची क्या है? क) माँद ख) जंगल ग) पहाड़ घ) नदी	क) माँद
5	कहानी का मुख्य संदेश क्या है? क) झूठ बोलना सही है ख) समझदारी से काम लेना ग) गुस्सा करना घ) डरना जरूरी है	ख) समझदारी से काम लेना
6	**चूहा तक हाथ नहीं लगा**- वाक्य का क्या अर्थ हो सकता है? क) चूहा हाथ में ना आना ख) कुछ शिकार ना मिलना ग) चूहा ना मिलना घ) इनमें से कोई नहीं	ख) कुछ शिकार ना मिलना
7	माँद के द्वार पर सियार को किसके पैरो के चिन्ह दिखायी दिए? क) बिल्ली ख) भालू ग) सिंह घ) आदमी	ग) सिंह
8	किस जानवर ने सोच समझकर अपनी जान बचायी? क) भालू ख) सिंह ग) सियार घ) चीता	ग) सियार

9	'**सियार**' का वचन क्या है? क) एकवचन ख) बहुवचन ग) द्विवचन घ) इनमें से कोई नहीं	क) एकवचन
10	'**धोखा**' शब्द का सही विशेषण क्या होगा? क) धोखेबाज ख) धोखा देने वाला ग) धोखाधड़ी घ) धोखेदार	क) धोखेबाज
11	सही वाक्य चुनो- क) सोचते-सोचते उसे एक उपाय सूझ ही गया। ख) उसे सोचते-सोचते एक सूझ ही गया उपाय। ग) सोचते-सोचते उपाय उसे सूझ ही गया एक। घ) इनमें से कोई नहीं	ग) सोचते-सोचते उपाय उसे सूझ ही गया एक।
12	सिंह ने किस स्थान पर छिपने का निर्णय लिया? क) जंगल ख) झाडियों के पीछे ग) पेंडों मे घ) माँद	घ) माँद
13	**सिंह** शब्द का स्त्रीलिंग क्या होगा? क) सिंघनी ख) सिंघा ग) सिंघी घ) इनमें से कोई नहीं	क) सिंघनी
14	**"ऐ मेरी माँद, ऐ मेरी माँद।"** यह वाक्य किसने कहा? क) सियार ख) शिकारी ग) सिंह घ) हाथी	क) सियार
15	सिंह किसकी खोज में जंगल में घूम रहा था? क) शिकार ख) पेड़ पौधे ग) दोस्त घ) इनमें से कोई नहीं	क) शिकार

गृहकार्य

क्रम संख्या	**प्रश्न**	**उत्तर**
1	सही वाक्य चुनो- क) से नहीं क्या सकता हो सोचने। ख) सोचने से क्या नहीं हो सकता। ग) सकता सोचने से नहीं हो क्या। घ) इनमें से कोई नहीं।	ख) सोचने से क्या नहीं हो सकता।

2	सिंह की बोली क्या कहलाती है ? क) भौंकना ख) दहाड़ ग) रम्भाना घ) इनमें से कोई नहीं	ख) दहाड़
3	**कहानी** शब्द का बहुवचन क्या होगा? क) कहानियाँ ख) कहानीयो ग) कहानी घ) उपरोक्त सभी	क) कहानियाँ
4	**चम्पत** शब्द का अर्थ बताइए- क) चमत्कार होना ख) छलांग लगाना ग) भाग जाना घ) नाचने लगना	ग) भाग जाना
5	पैरो के चिन्ह माँद की ओर जाने के लिए तो थे, पर_____ के नहीं थे। क) जाने के ख) लौटने के ग) दौड़ने के घ) पैदल चलने के	ख) लौटने के
6	**वन** किस शब्द का पर्यायवाची है? क) पशु ख) पक्षी ग) जंगल घ) पेड़	ग) जंगल
7	किसने माँद के स्थान पर उत्तर दिया? क) सियार ख) सिंह ग) पक्षी घ) इनमें से कोई नहीं	ख) सिंह
8	माँद में रहने वाले सियार का क्या नाम था? क) दधिवीर ख) दनिवान् ग) दहिपुच घ) दधिपुच्छ	घ) दधिपुच्छ
9	**सिंह** किस प्रकार का जानवर है? क) शाकाहारी ख) मासाहारी ग) सर्वभक्षी घ) इनमें से कोई नहीं	ख) मासाहारी
10	**भीतर** शब्द का विलोम शब्द क्या होगा? क) अन्दर ख) सामने ग) पीछे घ) बाहर	घ) बाहर

पाठ – 18

पाठ का नाम – हम अनेक किंतु एक

कक्षाकार्य

क्रम स	प्रश्न	उत्तर
1	'**अनेक**' का विलोम शब्द क्या होगा? क) बहुत ख) कोई नहीं ग) एक घ) अलग	ग) एक
2	कविता का मुख्य विषय क्या है? क) एकता में बल ख) मेहनत का महत्व ग) मित्रता घ) यात्रा का आनंद	क) एकता में बल
3	यदि सौ का अर्थ - 100 है और हजार का अर्थ - 1000 है, तो लाख का अर्थ क्या होगा? क) 10,000 ख) 1,00,000 ग) 1,000,000 घ) 1,00,00,000	ख) 1,00,000
4	भारत देश में कुल कितने राज्य है? क) 26 ख) 29 ग) 28 घ) 30	ग) 28
5	हम किस प्रकार अनेक हैं? क) रंग, भाषा, पहनावा ख) आकार, खेल, विज्ञान ग) कला, संगीत, नृत्य घ) कोई नहीं	ग) कला, संगीत, नृत्य
6	'**रंग**' का विशेषण क्या हो सकता है? क) रंगीन ख) रंजक ग) रंगहीन घ) सभी सही	क) रंगीन
7	**बोली** शब्द का बहुवचन क्या होगा? क) बोलिये ख) बोलिया ग) बोलियाँ घ) इनमें से कोई नहीं	ग) बोलियाँ
8	भारत देश की राजभाषा क्या है? क) तमिल ख) हिंदी ग) अंग्रेजी घ) डोगरी	ख) हिंदी
9	हमारी विविधता हमें क्या सिखाती है? क) मतभेद करना ख) सहयोग करना ग) आलोचना करना घ) अलग होना	ख) सहयोग करना

10	'बोलियाँ हजार हैं' में **हजार** का अर्थ है— क) कम बोलियाँ ख) एक हजार बोलियाँ ग) बहुत सारी बोलियाँ हैं घ) उपरोक्त सभी	ग) बहुत सारी बोलियाँ हैं
11	**समक्ष** शब्द का अर्थ बताइये- क) बाद में ख) सामने ग) पहले घ) इनमें से कोई नहीं	ख) सामने
12	एक मातृभूमि है, एक _____ है । क) भूमि ख) माताभूमि ग) पितृभूमि घ) भारतभूमि	ग) पितृभूमि
13	राग शब्द के समान ध्वनि वाले शब्द लिखिए- क) दान, शान ख) वार, पार ग) भाग , जाग घ) खाना , दाना	ग) भाग , जाग
14	सभी मिलकर किसे दर्शाते हैं? क) एक बड़ा परिवार ख) एक महान राष्ट्र ग) एक मजबूत समाज घ) एक सफल जीवन	ख) एक महान राष्ट्र
15	**'हम'** में कौन-कौन शामिल होते हैं? क) विभिन्न राज्य ख) विभिन्न जातियां ग) विभिन्न धर्म घ) उपरोक्त सभी	घ) उपरोक्त सभी

गृहकार्य

क्र सं	प्रश्न	उत्तर
1	**'भारतीय वेश एक'** का अर्थ है— क) सभी भारतीयों का एक ही पहनावा है। ख) भारत में अनेक प्रकार की वेश-भूषा है, लेकिन सभी भारतीय एक हैं। ग) सब भारतीयों की एक से ज्यादा पहचान है । घ) सब भारतीयों की कोई पहचान नहीं है	ख) भारत में अनेक प्रकार की वेश-भूषा है, लेकिन सभी भारतीय एक है।
2	**टोलियाँ** शब्द में कौन सा वचन है? क) एकवचन ख) बहुवचन ग) द्विवचन घ) इनमें से कोई नहीं	ख) बहुवचन
3	भारत की राजधानी क्या है? क) नई दिल्ली ख) हरियाणा ग) जम्मू घ) राजस्थान	क) नई दिल्ली

4	निम्न में से किस वाक्य में किंतु शब्द का सही प्रयोग किया गया है? क) हम अनेक एक किंतु ख) हम किंतु अनेक एक ग) किंतु हम अनेक एक घ) हम अनेक किंतु एक	क) हम अनेक एक किंतु
5	कविता में प्रयुक्त शब्द भारतीय किस प्रकार का शब्द है ? क) संज्ञा ख) विशेषण ग) सर्वानाम् घ) क्रिया	ख) विशेषण
6	हमें किस पर गर्व करना चाहिए? क) अपनी अलग-अलग भाषाओं पर ख) अपने बल पर ग) अपनी संस्कृति पर घ) अपनी संपत्ति पर	ग) अपनी संस्कृति पर
7	'**हम अनेक किंतु एक**' का अर्थ क्या है? क) एकता में शक्ति ख) विविधता में सुंदरता ग) सभी अलग घ) अकेलापन	क) एकता में शक्ति
8	आप का प्रदेश कौन-सा है? क) जम्मू ख) उतारप्रदेश ग) केरल घ) अन्य	क) जम्मू
9	कदम मिलाकर चलने से आप क्या समझते हैं? क) कदम जोड़कर चलना ख) साथ मिलकर चलना ग) अलग अलग चलना घ) कदमताल करते हुए चलना	ख) साथ मिलकर चलना
10	**पहनावा** शब्द का क्या अर्थ है ? क) पहना हुआ कपड़ा ख) कपडे पहनना ग) वेश-बदलना घ) वेश – भूषा	घ) वेश – भूषा

MATHEMATICS

केन्द्रीय विद्यालय संगठन, जम्मू संभाग

KENDRIYA VIDYALAYA SANGATHAN, JAMMU REGION

LAT WORKSHEET
CLASS - III

SUBJECT - MATHEMATICS
CHAPTER NO. - 01
CHAPTER NAME - WHAT'S IN A NAME

CLASSWORK

Q. No.	Question	Answer
1	Choose the correct option given below: (a) 4 - (b) 5- (c) 3 -  (d) 2 -	b) 5
2	How will you show 16 using lines? (a) IIIII IIIII III (b) IIIII IIIII IIIII I (c) IIIII IIIII IIIIII (d) IIIIIIIIIIIIIII	B)
3	Which word has the maximum letters ? (a) Winter (b) Bird (c) Elephant (d) Rahul	C) Elephant
4	How many letters dose the word **COMPUTER** has ? (a) 6 (b) 7 (c) 8 (d) 10	C) 8
5	Which word has minimum letters ? (a) School (b) Speakers (c) Blanket (d) Elephant	a) School
6	How does we write 79 ? (a) Sixty Nine (b) forty Six (c) Eighty Two (d) Seventy Nine	D) Seventy Nine

7	Which number has the maximum letters? (a) Seventy Nine (b) Eighty Eight (c) Sixty Four (d) Seventy Seven	D) Seventy Seven
8	Choose the similar group – (a) Cake , Fan , Car (b) Milk , Water , Juice (c) Elephant , Speaker , Water (d) Clock , Bed , Apple	B) Milk, Water, Juice
9	Choose the word which has 10 letters ? (a) Seventy Four (b) Forty Seven (c) Eighty Seven (d) Sixty Six	B) Forty Seven
10	Rahul has 94 pencils. He bought 12 more pencils. How many pencils he has in total? (a) 100 (b) 106 (c) 103 (d) 110	B) 106
11	Priya had 74 Rs. and Raju had 29 Rs. .How many Rupees they both had together ? (a) 105 (b) 94 (c) 103 (d) 110	C) 103
12	How many letters are there in our Country's name ? (a) 6 (b) 4 (c) 5 (d) 7	C) 5
13	Kavya had 254 Rs. She bought a geometry box of 180 Rs. How much money she has now ? (a) 74 Rs. (b) 75 Rs. (c) 80 Rs. (d) 84 Rs.	a) 74
14	Asif has 765 Rs. and Taksham has 596 Rs. who has more money and how much ? (a) Asif , 179 (b) Taksham , 169 (c) Asif , 169 (d) Taksham , 189	C) Asif, 169
15	Niharika had 426 pens, she gave 94 to her sister, 29 to her brother and 89 to her best friend. How many pens she has now ? (a) 213 (b) 215 (c) 200 (d) 214	d) 214

HOMEWORK

No.	Question	Answer
1	Choose the wrong option. a) 29- IIIII IIIII IIIII IIIII IIII b) 31- IIIIIIIIIIIIIIIIIIIIIIIIIIIIIII C) 12 - IIIII IIIII II d) 6 - IIIII I	B) 31

2	If you have 16 Dogs and 9 dogs are missing. How will you show this using lines? a) ~~IIII IIII~~ IIIII I (b) ~~IIIIIIII~~IIIIIII C) ~~IIII IIII~~ IIIIII (d) IIIII II	a)
3	My number name has two words. The first word has 7 letters. The second word has 4 letters. I am very close to 80. Who am I ? a) Sixty Seven (b) Seventy Nine C) Thirty Two (d) Ninety Six	B) Seventy Nine
4	My friend and I are the numbers from 63 to 78. My number name is the smallest among all my friends. Who am I? a) Sixty Nine (b) Seventy One (c)Sixty Three (d) Sixty Six	d) Sixty Six
5	Which State has the maximum number of letters? a) Gujrat b) Maharashtra c) Kerala d) Himachal Pradesh	d) Himachal Pradesh
6	Find odd one out. a) Priya, Kavya, Manisha b)Fan, T. V, Cooler c) Apple, Banana, Strawberry d) Sparrow, Zebra, Lion	d) Sparrow, Zebra, Lion
7	Rikvitha has 12 barfies. Keshav gave her some more barfies and now she has 45 barfies. How many barfies Keshav gave to Rikvitha? a) 30 b) 35 C) 33 d) 31	C) 33
8	Aliya wants to buy a dress which costs 750 Rs. She has 575 Rs with her . How many rupees she will need to buy that dress? a) 200 b) 275 C) 180 d) 175	d) 175
9	There are two buses. The first bus has 49 seats and the second bus has 74 seats. How many people can be seated in both the buses? a) 132 b) 213 C) 123 d) 321	C) 123
10	Atif has 764 Rs. His mother gave him 929 Rs. more. How many rupees he has now? a) 1693 B) 1963 C) 1563 D) 1639	a) 1693

केन्द्रीय विद्यालय संगठन, जम्मू संभाग

KENDRIYA VIDYALAYA SANGATHAN, JAMMU REGION

LAT WORKSHEET
CLASS - III

SUBJECT - Mathematics
CHAPTER NO. - 02
CHAPTER NAME - Toy Joy

CLASSWORK

Q. No.	Question	Answer
1	Choose the wrong option. a) Cube - 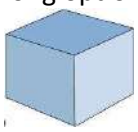 B) Cone - C) Cuboid - 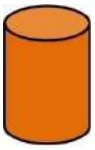 d) Sphere - 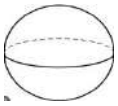	(C) Cuboid
2	Which shape has all it's faces equal? a) Cone b) Cube c) Sphere d) Cuboid	(B) Cube
3	How many cuboids are there?  a) 6 b) 2 c) 4 d) 5	(B) 2
4	Which shape has no edges? a) Sphere b) Cone c) Cube d) Cuboid	a) Sphere

5	Find the object which is conical in shape. a) Birthday Cap b) Water bottle c) Geometry Box 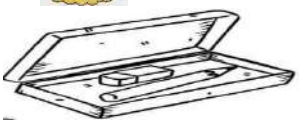 d) Football	a) Birthday Cap
6	How many faces a CUBE has - a) 4 b) 6 c) 8 d) 12	(B) 6
7	_____ has 12 edges. a) Cuboid b) Cone C) Cylinder d) Sphere	A) Cuboid
8	Which shape has curved faces? a) Cuboid b) Sphere c) Pyramid d) Cube	B) Sphere
9	Which shape is on the yellow cylinder? a) Cone b) Cuboid c) Sphere d) Cube	(B) Cuboid
10	The face opposite of number 1. 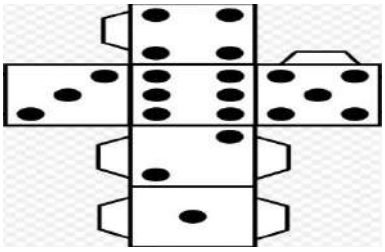 a) 2 b) 5 c) 4 d) 6	(D) 6

11	The shape which has both curved and straight faces? a) Cube b) Cylinder c) Cone d) Cylinder & Cone Both	D) Cylinder & Cone both
12	Choose the object whose shape is cube - 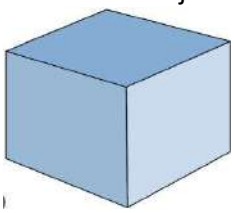 a) Ice cream b) Book c) Dice d) Globe	(C) dice
13	Which shape do you get if you join 2 Cubes ? 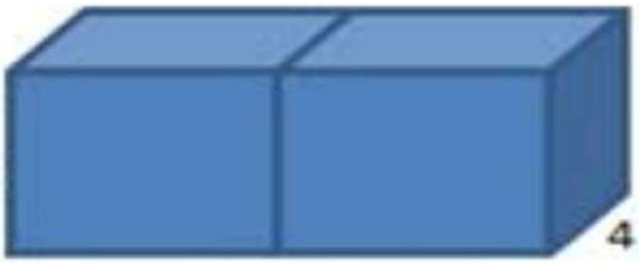 a) Cube b) Sphere c) Cylinder d) Cuboid	(D) Cuboid
14	The shape of you classroom is _____. a) Cuboid b) Cylinder c) Cone d) Cube	(A) Cuboid
15	A shape whose opposite faces are equal is _____. a) Cube b) Cuboid c) Cone d) Sphere	(B) Cuboid

HOMEWORK

Q. No.	Question	Answer
1	Which Shape is this? 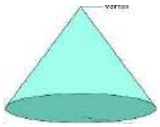 a) Cube b) Cylinder c) Cone d) Sphere	(C) Cone

2	Identify the correct Shape and it's properties. a) Cube 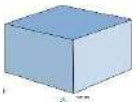 This Shape has equal faces b) Cuboid Opposite Sides of this shape is equal. c) Cylinder This shape has all straight faces. d) Sphere 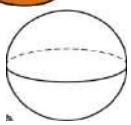 It has four Corners	(A) Cube - All equal faces
3	A shape has 6 Straight faces, 12 edges and 8 corners. Identify the shape - a) Sphere b) Cube c) Cone d) Cube & Cuboid Both	(D) Cube & Cuboid both
4	Choose the correct properties of the given shapes. 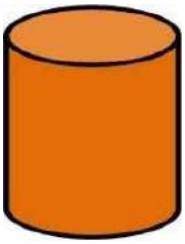 a) It's all faces are equal . b) It's Opposite faces are equal. c) It has both curved and straight faces d) It has 1 curved face .	(C) It has both Curved and straight faces.
5	If you want to make a 3D car toy. Which shape will you use? a) Cube b) Cylinder c) Cuboid d) Cube & Cuboid both	(D) Cube & Cuboid Both
6	Choose the object which is sphere in shape? a) Almirah b) Football c) Bottle d) Dice	(B) Football
7	Observe the given picture carefully and answer the question - 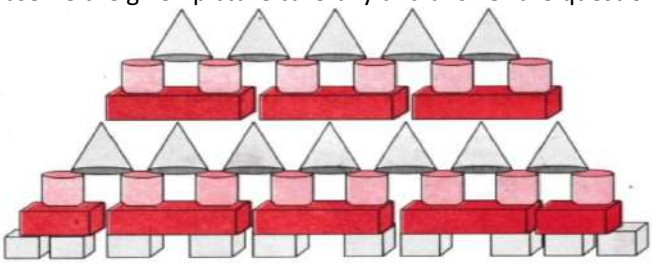 Which shape is Third from the bottom - a) Cylinder b) Cube c) Cuboid d) Cone	(A) Cylinder
8	A gas pipe is an example of - a) Sphere b) cube c) cylinder d) cuboid	(C) Cylinder

9	How many faces a cylinder have? a) 4 b) 2 c) 3 d) 6	(C) 3
10	Which is a 3D shape? a) 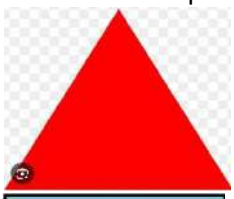 b)  c) d) 	(D) Cuboid

केन्द्रीय विद्यालय संगठन, जम्मू संभाग

KENDRIYA VIDYALAYA SANGATHAN, JAMMU REGION

LAT WORKSHEET
CLASS - III

SUBJECT - MATHEMATICS
CHAPTER NO. - 3
CHAPTER NAME - DOUBLE CENTURY

CLASSWORK

Q. No.	Question	Answer
1	I am a talking pot. Tell me any number and I will tell you next number I said 42, the pot said _____. a) 43 b)50 c)41 d)40	1) 43
2	I said_____ ,Pot said 90. a) 89. b)91. c)92. d)88	2)89
3	Fill in the blanks- 100,_____,102,_____104_____106. a) 101,103,105. b)90,89,45. c)109,110,111. d) 100,100,100	3) part a
4	Like 30 and 70 makes 100. Similarly , _____ and _____ makes 100. a)80 and20. b) 73and44. c)35and 77. d)65and45	4) 80 and 20

5	Virat kohli and Rohit Sharma played for India. Virat scored a century and India's total score was 3 centuries. What is the total score of India? a) 400. b) 300. c) 200 d) 100	5) 300
	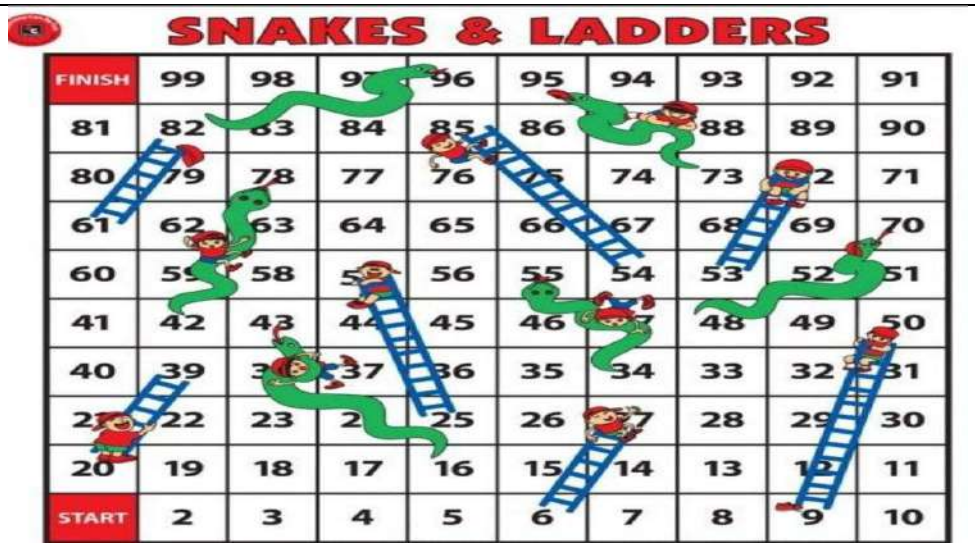	
6	Which number will you reach if you take the ladder from 25? a) 32 b)55 c) 57 d)75	6) 57
7	If you are standing on 56, which number on your dice will take you to the nearest ladder? a) 8. b) 7. c)6 d) 5	7) five
8	What is the face value of 7 in 276? a)200 b) 70. c)7 d)60	8) seven
9	Is the given ascending order true? 676<787<898<896. a)True b) false c) descending order d) none	9) false
10	189 = one _____ and eighty _____. a)hundred , six. b)hundred, nine. c) hundred,five. . d) none	10)part b

11	Write the place value of 7 in 732. a)ones 7 b)tens 70 c)hundreds 700 d)none	11) hundreds 700
12	Write the successor of 575. a)574 b) 576 c)577 d) 578	12) 576
13	Write the predecessor of 897. a)899 b)888 c)896 d)890	13) 896
14	Fill in the blanks -- 195= _____+_____+_____ (a) 1+9+5 (b) 100+90+5 (c) 10+9+5 (d) none	14) 100+90+5
15	How many ones are added to 96 to complete the century? a)5ones b)4 ones c)3ones d)2 ones	15) 4ones

HOMEWORK

Q. No.	Question	Answer
	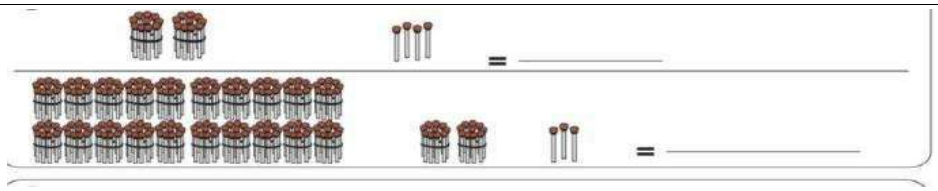	
1	Count and write the first blank- a)25 b)24. c)23. d)12	1) 24
2	Count and write the second blank- a) 224 b)225. c)223 d)222	2) 223

3	What do you mean by double century? a) 100. b)200. c)300 d)400	3) 200
4	Like 100 and 100 makes 200. Similarly , _____ and _____ make 200. a) 145 and 145 b) 145 and 55 c)140 and 50 d)150 and 40	4) part b
5	. One less than 170 and one more than 168 is _____. a) 169 b)199 c)156 d)167	5) 169
6	Two more than 150 and two less than 154 is _____. a) 152 b)154 c)155 d)167	6) 152
7	Number game . 1 clap =1 hundred 1snap= 1 tens. 1 pat= 1 ones Think and frame the number - two claps , 4snaps and 2 pats. The number is _____. a) 244. b)233 c)242 d)142	7) 242
8	Write the number name of this number- 208 a)one hundred eight b)two hundred eight c)two hundred nine. d)none	8) part b
	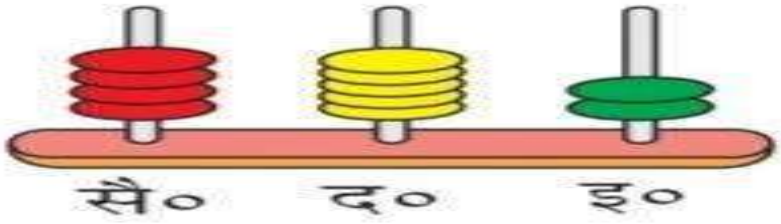	
9	What is the number in the above picture? a)444 b)442. c) 445. d)446	9) 442
10	Frame the number- one hundred fifty two. a) 105 b)152. c)156. d)159	10) 152

केन्द्रीय विद्यालय संगठन, जम्मू संभाग

KENDRIYA VIDYALAYA SANGATHAN, JAMMU REGION

LAT WORKSHEET
CLASS - III

SUBJECT - MATHEMATICS
CHAPTER NO. - 4
CHAPTER NAME - Vacation with my Nani Maa

CLASSWORK

Q. No.	Question	Answer
	<table><tr><th>Names</th><th>Total seeds</th><th>Seeds on the table</th><th>Hidden seeds</th></tr><tr><td>Rahul</td><td>_____</td><td>20</td><td>10</td></tr><tr><td>Anjali</td><td>40</td><td>_____</td><td>15</td></tr><tr><td>Tina</td><td>27</td><td>12</td><td>_____</td></tr><tr><td>Shreya</td><td>19</td><td>9</td><td>_____</td></tr></table>	
1	What is the number of hidden seeds Shreya has? a)10. b)9. c)20. d)1	1) ten
2	What are the total seeds Rahul had? a)20 b)30 c)40 d)50	2) 30
3	Nani's Gift Nani gave 1 box each to Nandini and Chirag. Nandini had 37balushahis in her box and Chirag had 15balushahis in her box. How many balushahi did Nandini have more than Chirag? a)25 b)22 c)21 d)20	3) 22
4	Nani gave books to Nandini and Chirag. Chirag got 40 puzzle books. Nandini got 19 story books. How many books did they have in total? a)59 b)52 c)50 d)20	4) 59
5	Estimation Estimate the answer and mark the correct one- 134-56 is _____. a)More than 100 b)Less than 100 c)Equal to 100 d)156	5)less than 100

6	Fill in the blanks- 95+10+5 is _____. a)More than 100 b)Less than 100 c)Equal to 100 d)124	6) more than 100
7	Fill in the blanks by jumping as instructed -- Forward jump by 6 28,34,_____,_____,_____. a) 40,46,52. b) 38,45,50. c)43,56,66. d) 41,53,33	7) 40,46,52
8	A frog jumps forward by 10each time. Write all the places where the frog will land- -- 24,34,____,_____,_____ a) 44,54,64,74. b) 38,45,50,56 c)43,56,66,76 d) 41,53,33,55	8) 44,54,64, 74
	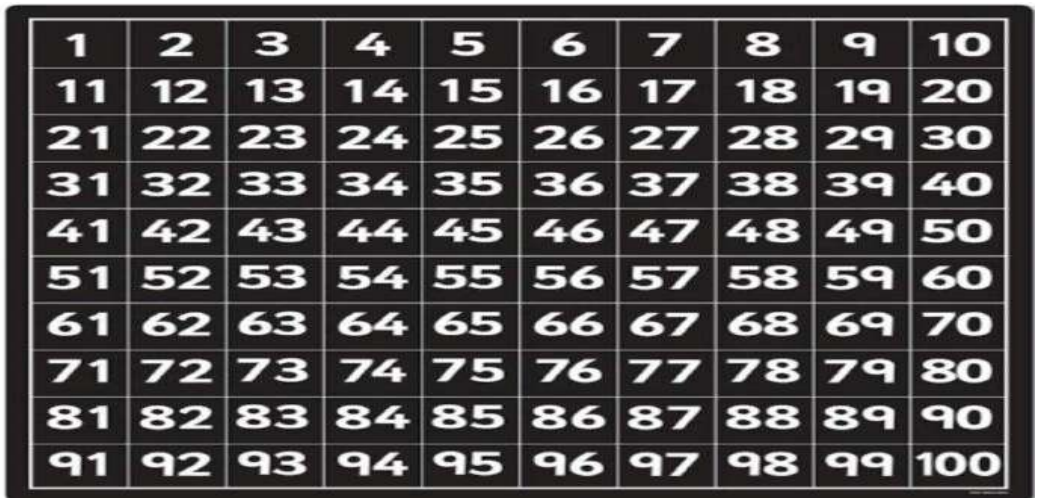 1 2 3 4 5 6 7 8 9 10 11 12 13 14 15 16 17 18 19 20 21 22 23 24 25 26 27 28 29 30 31 32 33 34 35 36 37 38 39 40 41 42 43 44 45 46 47 48 49 50 51 52 53 54 55 56 57 58 59 60 61 62 63 64 65 66 67 68 69 70 71 72 73 74 75 76 77 78 79 80 81 82 83 84 85 86 87 88 89 90 91 92 93 94 95 96 97 98 99 100	
9	Nandini is at 45. She wants to go to 67. A jump from 45 to 67 is _____steps. a)forward 22 b) backward 22 c) forward 17 d) backward 17	9) forward 22
10	Chirag is at 75. He goes to 56. A jump from 75 to 56 is _____steps. a)forward 19. b) backward 19 c) forward 29. d) backward 29	10) backwar d 19
11	Muskan sold 35 books on Monday and 54 books on Tuesday. How many books did she sell in the two days? a)98books b) 89books c) 87books d) 88books	11) 89books

12	In a school match, Team Red made 56runs before lunch and 66runs after lunch. How many runs were scored more after lunch than in the previous lunch session? a)19 b) 20 c) 10 d)29	12) 10
13	How much less is 90 than 47? a)34 b) 43 c) 48 d)29	13) 43
14	What should be added to 50 to get 72? a)12 b) 22 c) 16 d)29	14) 22
15	The sum of two numbers is 78.If one of the numbers is 34, Find the other number. a)44 b) 24 c) 14 d)29	15) 44

HOMEWORK

Q. No.	Question	Answer
1	Complete the following number pattern ---- 100,92,84,____,____,60. a)76,86 b) 76,68 c) 74,64 d)80,70	1) 76,68
2	Solve the equation ------ 47+ ____= 23+41 a)27 b) 17 c) 37 d)47	2) 17
3	Nandini has 67stamps. Chirag has 37stamps. Who had more stamps and by how much? a)Nandini, 10 b)Chirag, 19 c) Nandini, 30 d)Chirag, 39	3) Nandini 30
4	Nani Maa bought 52 apples. She used 37apples to make apple pie . How many apples are left with her? a)25 b) 15 c) 35 d) 45	4) 15
5	Solve the equation --- 32+45 = 45+_____ a)33 b) 32 c) 23 d)54	5) 32

<table>
<tr><td>6</td><td>State whether true or false.
"Adding zero to any number changes the number"
a) true b) false
c) becomes zero d) none of these</td><td>6) false</td></tr>
<tr><td>7</td><td>State whether true or false.
"Subtracting a number from itself always given zero"
a) true b) false
c) becomes zero d) none of these</td><td>7) true</td></tr>
<tr><td></td><td><table>
<tr><td>Names</td><td>Marks in subject Maths</td><td>Marks in subject English</td></tr>
<tr><td>Mini</td><td>15</td><td>17</td></tr>
<tr><td>Neha</td><td>19</td><td>18</td></tr>
<tr><td>Muskan</td><td>20</td><td>19</td></tr>
<tr><td>Tony</td><td>14</td><td>15</td></tr>
</table></td><td></td></tr>
<tr><td>8</td><td>Who scored the minimum marks altogether?
a) Mini b) Neha
c) Muskan d) Tony</td><td>8) Tony</td></tr>
<tr><td>9</td><td>Who scored less total marks between Mini and Neha. and by how much?
a) 5, Mini b) 5, Neha
c) 10, Mini d) 10,Neha</td><td>9) 5,mini</td></tr>
<tr><td>10</td><td>Arrange the following numbers in ascending order-
23, 45, 67, 89,21,22,54,76,81

(a) 21>22>23>45>54>67>76>81>89
(b) 21<22<23<45<54<67<76<81<89
(c) 21>22>23>65>54>67>76>91>89
(d) 21>29>26>45>54>67>76>81>89</td><td>10) Part b</td></tr>
</table>

केन्द्रीय विद्यालय संगठन, जम्मू संभाग

KENDRIYA VIDYALAYA SANGATHAN, JAMMU REGION

LAT WORKSHEET
CLASS – III

SUBJECT-MATHS
CHAPTER NO.-5
CHAPTER NAME- FUN WITH SHAPES

CLASSWORK

Q. N0.	Questions	Answer
1.	How many triangles are there in this picture ? a)One b)Five c)Three. d)Four 	(b) Five
2.	Which of the following is made using curved lines? (a) A square . (b) A triangle (c) A circle (d) A rectangle	(c) A circle
3.	What shape is used here to make rectangle? a) Rectangle b) Square c) Trapezoid d) heptagon 	(b) Square
4.	Which of the following objects has both straight and curved edges? a) Book b) Football c) Door d) Clock with a square frame	(d) Clock with a square frame
5.	A rectangle has _____ sides of equal length. a)3 b)5 c)4 d)2	c) 4
6.	The shape of a wheel is _____. a)Square b)Circle c)Trapezium d)Rectangle	(b) circle
7.	When you divide a rectangle into two equal parts with one straight line, what is the shape of each part? a) Trapezium b) Circle c) Square d) Smaller rectangles	d) Smaller rectangles

8.	A square has ___ corners. a)One b)Five c)Three d)Four	(d) Four
9.	What shape is formed using these triangles ? a)Circle b)Trapezium c)Rectangle d)Square	(d) Square
10.	I have three sides and three corners. What shape am I ? a) Square b) Circle c) Triangle d) Rectangle	(c) Triangle
11.	If it takes 4 matchsticks to make a square, how many matchsticks would you need to make 3 squares? a) 8 matchsticks b) 12 matchsticks c) 16 matchsticks d) 20 matchsticks	(b) 12 matchsticks
12.	Identify the shape-  a)Square b)Rectangle c)Circle d)Cone	(b) Rectangle
13.	How many corners are there in this picture ?  a)One b)Five c)Three d)Four	(b) Five

14.	What is the sum of the number of circles and triangles in the picture? 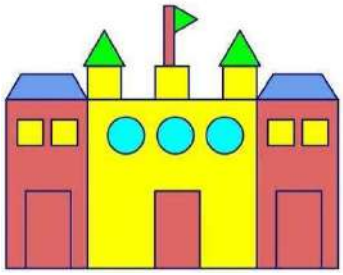 a) 6 b) 7 c) 8 d) 9	(a) 6
15.	Which shape has 3 sides and 3 corners? a)Triangle b)Square c)Rectangle d)Circle	(a)

HOMEWORK

Q. No.	Questions	Answer
1.	How many corners does a rectangle have? (a) 2 (b) 4 (c) 6 (d) 0	(b) 4
2.	Identify the object with 3 straight edges: (a) Circle (b) Triangle (c) Cube (d) Rectangle	(b) Triangle
3.	Which among the following is an example of vertical line? 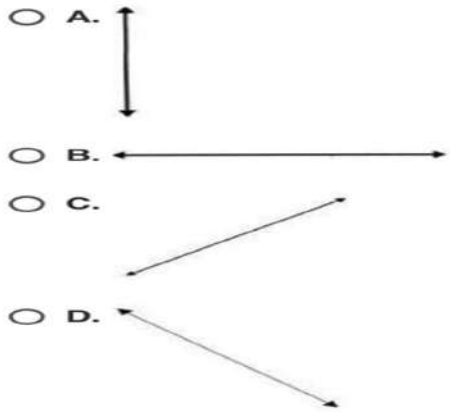 	(A)

—

4.	What is the name of a four-sided figure with opposite sides equal? (a)Rectangle (b) Circle (c) Triangle (d) Pentagon	(a) Rectangle
5.	How many circles are there in this picture ? 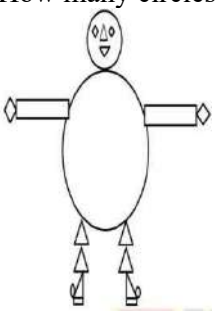 (a) One (b)Five (c) Three (d)Four	(d) Four
6.	Count the number of matchsticks used to make the given shape- 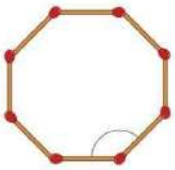 (a)7 (b)8 (c) 9 (d)3	(b) 8
7.	Identify the object that does not have any straight lines: (a) Kite (b) Egg (c) Dice (d) Table	b) Egg
8.	Which shape comes next in this pattern: square, circle, triangle, square, circle, ...? (a) Square (b) Circle (c) Triangle (d) Rectangle	(c) Triangle
9.	Which of the following objects has a curved surface? (a) Dice (b) Ball (c) Book (d) Table	b) Ball
10.	Which of these can form a pattern in a Rangoli design? a) Lines and circles b) Dots and triangles c) Flowers and stars d) All of the above	d) All of the above

केन्द्रीय विद्यालय संगठन, जम्मू संभाग

KENDRIYA VIDYALAYA SANGATHAN, JAMMU REGION

LAT WORKSHEET
CLASS - III

SUBJECT - Maths
CHAPTER NO. - 6
CHAPTER NAME - House of Hundreds - I

CLASSWORK

Q. No.	Question	Answer
1	Count the bundles of sticks and write the number.  a) 223 b) 323 c) 235 d) 103	c) 235
2	436 ll be marked between which two numbers on the given number line? a) 410 and 420 b) 450 and 460 c) 430 and 440 d) 490 and 500	c) 430 and 440
3	I have digits 4, 0 and 2. I am more than 300. I have 2 ones. Which number am I? a) 204 b) 240 c) 420 d) 402	d) 402
4	In the animal parade, there are 200 elephants, 60 zebras and 9 giraffes. What is the total number of animals in the parade? a) 626 b) 266 c) 962 d) 269	d) 269
5	I have three hundred seventeen. What will be 20 more than this? a) 337 b) 527 c) 317 d) 429	a) 337
6	If 175 is increased by _____ then the number is 345. a) 200 b) 150 c) 170 d) 230	c) 170

7	Raman has 248 candies. He wants to pack them into boxes, each holding 100 candies. How many full boxes will he have, and how many candies will be left unpacked? a) 3 full boxes and 58 candies left b) 2 full boxes and 50 candies left c) 2 full boxes and 48 candies left d) 4 full boxes and 0 candies left	c) 2 full boxes and 48 candies left
8	Which 3-digit number cannot be formed using digits 2, 8 and 0 without repeating any digit? a) 082 b) 802 c) 280 d) 208	a) 082
9	Count the blocks and put the correct symbol. 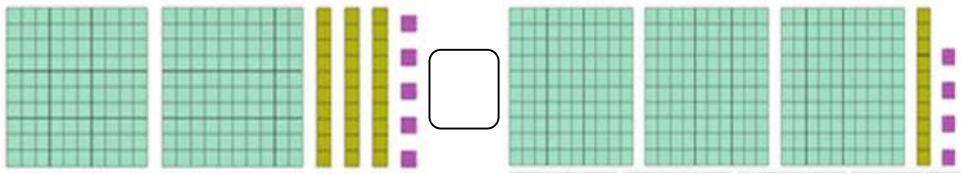 a) > b) < c) = d) None of these	b) <
10	Choose the correct order of numbers when arranged in descending order. 340, 434, 344, 430, 304 a) 430, 340, 304, 434, 344 b) 304, 344, 434, 430, 340 c) 434, 430, 344, 340, 304 d) 344, 304, 340, 430, 434	c) 434, 430, 344, 340, 304
11	Calculate the sum in the following questions and choose the correct option.)350 + 57 = _____)192 + _____ = 274 a) i) 407, ii) 80 b) i) 82, ii) 308 c) i) 407, ii) 82 d) i) 48, ii) 80	c) i) 407, ii) 82
12	What will be the 3rd number when arranged in ascending order? 297, 279, 270, 273 a) 279 b) 297 c) 270 d) 273	a) 279
13	Fill in the blank appropriately. 300 10 + 9 = _____ + 60 a) 309 b) 259 c) 167 d) 319	b) 259

14	Q14 and 15 are based on the following story. A monkey jumps on every 3rd step and a cat jumps on every 2nd step. Monkey starts jumping from step number 210 and cat starts jumping from step number 212. 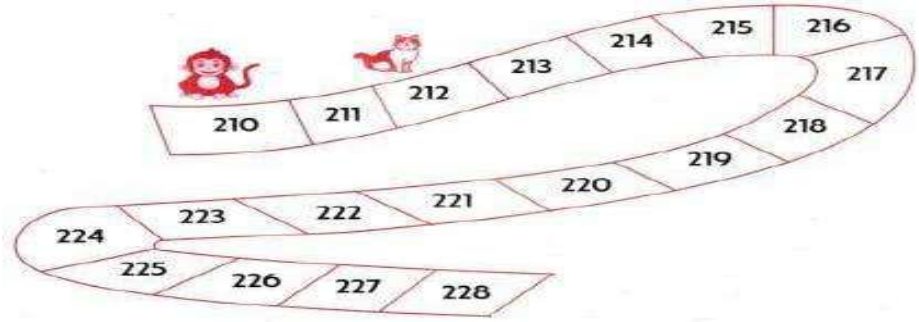 Cat's 5th jump will be on which number? a) 216 b) 228 c) 225 d) 222	d) 222
15	How many times should the monkey jump to reach step number 219? a) 2 times b) 3 times c) 4 times d) 6 times	b) 3 times

HOMEWORK

Q. No.	Question	Answer
1	Match the following numbers with their expanded form.)403 A) 300 + 40 + 4)344 B) 200 + 80 + 0)280 C) 400 + 0 + 3 a) i)-C, ii)-B, iii)-A b) i)-B, ii)-C, iii)-A c) i)-A, ii)-B, iii)-C d) i)-C, ii)-A, iii)-B	d) i)-C, ii)-A, iii)-B
2	I have three hundreds, zero tens and six ones. Who am I? a) 306 b) 360 c) 603 d) 236	a) 306
3	I have three hundreds and 3 tens. Which number is it? 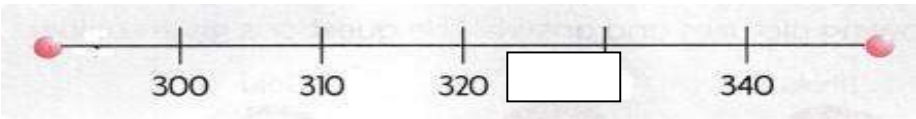 a) 333 b) 330 c) 313 d) 303	b) 330
4	What will be the 4th number when arranged in descending order? 342, 200, 298, 354, 167 a) 298 b) 342 c) 200 d) 167	c) 200

5	I am greater than 400 but less than 500. I have 0 tens. My ones and hundreds digits are the same. Which number am I? a) 404 b) 444 c) 440 d) 504	a) 404
6	Count the marbles and choose the correct option which represents the number of marbles. 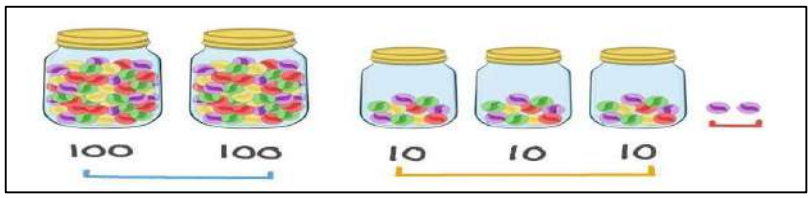 a) 320 b) 232 c) 322 d) 222	b) 232
7	Put the correct symbol by comparing the numbers. 3 hundreds and 6 ten ☐ 1 hundred, 20 tens and 4 ones a) > b) < c) = d) None of these	a) >
8	Nina has 378 flowers and Ramya has 120 flowers. How many flowers do they have together? a) 478 b) 498 c) 326 d) 589	b) 498
9	What will be the number, if we add 3 tens and subtract 9 ones from the given number? 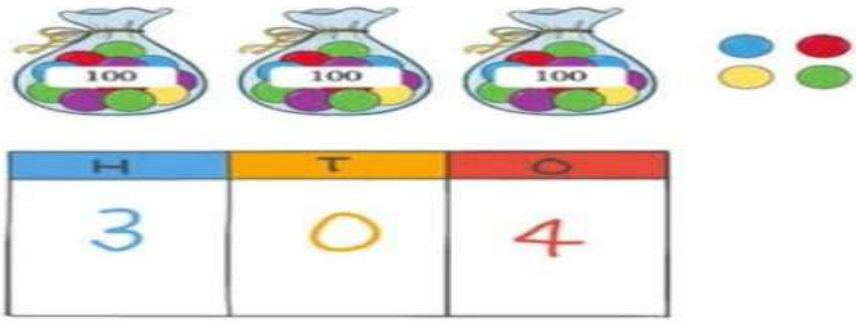 a) 304 b) 334 c) 343 d) 325	d) 325
10	How many letters are there in the number name of 267? a) 3 b) 10 c) 15 d) 20	c) 20

केन्द्रीय विद्यालय संगठन, जम्मू संभाग

KENDRIYA VIDYALAYA SANGATHAN, JAMMU REGION

LAT WORKSHEET
CLASS - III

SUBJECT - Maths
CHAPTER NO. - 7
CHAPTER NAME – Raksha bandhan

CLASSWORK

Q.No.	Questions	Answers
1.	Look at the picture and answer the following- There are 2 pizzas and each pizza have 6 slices. So how many slices are there in two pizzas? a) 15 b) 12 c) 18 d) 24	b) 12
2.	Gopal counted 6 boxes of laddoo, each with 4 laddoos . In total he has _____ laddoos. a) 24 b) 12 c) 18 d) 42	a) 24
3.	There are 100 beads. 10 necklaces are made using an equal number of beads . How many beads are used in each necklace ? a) 10 b) 11 c) 17 d) 16	a) 10
4.	If there are 1092 words in a book and 14 words are written in each line. How many total lines are there in a book? a) 87 b) 78 c) 28 d) 82	b)78

5.	Identify the correct statement for given number line- 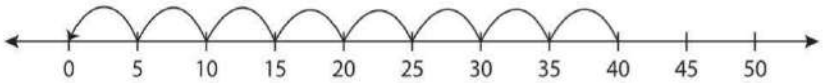 a)45÷5=9 b)50÷10=5 c)40÷10=4 d)40÷5=8	d) 40÷5=8
6.	Sarita is doing skip journey, after 20 she will jump on 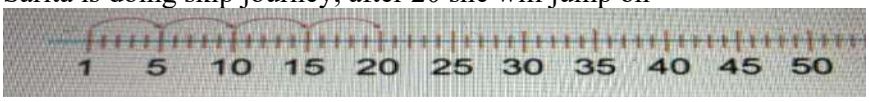 a) 30 b) 20 c)25 d) 35	c) 25
7.	A squirrel starts at 0 and jumps 10 units each time.What is the largest number the squirrel will reach before crossing 100? 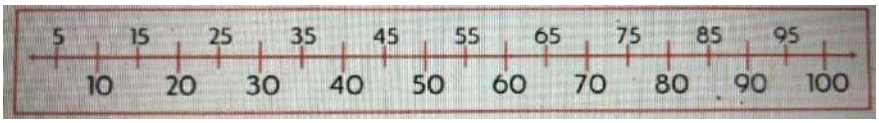 a) 90 b)95 c)98 d)99	a) 90
8.	One ice cream cup costs ₹ 20 . Priya buys 8 cups of ice cream. She has ₹100 notes. How many ₹ 100 notes would she give to the shopkeeper? How much money will the shopkeeper return to Priya? a)6,₹30 b)5,₹20 c)2,₹40 d)40,₹ 2	c)2,40
9.	Ramu has a 500 rupee note and wants to distribute it among children. For this he concerted it into lower denomination notes. How many notes will he get if he wants 100 rupees notes? a) 5 b)10 c) 8 d) 9	a)5
10.	Sneha has eight cards marked with numbers 5 to 12. At the bottom of each box, the multiplication of the numbers were written. For example if the cards in the second box are numbered 6 and 10, then 60 will appear at the bottom of the box. Find the numbers on cards in first box.  a)7and8 b) 9and6 c) 5and11 d) 4 and 5	c) 5 and 11

11.	Choose the correct option in place of the missing boxes in the given series: a) 45,55,65 b) 66,77,88 c) 22,44,88 d) 99,56,93	a) 45,55,65
12.	What is the pattern given in the box highlighted in the given calender? a) Difference of 10 b) Difference of 7 c) Difference of 9 d) Difference of 8	d) Difference of 8
13.	Select the missing number in this series. 115, 118, ? , 124 a) 119 b) 121 c)127 d)120	b)121
14.	Fill in the blanks by looking at the pictures- There are _____hands There are_____fingers in each hand. There are _____fingers in all. a)42,4,2 b)8,4,23 c)8,4,32 d)5,6,52	c)8,4,32
15.	Gaurav can see 84 legs of cows in the shed. How many cows are there in the shed? a)21 b)12 c)8 d) 20	a)21

HOMEWORK

Q. No.	Questions	Answers
1.	When skip counting by 2s starting at 0, the third number in the sequence is- a) 6 b) 2 c) 4 d) 0	a) 6
2.	A school bus can take 30 students. There are 3 such school buses going for a picnic. If each bus is full , how many students are going for the picnic? a) 50 b) 90 c) 80 d) 70	b) 90
3.	Hari wants to divide 28 Kajukatlis among 4 friends. How many Kajukatlis each friend will get? a) 6 b) 8 c)7 d) 9	c) 7
4.	Raghav wants to jump backwardly from 50. It continues to take jump of 6 .What is the number after which is not possible for the Raghav to make a jump of 6? a)2 b)1 c)3 d) 4	a)2
5.	A box costs ₹5, and each pencil costs ₹1. If a student buys 1 box and 10 pencils, how much does he spend altogether? a)10 b)15 c)20 d)25	b)15
6.	What is the rule of the pattern below? 2 ,5 ,11 ,23 a) Multiply the number by 2 and add 1 b) Add 3 c) Multiply by 2 d) Add 6	a) multiply by 2 and add 1

7.	Sally wrote the following pattern- 25 , 23, 21 , 19 , _____, 15 , _____, 11 What numbers are missing ? a)25,20 b) 17,13 c) 23,18 d) 13,17	b) 17, 13
8.	Check the pattern and fill the next- a) b) c) d) 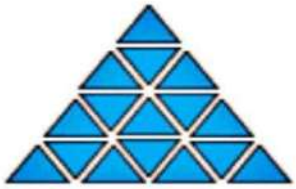	d)
9.	Complete the multiplication sentence that describes each number line model- 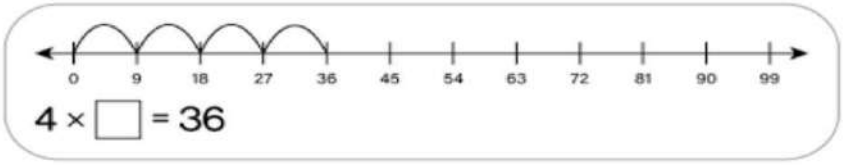 a) 12 b) 9 c) 8 d) 6	b) 9
10.	Indicate hops on number line and complete the multiplication sentences. 4 * 3 = _____ 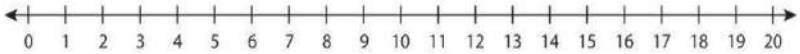 a) 12 b) 8 c) 16 d) 20	

		a) 12

LAT WORKSHEET
CLASS - III

SUBJECT - Maths
CHAPTER NO. - 8
CHAPTER NAME - Fair and share

CLASSWORK

Q. No.	Question	Answer
1	Dividing a pizza into 4 parts is called ___ a) sharing equally. b) Adding more pieces c) subtracting pieces d)None of these	a) sharing equally.
2	A rectangle is divided into 2 equal parts. Each part is called __  a) Half. b) Quarter c)whole. d) one fourth	a)Half.
3	If there are 6 apple and 3 children, how many apples will each child get if Shared equally? a) 3. b) 7 c) 2. d) 1	c) 2
4	Four friends share 12 cookies equally .what fraction of cookies does each friend get? a) 1/2 b)1/6 3) 1/4 d)1/12	b)1/4
5	One quarter means dividing something into _____equal parts. a) 1. b) 3 c) 6. d) 4	d) 4

6	To find one third of 9 we divide 9 by_____ 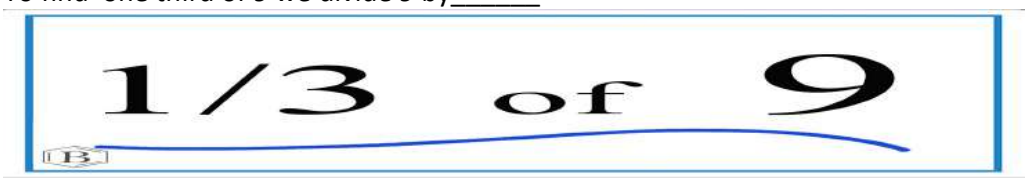 a) 2. b)4 c). 3. d)9	c) 3
7	If there are 12 slices of cake and 6 children each, child gets___ slice. a) 2. b)4 c) 3. d)6	a) 2
8	When we divide a circle into 4 equal parts each part is called_ a) one fourth. b) one third c) one quarter d) one half	a) one fourth.
9	Which picture shows 3/4 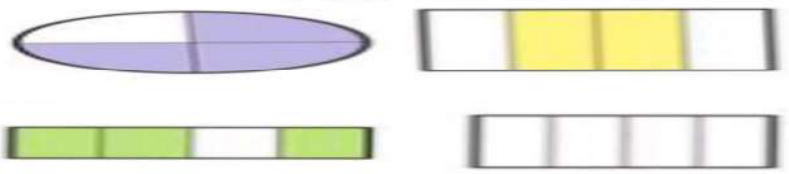 a) purple b) yellow c) green d) white	a) purple
10	What fraction of a pizza is left if 3 out of 8 slices are eaten? a)1/8. b)4/8 c)5/8. d)8/8	c)5/8
11	What is the product of 7 and 5? a)25. b)35 c) 30. d)49	b) 35
12	If a toy cost 15 rupees and you buy 4 toys ,how much money do you need a) 40 rupees. b)45 rupees c) 50 Rupees. d)60 rupees	d) 60 rupees

13	How many sides does a pentagon have? 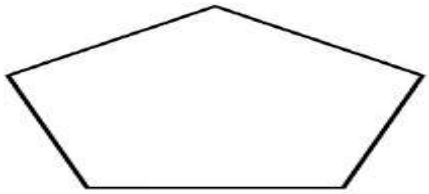 a) 4. b)5 c)6. d) 7	c) 5
14	A gardener has 24 flowers and wants to plant them equally in 6 pots how many flowers will be in each pot? a)3. b)4 c)5. d)6	b) 4
15	If a rectangular sheet is folded into 8 equal parts how would you label each part. 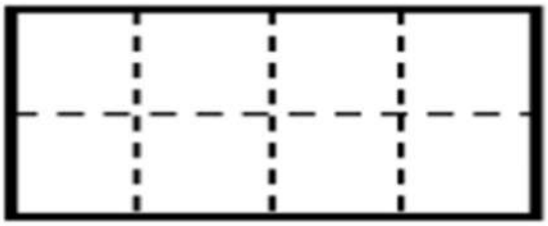 a) one fourth. b) one fifth c) one third. d) one eighth	d) one eighth

HOMEWORK

Q. No.	Question	Answer
1	Dividing a chocolate into 8 equals parts means each part is a) one eighth. b) one quarter c) one half. d) one fourth	a)one eighth.
2	One half and two quarter are_____ a) same. b) Unequal c) two half. d) one third	a) same
3	12 blocks divided into 6 pairs .How many blocks are in each pair? a)2 blocks b) 9 blocks c) 27 blocks d) 7 blocks	a)2blocks
4	_____÷5=3 a)10. b)15 c) 2. d) 3	b) 15
5	Shruti has 48 chocolate and she wants to divide them equally among her 8 friends. how many chocolates will each friend get? a) 7. b)12 c) 6. d)2	c) 6
6	A cake shop sells large cake cuts into 8 spices .if you order 1/4 of the cake ,How may slices will you get ? a)2 b) 4 c) 6 d) 8	a) 2
	What number combine to give you 24	

7	a) 12×2 b) 2×8 c) 6×7. d)5×9	b) 12×2
8	What is 20 times 2 a) 20 b)15 c) 10. d) 40	d)40
9	A pizza divided into 4 equal quarters.what fraction of the pizza is each quarters 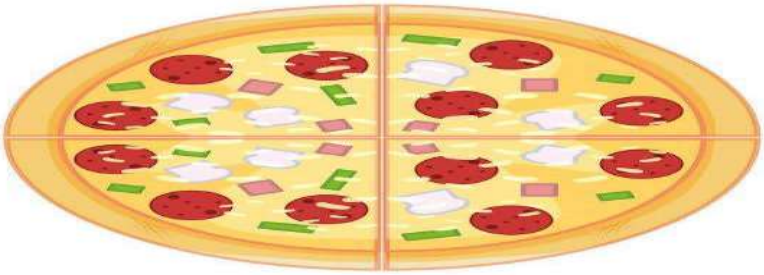 a)1/2 b)1/6 c)1/4 d)3/4	c)1/4
10	A group of 5 children is sharing a biscuits of 10 pieces. how many pieces will each child get? a)5. b) 3 c)2. d)7	c)2

केन्द्रीय विद्यालय संगठन, जम्मू संभाग

KENDRIYA VIDYALAYA SANGATHAN, JAMMU REGION

LAT WORKSHEET
CLASS – III

SUBJECT - MATHEMATICS
CHAPTER NO. - 9
CHAPTER NAME - HOUSE OF HUNDREDS - II

Q. No.	Question	Answer
1	Complete the ladder :- 300 | | 360 | 390 (a) 320 (b) 310 (c) 330 (d) 350	(c) 330
2	Tara has four balloons.Each balloon has a number. He pops the balloon with 8 in the tens place. Which balloon does he pop? (a) 736 (b) 628 (c) 472 (d) 581	(d) 581
3	A truck driver carries 526 rice sacks in his truck. How can this number be expanded? (a) 500+20+6 (b) 500+60+20 (c) 50+20+6 (d) 50+60+20	(a)500+ 20+6

4	In the number 362, how many tens are there ? (a)4 (b)2 (c)60 (d)6	(d) 6
5	I am a number with 2 hundreds, 3 tens, and 5 ones. What am I? (a)235 (b)253 (c)352 (d)322	(a)235
6	The numbers on three houses are 120, 100, and 200. What is their total? (a) 132 (b) 122 (c) 133 (d) 420	(d) 420
7	Fill the blanks to make the number 750. Question: ___ + ___ + ___ = 750 (a) 700+5+0 (b) 70+5+0 (c) 700+50+0 (d) 700+40+10	(c) 700+ 50+0
8	I am a 3-digit number. My hundreds digit is 5, my tens digit is twice the ones digit, and my ones digit is 3. What am I? (a) 563 (b) 573 (c) 523 (d) 583	(a) 563
9	Complete the number pattern: Question: 720 → 730 → ___ → 750 → ___ (a) 735,760 (b) 740,760	(b)740, 760

<table>
<tr><td></td><td>(c) 735,745 (d) 740,745</td><td></td></tr>
<tr><td>10</td><td>Strike out the numbers from the Tambola grid based on the clues given :-

Clues:
1. A number with 2 in the tens place.
2. A number greater than 740 but less than 750.
3. Numbers ending in 5.

<table><tr><td>720</td><td>735</td><td>740</td><td>745</td></tr><tr><td>710</td><td>725</td><td>715</td><td>730</td></tr></table>
Which numbers remain ? Choose from the given options:-

(a) 735,710,740 (b) 720,725,715
(c) 740,730,710 (d) 720,745,730</td><td>(c)740, 730, 710</td></tr>
<tr><td>11</td><td>Match the number with its correct expanded form:-
1. 482 a. 300 + 0 + 1
2. 759 b. 400 + 80 + 2
3. 301 c. 700+50+9
4. 640 d. 600+40+0

(a) 1-b,2-c,3-a,4-d (b) 1-a,2-b,3-d,4-c
(c) 1-d,2-a,3-b,4-c (d) 1-a,2-d,3-b,4-c</td><td>(a)1-b,2-c,3-a,4-d</td></tr>
<tr><td>12</td><td>A crane starts at 715 on the number line and hops forward by 5 steps each time. Where will it be after 4 hops?
(a) 720 (b) 735
(c) 740 (d) 750</td><td>(b)735</td></tr>
<tr><td>13</td><td>Fill in the blank by choosing the correct number -
200 + ___ + 6 = 246

(a) 40 (b) 20
(c) 30 (d) 50</td><td>(a)40</td></tr>
<tr><td>14</td><td>Solve - _____-100 = 482

(a)582 (b) 492
(c) 472 (d) 500</td><td>(a)582</td></tr>
<tr><td>15</td><td>A frog is hopping from 650. It hops 20 steps at a time. Where will it land after 3 hops?

(a) 700 (b) 710</td><td>(b)710</td></tr>
</table>

	(c) 730 (d) 720	

HOMEWORK

Q. No.	Question	Answer
1	I am a number. I have 3 hundreds, 5 tens, and 7 ones. Who am I? (a) 375 (b) 357 (c) 735 (d) 573	(b)357
2	A sky has 3 groups of stars. The first group has 400 stars, the second group has 50 stars, and the third group has 6 stars. How many stars are there in total? (a) 406 (b) 465 (c) 456 (d) 446 	(c) 456
3	A number line of stars is shown below. Fill in the missing number: 600 ★ 610 ★ ___ ★ 630 ★ 640 (a) 615 (b) 635 (c) 620 (d) 600	(c)620
4	A box contains 3 bundles of pencils. Each bundle has 100 pencils, and there are 25 extra pencils in the box. How many pencils are in total? (a) 300 (b) 225 (c) 325 (d) 125	(c)325
5	A house has 2 hundreds, 5 tens, and 3 ones. If you add 1 hundred to the number, what will the new house number be? (a) 350 (b) 225 (c) 425 (d) 353	(d)353

—

<table>
<tr><td>6</td><td>Fill in the blank numbers following the pattern of skip counting-

<table><tr><td>500</td><td></td><td>520</td><td>530</td></tr><tr><td>540</td><td>550</td><td></td><td>570</td></tr></table>
(a) 510,560 (b) 530,540
(c) 560,540 (d) 510,550</td><td>(a)510, 560</td></tr>
<tr><td>7</td><td>Which of the following shows the expanded form of the number 345?

(a) 300 + 40 + 5. (b) 30 + 40 + 5
(c) 300 + 5 + 40. (d) 3 + 45 + 0</td><td>(a)300+ 40+5</td></tr>
<tr><td>8</td><td>Complete the number pattern:

600 → ___ → ___ → 630 → ___ → 650

(a)610,660,600 (b) 610,620,640
(c)620,660,670 (d) 600,680,690</td><td>(b)610, 620, 640</td></tr>
<tr><td>9</td><td>If you reverse the digits of the number 584, what number will you get?

(a) 50 (b) 845
(c) 485 (d) 4</td><td>(c)485</td></tr>
<tr><td>10</td><td>Match the number with its correct expanded form:
1. 325 a. 600+0+7
2. 450 b. 800+90+2
3. 607 c. 300+20+5
4. 892 d. 400+50+0

(a) 1-c,2-d,3-a,4-b (b) 1-d,2-a,3-b,4-c
(c) 1-b,2-a,3-c,4-d (d) 1-c,2-a,3-b,4-d</td><td>(a)1-c, 2-d, 3-a, 4-b</td></tr>
</table>

केन्द्रीय विद्यालय संगठन, जम्मू संभाग

KENDRIYA VIDYALAYA SANGATHAN, JAMMU REGION

LAT WORKSHEET
CLASS - III

SUBJECT - MATHEMATICS
CHAPTER NO. - 10
CHAPTER NAME - FUN AT CLASS PARTY

CLASSWORK

Q. No.	Question	Answer
1	. Helly measured the height of a door using a pencil. If the door is as tall as 8 pencils, and each pencil is 20 cm long, what is the height of the door? a) 100 cm b) 160 cm c) 200 cm d) 240 cm	(b)160 cm
2	A student measured the classroom wall using footsteps. If it takes 15 footsteps to cover the wall, and each footstep is 25 cm long, what is the length of the wall? a) 300 cm b) 375 cm c) 400 cm d) 425 cm 	(b)375 cm
3	.The strings. String A is 70 cm, String B is 1 metre, and String C is 90 cm. Which string is the longest? a) String A b) String B c) String C d) All are the same	(b)String B
4	What is the length of a metre rope in centimetres? a) 50 cm b) 200 cm c) 150 cm d) 100 cm	(d)100 cm

5	The height of the door is equal to 8 pencils. If each pencil is 15 cm long, what is the height of the door? a)100cm b)120cm c)150cm d) 80 cm	(B)120CM
6	Which of these objects is longer than one metre? a) A pencil b) A water bottle c) A door d) A notebook	c) A door
7	Adi measured a wall using a paper strip. If the strip is 25 cm long and the wall is 8 strips long, what is the total length of the wall? a) 150 cm b) 175 cm c) 200 cm d) 225 cm	c) 200 cm
8	Which tool is the best to measure the exact length of a metre rope? a) A hand span b) A metre rod c) A footstep d) A paper strip	b) A metre rod
9	A student used her hand spans to measure a blackboard. If the blackboard is 10 hand spans, what will happen if a teacher with bigger hands measures it? a) It will be more hand spans b) It will be fewer hand spans c) It will stay the same d) None of these	b) It will be fewer hand spans
10	Ravi measured the length of the playground using footsteps. If each footstep is 50 cm and he takes 40 steps, what is the length of the playground? a) 20 metres b) 25 metres c) 30 metres d) 35 metres	a) 20 metres
11	Children measured the length of a ribbon using pencils. If the ribbon is as long as 5 pencils, and each pencil is 30 cm, how long is the ribbon? a) 120 cm b) 150 cm c) 180 cm d) 200 cm	b) 150 cm
12	Which of these is the shortest distance? a) 1 metre b) 50 cm c) 100 cm d) 1.5 metres	b) 50 cm
13	Who is the tallest among these? a) A child with 10 pencils' height b) A child with 8 pencils' height c) A child with 12 pencils' height d) A child with 9 pencils' height	c) A child with 12 pencils' height
14	Which of these tools is NOT used to measure length? a) Scale b) Rope c) Cup d) Hand span	c) Cup

15	To measure the height of a teacher, which method is the most accurate? a) Hand spans b) A metre rod c) Pencils d) Footsteps	b) A metre rod

HOMEWORK

Q. No.	Question	Answer
1	Adi used footsteps to measure the distance between two walls. If his footsteps are 30 cm each, and he took 10 steps, what is the distance? a) 2.5 metres b) 3 metres c) 3.5 metres d) 4 metres	(B) 3 METERS
2	Match the tools with their purpose: 1. Metre rod a. Measuring exact length 2. Hand span b. Flexible measurements 3. Footsteps c. Measuring longer distances 4. String d. Estimating short distances	1-a 2-d 3-c 4-b
3	Match the lengths with the correct measurement unit: 1. 100 cm a. Half metre 2. 50 cm b. 1 metre 3. 1 km c. 2000 metres 4. 2 km d. 1000 metres	1-b 2-a 3-d 4-c
4	When measuring the length of a moustache on a drawing, which method works best? a) Use a pencil to compare b) Use a rope c) Guess the length d) Measure by hand span	a) Use a pencil to compare
5	A group of children are measuring a stage for a play. They use strings of 1 metre each. If the stage is 5 strings long and 3 strings wide, what is the total length of strings used? a) 8 metres b) 10 metres c) 15 metres d) 12 metres	c) 15 metres
6	Meena wants to measure the distance from her desk to the blackboard. Which is the most accurate method? a) Use her hand span b) Use a metre rod c) Use her footsteps d) Use a string	b) Use a metre rod
7	If a thread is 50 cm and a ribbon is 1 metre, which is longer, and by how much? a) Ribbon by 25 cm b) Thread by 25 cm c) Ribbon by 50 cm d) Thread by 50 cm	c) Ribbon by 50 cm
8	Which is the best way to find out who is the tallest in the class? a) Use a scale to measure everyone's height b) Compare by looking c) Use hand spans to measure height d) Measure using strings	a) Use a scale to measure everyone's height

9	Children are drawing moustaches on a picture. If the moustache on the left is 5 cm long, how long should the right side be to make it equal? a) 4 cm b) 5 cm c) 6 cm d) 7 cm	b) 5 cm
10	**True or False:** 1.One metre is equal to 1000 centimetres. 2. Comparing two strings by eye is the most accurate method. 3. Objects longer than 1 metre include doors, blackboards, and desks. 4.A metre rod can be used to measure both short and long lengths accurately.	1-F 2-F 3-T 4-T

LAT WORKSHEET
CLASS - III

SUBJECT - MATHS
CHAPTER NO. - 11
CHAPTER NAME - Filling and Lifting

CLASSWORK

Q. No.	Question	Answer
1	A gardener uses a can that holds 1 litre of water to water each plant. If he has 8 plants p how many litres of water will he need? (a) 5 (b) 3 (c) 7 (d) 8	(d) 8
2	You have a mug that can hold 250 millilitres of water and a jug that holds 2 litres of water. How many mugs of water are needed to fill the jug? (a) 6 (b) 5 (c) 8 (d) 7	(c) 8
3	Riya needs 1.5 litres of milk for her recipe. She has a 500ml measuring glass. How many times will she need to fill the glass to get the require amount? (a) 1 (b) 3 (c) 2 (d) 4	(b) 3
4	If you have these containers: ● Jug A: 1 litre ● Jug B: 1.5 litres ● Jug C: 2 litres You need exactly 3.5 litres of water. Which jugs will you use to measure this quantity? (a) A&B (b) B&C (c) A&C (d) None of these	(b)B&C

5	A doctor tells a patient to drink 200ml of water with each medicine dose, three times a day. How much water will the patient drink in total each day for the medicine? (a) 400ml (b) 500ml (c) 600ml (d) None of these	(c) 600ml
6	There is a small town in Haryana. There are some potholes in the road. Before the rain comes, children want to fill the holes with pebbles. They bring pebbles in mugs of the same size. Hole A gets filled with 10 mugs of pebbles. Hole B gets filled with 17 mugs of pebbles. Hole c gets filled with 15 mugs of pebbles. Which is the biggest pothole? (a) A (b) B (c) C (d) All of these	(b) B
7	Which of these containers can hold more ?  **A** **B** **C** (a) A (b) B (c) C (d) All of these	(a) A
8	Observe the picture. How many bowls will be required to fill the bucket? (a) 11 (b) 12 (c) 13 (d) 14	(b)12
9	Ramu is holding 3 lunchboxes in the left hand and a pencil box in the right hand.Which hand needs more effort to hold the object? (a)Left hand (b) Right Hand (c) Both hands need equal effort (d) None of these	(a)1
10	How much water does a bucket hold at your house. (a) less than 1 litre. (b) equal to 1 litre (c) more than 1 litre (d) None of these	(c)more than 1 litre
11	Pranav's parents have a different way of celebrating Independence Day because Pranav was born that day. They buy sweets double of Pranav's weight and distribute them among poor people. When Pranav born, he was 3kg.Guess the sweets distributed by his	(b) 6kg

	parents. (a) 4 kg (b) 6 kg (c) 5 kg (d) 7 kg	
12	You are at the market. Which of the following is the heaviest? (a) A bottle of water (b) A packet of kurkure (c) A Sack of onions (d) A packet of bread	(c) A sack of onions
13	On a see-saw, Which side will go down? (a) The side with a child carrying a water bottle (b) The side with a child carrying a heavy school bag (c) The side with a child carrying a pencil (d) Both sides will stay balanced	(b)
14	Your teacher asks you to pick one object that is heavier than your lunch box.What will you choose? (a) An eraser (b) A pencil (c) A school bag. (d) A sharpener	(c)
15	You have two fruits: an orange and a watermelon .Both are placed in water. The orange floats, but the watermelon sinks. Which of these could be the reason? (a) The orange is heavier than the watermelon. (b) The orange is lighter than the watermelon. (c) The watermelon is lighter than the orange. (d) None of these.	(b)

HOMEWORK

No.	Question	Answer
1	Guess the Weight of each packet on the right side of the balance. (a) ¼ kg (b) ½ kg (c) 1/3 kg (d) 1 kg	(b) ½ kg
2	A bottle can hold 2 litres of water. A jug can hold 5 litres of water. If you pour two full bottles of water into the jug,how much more water can the jug hold? (a) 1 litre (b) 3 litres (c) 2 litres (d) 4 litres	(a)1 litre
3	A cup can hold 250ml of juice. How many guests can be served from a 1-litre juice bottle? (a) 4 (b) 1 (c) 5 (d) 7	(a) 4

4	Which of the following containers will hold the most water? (a) A mug of 500 ml (b) A bottle of 1 litre (c) A jug of 2 litres (d) A glass of 250 ml	(c)
5	Which weight should be kept on the right arm to make it balanced? (a) 4 kg (b) 1 kg (c) 5 kg (d) 7 kg 	(c) 5 kg
6	Which of the following weights can be kept with 12 kg to balance the beam? (a) 4 (b) 3 (c) 5 (d) 7  	(b) 3
7	Which object among the given will have the lightest weight? (a) A refrigerator (b) A mango tree (c) A school bag (d) A geometry box	(d) a geometry box
8	What could be the weight of an elephant? (a) 1000 g (b) more than 100 kg (c) 4000 g (d) 10 kg	(b) more than 100 kg
9	Which of the following beams is balanced?	(d)

	(a) (b) (c) (d) 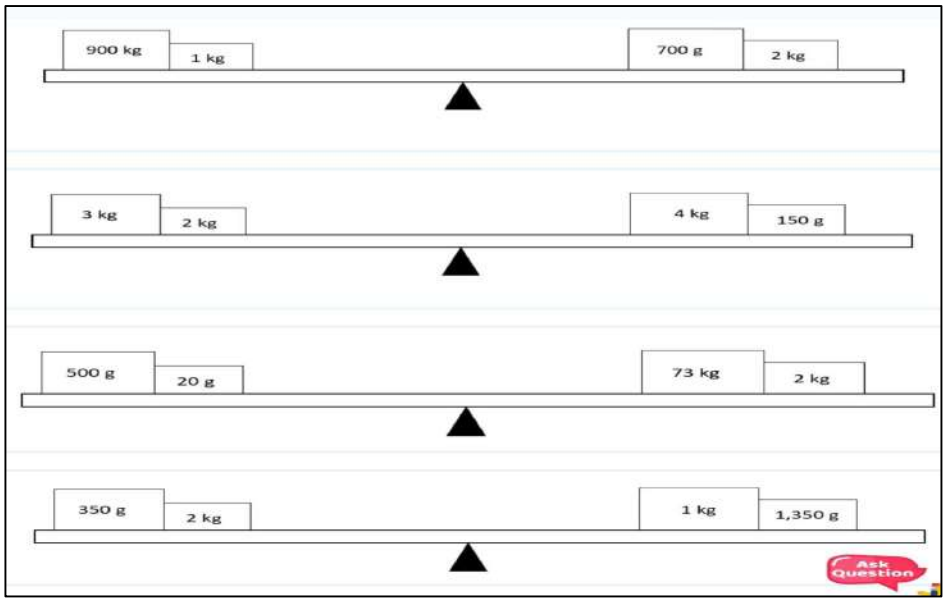	
10	A watermelon weighs 3 kg, and a ,ango weighs 500 g. What is the total weight of the watermelon and mango together? (a) 3 kg 500 g (b) 4 kg (c)4 kg 500 g (d)3 kg	(a)

LAT WORKSHEET
CLASS - III

SUBJECT - Maths
CHAPTER NO. - 12
CHAPTER NAME - GIVE AND TAKE

CLASSWORK

Q. No.	Question	Answer
1	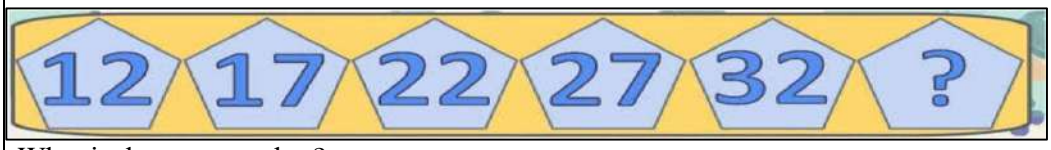 What is the next number? (a) 54 (b) 39 (c) 38 (d) 28	Ans- 37

2	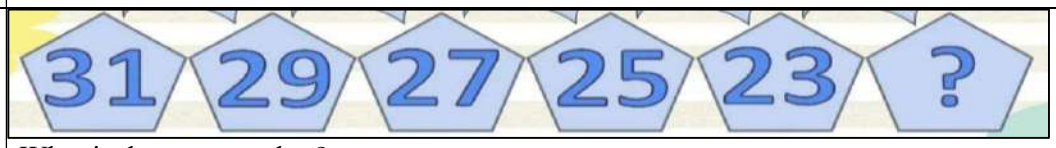 What is the next number? (a) 22 (b) 23 (c) 24 (d) 25	Ans-21
3	How much is the total money? (a) 620 (b) 640 (c) 670 (d) 680	Ans- 680
4	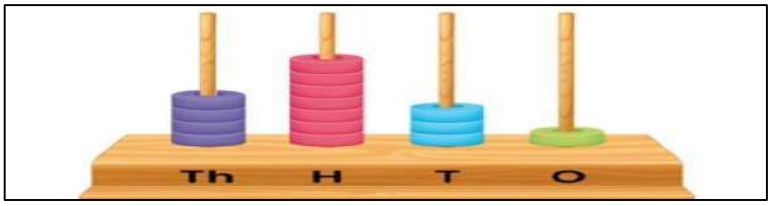 Which number is it? (a) 3471 (b) 4731 (c) 4211 (d) 3983	Ans- 4731
5	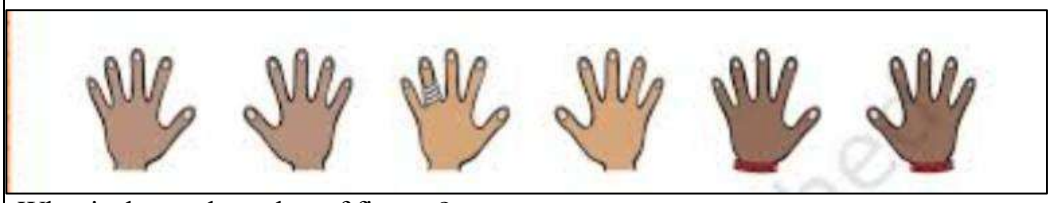 What is the total number of fingers? (a) 10 (b) 15	Ans- 30

	(c) 20 (d) 30	
6	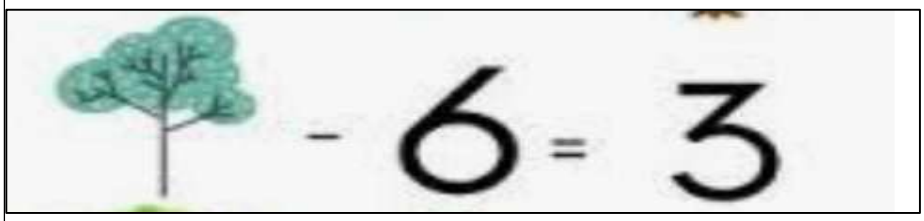 What is the value of the tree? (a) 8 (b) 9 (c) 10 (d) 11	Ans-9
7	What is the total value of drinks? (a) 240 (b) 246 (c) 248 (d) 258	Ans- 246
8	Choose the wrong option- (a) 15-10=5 (b) 12-7=5 (c) 7-2=5 (d) 8-5=5	Ans-8-5=5
9	Addition- 564+332=? (a) 896 (b) 812 (c) 850 (d) 870	Ans-896
10	Subtraction- 832-634=? (a) 190 (b) 192 (c) 198 (d) 212	Ans- 198
11	Find the place value of 5 in 6598 (a) 5 (b) 50 (c) 500 (d) 5000	Ans- 500

12	Find the value- 2 Hundred + 3 Tens + 6 Ones = (a) 233 (b) 234 (c) 236 (d) 238	Ans- 236
13	A bakery has 120 cakes. If 40 cakes are sold in the morning and 30 cakes are in the afternoon. How many cakes are left? (a) 45 (b) 50 (b) 56 (d) 60	Ans- 50
14	Ram has 266 pencils and he gave 138 pencils to his friend. How many pencils are left with him? (a)130 (b)128 (c) 132 (d) 134	Ans- 128
15	Aabha had 614 toffees, she gave 268 toffees to her brother, 124 to her father and 78 to her friend. How many toffees does she have now? (a)144 (b) 142 (c) 152 (d) 132	Ans- 144

HOMEWORK

No.	Question	Answer
1	Choose the wrong option – (a) 7+4=11 (b) 7-4=11 (c) 4+7=11 (d) 2+9=11	Ans- (b) 7-4=11
2	How many Rs 10 notes are equal to a Rs 100 . note- (a) 8 (b) 12 (c) 10 (d) 14	Ans(c)10
3	Find the place value of 7 in the number 5678 (a) 7 (b) 70 (c) 700 (d) 7000	Ans- 70
4	Find the largest number – (a) 713 (b) 820 (c) 850 (d) 550	Ans- 850

5	Find the smallest number- (a) 119 (b) 942 (b) 105 (d) 340	Ans- 105
6	3 Hundred + 6 Tens + 2 Ones =? (a) 464 (b) 246 (c) 642 (d) 462	Ans- 462
7	Neha wants to buy a school bag which costs 550 Rs. She has only 380 Rs. How many rupees does she need to buy that bag? (a) 180 (b) 190 (c) 200 (d) 170	Ans- 170
8	Jesica has 566 Rs. and Shreya has 430 Rs. Then how much money do they both have? (a) 996 (b) 900 (c) 992 (d) 932	Ans- 996
9	What will be the sum of the place value of 5 and 8 in the number 4568 (a) 490 (b) 472 (c) 540 (d) 508	Ans-508
10	Ariba bought a fan which cost 250 rupees and a heater which cost 160 rupees and a cooler with 400. Now how much money did Ariba spend? (a) 810 (b) 850 (c) 870 (d) 860	Ans- 810

LAT WORKSHEET
CLASS - III

SUBJECT - Maths
CHAPTER NO. - 13
CHAPTER NAME - SMART CHARTS

CLASSWORK

Q. No.	Question	Answer

1	Q 1 Look at the shapes given below 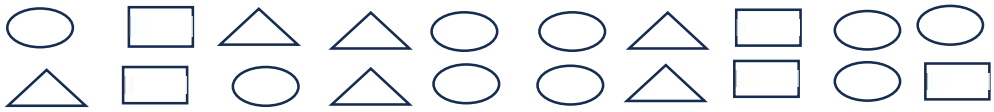 Count the number of circles and tick the correct option (a) 9 (b) 8 (c) 7 (d)10	(a) 9
2	Look at the food given below What are the total number of Pizza and Burger ? (a)10 (b)16 (c)9 (d)17	(d) 17
3	Look at the boys and girl's picture  From boys and girls which are more and by how much? (a)boys, 4 (b)girls, 4 (c)both are equal (d)none of the above	(a) boys,4
4	Look at the picture  From birds and mouse which are less? (a)mouse (b) birds	(b) Birds

<table>
<tr><td></td><td>(c)both are equal (d)none of the above</td><td></td></tr>
<tr><td>5</td><td>The following table shows the number of biscuits sold from a shop in four days
<table>
<tr><th>Days</th><th>Number of Biscuits</th></tr>
<tr><td>Day 1</td><td>85</td></tr>
<tr><td>Day 2</td><td>73</td></tr>
<tr><td>Day 3</td><td>42</td></tr>
<tr><td>Day 4</td><td>35</td></tr>
</table>
On which day maximum number of biscuits are sold and how many biscuits
(a) Day 1,85 (b) Day 2,77
(c) Day 3,43 (d) Day 4,44</td><td>(a)Day1, 85</td></tr>
<tr><td>6</td><td>If one shows two balloons then how many such are to be drawn for ten balloons?
(a)2 (b) 5
(c)3 (d) 4</td><td>(b)5</td></tr>
<tr><td>7</td><td>The pictograph shows the number of children whose favorite subject is as follow
<table>
<tr><th>Subject</th><th>Number of Children</th></tr>
<tr><td>English</td><td> </td></tr>
<tr><td>Hindi</td><td> </td></tr>
<tr><td>Math</td><td> </td></tr>
<tr><td>EVS</td><td> </td></tr>
</table>
Which is the most popular subject?
(a)English (b) Hindi
(c)Math (d) EVS</td><td>(c)Math</td></tr>
<tr><td>8</td><td> 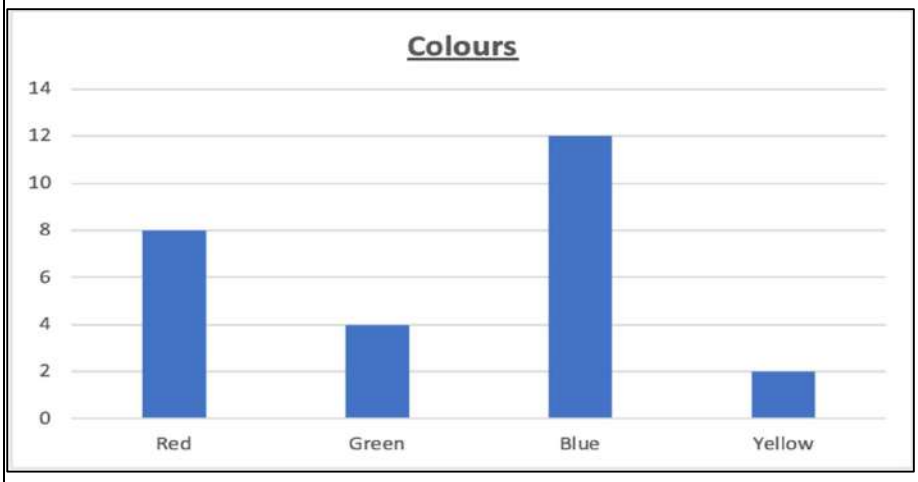

The following bar graph shows the number of students who like different colours
How many students like blue colour?</td><td>(c)12</td></tr>
</table>

<table>
<tr><td></td><td>(a) 2 (b) 4
(c) 12 (d) 8</td><td></td></tr>
<tr><td>9</td><td>This is chart to show absent students. Each absent student shown by
<table>
<tr><th>Class</th><th>Number of absent students</th></tr>
<tr><td>I</td><td> </td></tr>
<tr><td>II</td><td> </td></tr>
<tr><td>III</td><td> </td></tr>
<tr><td>IV</td><td> </td></tr>
</table>
Which class has least number of absent students?
(a) I (b) II
(c) III (d) IV</td><td>(a)I</td></tr>
<tr><td>10</td><td>Length of pencil of Riya, Rishab and Rahul is given below</td><td>(b)Less</td></tr>
</table>

	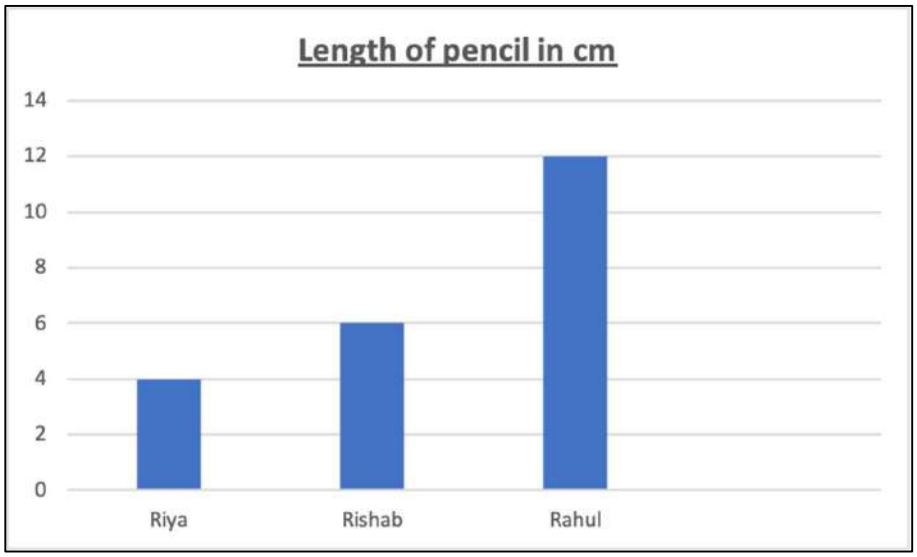 The length of Rishab's pencil is _____ than Rahul's (a) More (b) Less (c) Equal (d) None of the above	
11	See the graph 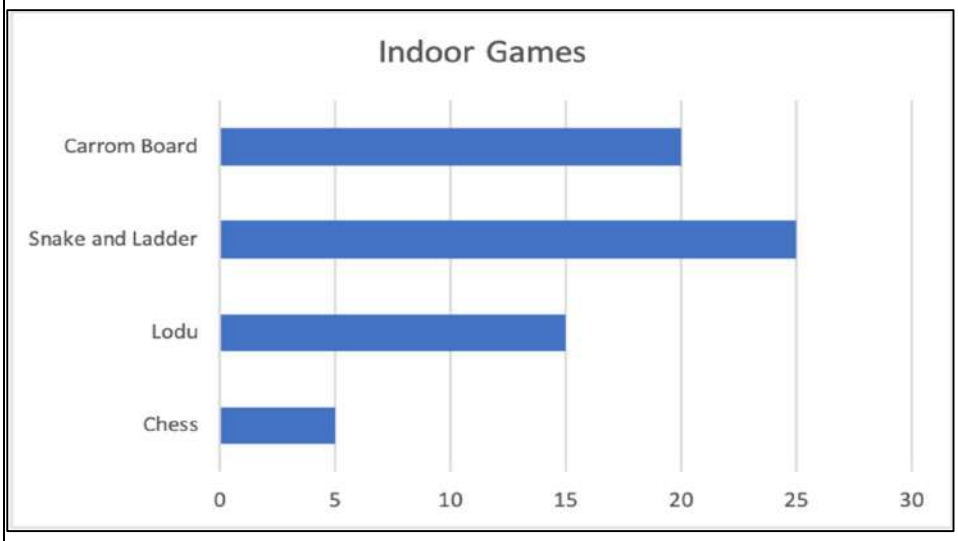 Find out the Number of students playing more Snake and Ladder than Chess? (a) 15 (b) 25 (c) 10 (d) 20	(d)20

<table>
<tr>
<td>12</td>
<td>What have your friends brought for lunch today

<table>
<tr><th>Food Item</th><th>Number of Students</th></tr>
<tr><td>Aloo Sabji</td><td>8</td></tr>
<tr><td>Paneer Sabji</td><td>7</td></tr>
<tr><td>Beans Sabji</td><td>2</td></tr>
<tr><td>Gobhi Sabji</td><td>3</td></tr>
</table>
If we mix Aloo Sabji, Beans Sabji and Gobhi Sabji then what will be the total number of students ?
(a) 12 (b) 13
(c) 14 (d) 15</td>
<td>(b)13</td>
</tr>
<tr>
<td>13</td>
<td>Look at the various ways of coming to school

<table>
<tr><td>Ways of Coming</td><td>Bus</td><td>Van</td><td>Bike</td><td>Auto</td><td>On foot</td></tr>
<tr><td>Number of Students</td><td>44</td><td>29</td><td>50</td><td>45</td><td>25</td></tr>
</table>
Students come by which vehicle/means is lowest?
(a) Bus (b) Van
(c) On Foot (d) Auto</td>
<td>(c)
On Foot</td>
</tr>
<tr>
<td>14</td>
<td>See the Table
<table>
<tr><th>Family</th><th>Number of members</th></tr>
<tr><td>A</td><td>10</td></tr>
<tr><td>B</td><td>8</td></tr>
<tr><td>C</td><td>9</td></tr>
<tr><td>D</td><td>6</td></tr>
</table>
If we add 6 members to the smallest family than what will be the total number of family members.
(a)16 (b)15
(c)12 (d)14</td>
<td>(c)12</td>
</tr>
<tr>
<td>15</td>
<td>Which vegetable is most disliked ?</td>
<td>(a)</td>
</tr>
</table>

		Cabbage

Vegetable	Number of people disliked
	85
	73
	42
	35

(a) Cabbage (b) Egg plant
(c) Tomato (d) Pumpkin

HOMEWORK

<table>
<tr><th>Q. No.</th><th>Question</th><th>Answer</th></tr>
<tr><td>1</td><td>The pictograph shows number of children whose favorite fruit are as follows
 = 2 children
<table>
<tr><th>Fruit</th><th>Number of Children</th></tr>
<tr><td> </td><td> </td></tr>
<tr><td> 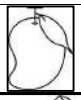 </td><td>  </td></tr>
<tr><td>  </td><td>  </td></tr>
<tr><td> </td><td> </td></tr>
</table>
How many children like mangoes?
(a)4 (b)5
(c)6 (d)7</td><td>(c)6</td></tr>
<tr><td>2</td><td>Look at the table given below shows the number of flowers of different colours
<table>
<tr><th>Colour of flowers</th><th>Number of flowers</th></tr>
<tr><td>Red</td><td>8</td></tr>
<tr><td>Blue</td><td>10</td></tr>
<tr><td>Orange</td><td>7</td></tr>
<tr><td>Purple</td><td>5</td></tr>
</table>
Blue flowers are most in numbers
(a)True (b)False
(c)Both of the above (d)None of the above</td><td>(a) True</td></tr>
<tr><td>3</td><td>Look at the fare in rupees of different means of transport
<table>
<tr><th>Means of transport</th><th>Fare in rupees</th></tr>
<tr><td>Land</td><td>256</td></tr>
<tr><td>Air</td><td>356</td></tr>
<tr><td>Train</td><td>126</td></tr>
<tr><td>Water</td><td>221</td></tr>
</table>
Airfare is how much more than land fare?
(a) 100 (b) 200
(c) 50 (d) 300</td><td>(a)100</td></tr>
</table>

<table>
<tr><td>4</td><td>Look at the Tally Table

<table><tr><th>Items Sold</th><th>Number</th><th>Tally</th></tr><tr><td>Pen</td><td>5</td><td>~~IIII~~</td></tr><tr><td>Pencil</td><td>6</td><td>~~IIII~~ I</td></tr><tr><td>Sharpener</td><td>7</td><td>~~IIII~~ II</td></tr><tr><td>Eraser</td><td>4</td><td>?</td></tr></table>What will the tally for eraser?
(a) IIII (b) III
(c) II (d) ~~IIII~~</td><td>(a)IIII</td></tr>
<tr><td>5</td><td>Look at the number of pets given below

<table><tr><th>Pets</th><th>Number of people</th></tr><tr><td>Dog</td><td>70</td></tr><tr><td>Cow</td><td>60</td></tr><tr><td>Parrot</td><td>40</td></tr><tr><td>Cat</td><td>30</td></tr></table>Which two pets are most liked?
(a) Dog, Cow (b) Cat, Cow
(c) Parrot, Cat (d) Parrot, Dog</td><td>(a) Dog, Cow</td></tr>
<tr><td>6</td><td>Look at the table given below
<table><tr><th>Chocolate</th><th>Cost</th></tr><tr><td>Dairy Milk</td><td>50</td></tr><tr><td>Munch</td><td>10</td></tr><tr><td>Five Star</td><td>15</td></tr><tr><td>Kit Kat</td><td>35</td></tr></table>What is the difference in the cost of Dairy Milk and Kit Kat?
(a) 15 (b) 10
(c) 5 (d) 25</td><td>(a)15</td></tr>
<tr><td>7</td><td>Look at the table given below of games liked and disliked by people

<table><tr><th>Games</th><th>Likes</th><th>Dislikes</th></tr><tr><td>Cricket</td><td>75</td><td>5</td></tr><tr><td>Football</td><td>70</td><td>10</td></tr><tr><td>Volleyball</td><td>60</td><td>20</td></tr><tr><td>Basketball</td><td>65</td><td>15</td></tr></table>Which game has less difference in likes and dislikes?
(a) Cricket (b) Football
(c) Volleyball (d) Basketball</td><td>(c) Volleyball</td></tr>
<tr><td>8</td><td>See question 7 table and answer
Which game is mostly liked and mostly disliked ?
(a) Cricket & Football (b) Football & Volleyball
(c) Cricket & Volleyball (d) Basketball & Football</td><td>(c) Cricket & Volleyball</td></tr>
</table>

<table>
<tr>
<td>9</td>
<td>See the graph
 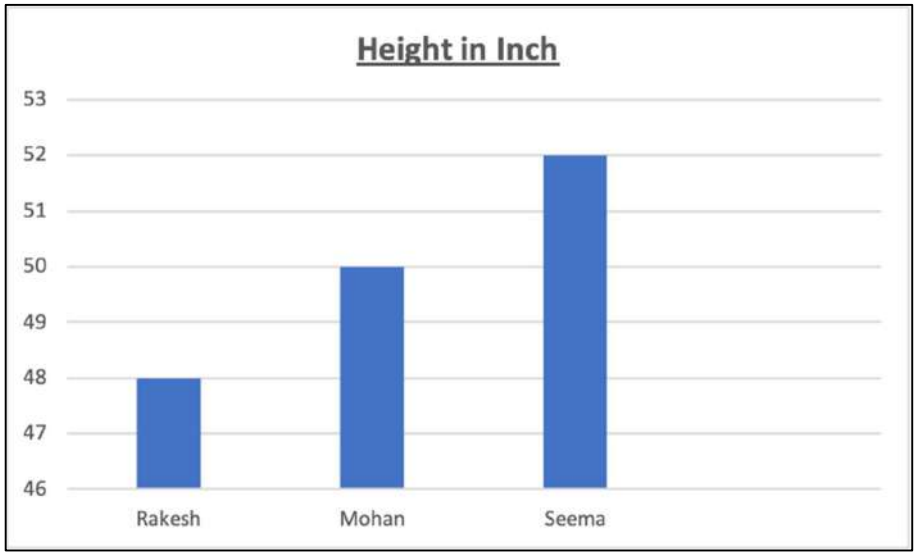

What is the height of Seema in inches?
(a) 46 (b) 52
(c) 50 (d) 48</td>
<td>(b)52</td>
</tr>
<tr>
<td>10</td>
<td>See the Table
<table>
<tr><th>Days</th><th>Number of Jalebi Eaten</th></tr>
<tr><td>Monday</td><td>70</td></tr>
<tr><td>Tuesday</td><td>80</td></tr>
<tr><td>Wednesday</td><td>50</td></tr>
<tr><td>Thursday</td><td>75</td></tr>
<tr><td>Friday</td><td>60</td></tr>
<tr><td>Saturday</td><td>46</td></tr>
</table>
Calculate the total number of Jalebis eaten on Monday, Wednesday and Saturday?
(a) 166 (b) 156
(c) 160 (d) 140</td>
<td>(a)166</td>
</tr>
</table>

केन्द्रीय विद्यालय संगठन, जम्मू संभाग

KENDRIYA VIDYALAYA SANGATHAN, JAMMU REGION

LAT WORKSHEET
CLASS - III

SUBJECT-MATHS
CHAPTER NO.-14
CHAPTER NAME- The Surajkund fair

CLASSWORK

Q. No.	Que.	Ans.
1	Which of these shapes is NOT symmetrical? a) A kite b) A star c) A rectangle d) A heart	a) A kite
2	How many lines of symmetry does the flower have? a)3 b) 2 c) More than 3 d) 1 	c) More than 3
3	Which of the following designs is symmetrical? a) A rangoli with flowers on both sides of the center line b) A rangoli with flowers on one side and stars on the other c) A rangoli with random shapes on all sides d) A rangoli with no clear pattern	a) A rangoli with flowers on both sides of the center line
4	What is the pattern in calendar when you are moving in the vertical downward direction? (a) Difference of 1 (b) Difference of 7 (c) Difference of 3 (d) Difference of 6	(b) Difference of 7

5	If a mala has 8 beads, divided equally between two colors, what will it look like if it is symmetrical? a) Red, yellow, yellow, red, yellow, red, yellow, red b) Red, yellow, red, yellow, yellow, red, red, yellow c) Red, red, red, red, yellow, yellow, yellow, yellow d) Red, yellow, red, yellow, red, yellow, red, yellow	d) Red, yellow, red, yellow, red, yellow, red, yellow
6	Tick the picture which cannot be divided into two similar halves? a) b) c) d)	(b)
7	Which of these shapes can be used to create a tile pattern? a) Triangle b) Circle c) Rectangle d) All of these	d) All of these
8	The flowers are on which side of the Sun? a) Left b) Right c) Middle d) Above the path	a) Left

9	A symmetrical design has: a) Equal parts on both sides b) Different parts on both sides c) No specific pattern d) Only curved lines	a) Equal parts on both sides
10	Which of these cannot be folded into two identical halves? a) A heart b) A starfish c) A leaf with uneven edges d) A rectangle	c) A leaf with uneven edges
11	Which of the following is at left side of G? C G H (a) Cand H (b) C (c) H (d) None of these	(b) C
12	Find odd one out- 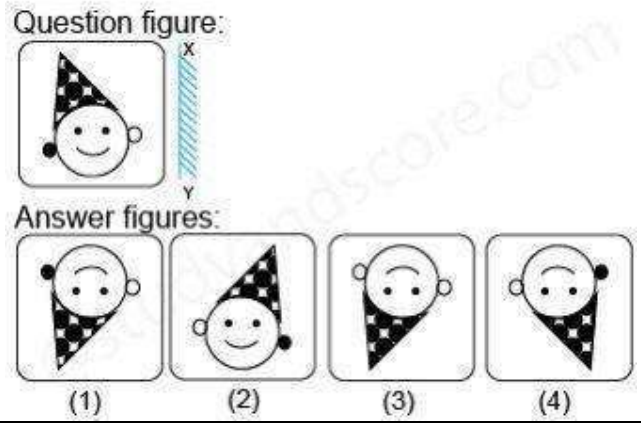 	(2)
13	Which rangoli is not symmetrical? a) A rangoli with equal shapes on both sides. b) A rangoli where shapes are mismatched. c) A rangoli divided by a line. d) A rangoli with a repeating pattern.	b) A rangoli where shapes are mismatched.
14	Look at the pictures given below. Which of the following pictures divided into similar half by any way?  (a) B and C (b)A and D (c) A and C (d)All of these	d) All of these

15	 _____ name is written on the shoe at the left side? (a) Left (b) Right (c) Left and Right (d) None of the above	(a) Right

HOMEWORK

Q. No.	Que.	Ans.
1	Is the given figure symmetrical? 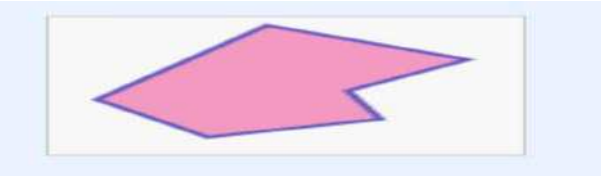 a) Yes b) No c) cannot determine d) May be	b) No
2	Which shape can always be divided into identical halves? a) Square b) Random shape c) Irregular triangle d) Crumpled paper	a) Square
3	A square has _____ lines of symmetry. a)5 b)2 c)3 d)4	(d) 4
4	Which shape will fill the blank?  a) b) c) Both of the above d)None of the above	(b)

5	In the symmetrical mala, if one side has 4 red beads and 3 yellow beads, what will the other side look like? a) 3 red beads and 4 yellow beads b) 4 red beads and 3 yellow beads c) 4 yellow beads and 4 red beads d) Any random arrangement	b) 4 red beads and 3 yellow beads
6	If an image of a starfish is divided equally through its center, what will happen? a) Two identical halves are formed. b) It becomes unsymmetrical. c) The two halves are uneven. d) The starfish is destroyed.	a) Two identical halves are formed.
7	What will happen if you place a mirror along the center of a symmetrical design? a) You will see a different pattern. b) You will see a complete picture. c) The design will disappear. d) Nothing will change	b) You will see a complete picture.
8	Which of these is a non-symmetrical shape? a) Rectangle b) Circle c) A broken glass d) A triangle	c) A broken glass
9	 The pine trees are located in the _____ side of the sun. a) Right b) Left c) Both d) None of the above	(a)Right
10	What does a symmetrical rangoli design look like? a) Equal on both sides b) Uneven on both sides c) Random patterns d) Unequal shapes	a) Equal on both sides

EVS

केन्द्रीय विद्यालय संगठन, जम्मू संभाग

KENDRIYA VIDYALAYA SANGATHAN, JAMMU REGION

LAT WORKSHEET
CLASS - 3

SUBJECT - EVS
CHAPTER NO - 1
CHAPTER NAME -FAMILY AND FRIENDS

CLASSWORK

Q. No.	Question	Answer
1	With whom do we play **peek a boo** game? a) Younger child b) Elder child c) Grand parents d) Mother	a) Younger child
2	**True or False**: We should argue and fight with our friends the time. a)True b) False c) None of these d) Can't say	b)False
3	**Fill in the blank:** A person who has the same parent as you are is called _____. a) Cousin b) Uncle c) Father d) Sibling	d) Sibling
4	**Fill in the blank:** A family with only one parent and children is called a _____ family. a) Joint family b) Nuclear family c) Single parent family d) None of the above	c) Single parent family
5	**Fill in the blank:** Your father's brother is your _____ a) Grandfather b) Uncle c) Brother d) Friend	b) Uncle

6	What do you call your sibling's mother? a) Aunt b) Grandmother c) Mother d) None of the above	c) Mother
7	**True or False:** We should be kind or helpful to our family members. a) True b) False c) None of these d) Can't say	a)True
8	**Fill in the blanks:** Your mother's brother's child is your _____. a) Sibling b) Cousin c) Uncle d) None of these	b) Cousin
9	**Fill in the blank:** A group of people who live together and are related to each other is called a _____. a) Neighbour b) Family c) Stranger d) Friend	b) Family
10	Who was the eldest member in Bela's family? a) Kusum mausi b) Banku bhaiya c) Dadaji d) Munni	c) Dadaji
11	**Circle the odd one out:** a) Snake and ladder b) Chess c) Carrom d) Football	d) Football
12	**Fill in the blank:** A place where we grow flower and vegetable plants is known as _____. a) Drawing room b) Garden c) Hotel d) Kitchen	b) Garden

13	**True or False**: We can use leaves and flowers to make a rangoli. a) True b) False c) None of these d) Can't say	a) True
14	In which season we like to eat pakodas and tea? a) Summer b) Winter c) Spring d) Rainy	d) Rainy
15	A family unit made up of parents and their children is called _____. a) Joint family b) Nuclear family c) Single parent family d) None of the above	b) Nuclear family

HOMEWORK

Q.N.	Question	Answer
1	What do you call your father's mother? a) Grandmother b) Aunt c) Maternal grandmother d) Mother	a) Grandmother
2	**Fill in the blank:** A family in which grandparents, parents, uncles, aunts, and cousins all live in the same House is called _____. a) Nuclear family b) Extended family \ Joint family c) Childless family d) Single parent family	b) Extended \ joint family
3	**Fill in the blank**: The child of your aunt and uncle is known as _____. a) Sibling b) Uncle c) Cousin d) Maternal aunt	c) Cousin

4	Who was the youngest family member in Bela's family? a) Banku b) Bishu c) Bela d) Munni	b) Bishu
5	**True or False:** We should not argue and fight with our elders every time. a) True b) False c) None of these d) Can't say	a) True
6	What do you call your sibling's daughter? a) Nephew b) Daughter c) Niece d) Sister	c) Niece
7	**Find the odd one out :** a) Cricket b) Tennis c) Ludo d) Cycling	c) Ludo
8	**Fill in the blank:** Your father's wife is your _____. a) Aunt b) Mother c) Grandmother d) Neighbour	b) Mother
9	Should you help your parents in household works? a) Yes b) No c) Sometimes d) Never	a) Yes
10	**What activity should you do with your family while at home:** a) Eating meals together b) Watching a movie c) Playing outdoor games d) Going for picnic	a) Eating meals together

केन्द्रीय विद्यालय संगठन, जम्मू संभाग

KENDRIYA VIDYALAYA SANGATHAN, JAMMU REGION

CLASS - 3

SUBJECT - EVS
CHAPTER NO – 2
CHAPTER NAME - GOING TO THE MELA

CLASSWORK

Q. No.	Question	Answer
1	Where did the children visit first at the Mela? a) Giant wheel b) Toy stall c) Food stall d) Animal show	b)Toy stall
2	What did the children enjoy eating at the Mela? a) Chaat b) Kulfi c) Chhole kulche d) All of these	d) All of these
3	**Fill in the blank:**_____ was accompanying the police officer. a) Cat b) Horse c) Dog d) Cow	c) Dog
4	Mohan chacha and his family was arriving by : a) Plane b) Train c) Cycle d) Bike	b) Train
5	What did dadiji notice as they were leaving the mela? a) A magic show b) A fire engine c) A police dog d) A toy shop	c) A police dog
6	What time of day did Hari and Geeta visit the mela? a) Morning b) Afternoon c) Evening d) Night	c) Evening

7	**True or False:** The children didn't like the mela. a) True b) False c) None d) Can't say	b) False
8	The Mela was held in _____. a) A big parade ground b) Near the school c) In the house d) In the police station	a) A big parade ground
9	**Fill in the blank:** Rohit's father bought _____ full tickets and four half tickets. a) Eight b) Five c) Seven d) Four	b) Five
10	Which bus number did they take for the mela? a) 508 b) 409 c) 444 d) 401	d) 401
11	What is another word used for a fair? a) Zoo b) Crowd c) Mela d) Garden	c) Mela
12	Jumbled words **NIGTA WHEEL** (Hint- It's a thrilling ride.) a) TINGA WHEEL b)GANIT WHEEL c) GIANT WHEEL d)NITAG WHEEL	c) GIANT WHEEL
13	**True or False**: The children stayed silent during the puppet show. a) True b) False c) None d) Can't say	b) False

14	Which ride goes round and round? a) Merry-go-round b) Horse ride c) See saw d) Slide	a) Merry-go-round
15	Which show uses dolls to tell a story? a) Magic show b) Comedy show c) Puppet show d) Movie show	c) Puppet show

HOMEWORK

Q. No.	Question	Answer
1	What sound could be heard all around the mela? a) Birds chirping b) Music and laughter c)Train whistles d) Quiet murmurs	b) Music and laughter
2	What did the children see at the mela? a) Animals b) Magic show c) Parade d) Movie	b) Magic show
3	**True and false:** Gita bought the earrings at the mela. a) True b) False c) None d) Can't say	b) False
4	**Spot the odd one out.** a) Candy floss b) Ice-cream c) Puppet show d) Jalebi	c) Puppet show
5	True or False: The mela had a lot of stalls selling toys and sweets. a) True b) False c) None d) Can not say	a) True
6	Which stall was the most colourful in the mela? a)Balloon b) Ice-cream c) Book d) None of the above	a) Balloon

7	At the entrance of the mela ground, there was a _____. a) Map b) Door c) Policeman d) Dog	a) Map
8	Imagine you got lost at the mela. Where would you go for help? a) Help centre b)To the police c) To your friend d) Lost and found booth	d) Lost and found booth
9	What was the magician's main act? a) Food stall b) Animal show c) Magic tricks d) All of the above	c) Magic tricks
10	Sneha and Radha bought _____ from the mela. a) Flowers b) Bangles c) Candy d) Balloons	b) Bangles

केन्द्रीय विद्यालय संगठन, जम्मू संभाग

KENDRIYA VIDYALAYA SANGATHAN, JAMMU REGION

LAT WORKSHEET
CLASS - 3

SUBJECT - EVS
CHAPTER NO - 3
CHAPTER NAME - Festival of flowers

CLASSWORK

Q. No.	Questions	Answer
1	The festival of _____ is celebrated with lights, sweets, and fireworks. a) Holi b) Eid c) Diwali d) Christmas	c) Diwali
2	_____ marks the end of a month of fasting for Muslims. a) Pongal b) Eid c) Dussehra d) Christmas	b) Eid
3	On _____, the Indian national flag is hoisted at th Fort. a) Republic Day b) Independence Day c) Gandhi Jayanti d) Children's Day	b) Independen ce day
4	The festival of colours, celebrated with water and coloured powders, is called _____. a) Dussehra b) Holi c) Diwali d) Pongal	c) Holi
5	Christmas is celebrated to mark the birth of _____. a) Lord Rama b) Prophet Muhamm c) Jesus Christ d) Guru Nanak	c) Jesus Christ

6	A circular sign with a red border and a crossed-out horn symbol means "No Honking." a) True b) False c) None of these d) Can't say	a) True
7	A square blue sign with a white 'P' indicates a no-parking zone. a) True b) False c) None of these d) Can't say	b) False
8	Which of these is a religious festival? a) Diwali b) Independence Day c) Teacher's Day d) Children's Day	a) Diwali
9	During Holi, people throw: a) Flowers b) Colours c) Water d) Candles	b) Colours
10	Which festival is celebrated by tying a thread on the brother's wrist? a) Holi b) Eid c) Raksha Bandhan d) Pongal	c) Raksha Bandhan
11	Pongal is a festival primarily celebrated in: a) Northern India b) Southern India c) Western India d) Eastern India	b) Southern India
12	Which of these is a national festival of India? a) Holi b) Eid c) Independence Day d) Christmas	c) Independence Day
13	Which part of the plant is a flower? a) Root b) Leaf c) Flower d) Branches	c) Flower
14	Which flower is known as the national flower of India? a) Marigold b) Sunflower c) Lotus d) Hibiscus	c) Lotus

15	Which flower turns towards the sun? a) Daisy b) Sunflower c) Hibiscus d) Rose	b) Sunflower

HOMEWORK

Q. No.	Questions	
1	What should you do before crossing a street at a pedestrian crossing? a) Run quickly b) Wait for the green light or signal c) Look both ways and cross without hesitation d) Only cross when there are no cars in sight	b) Wait for the green light or signal
2	When driving at night, it is essential to: a) Use high beam headlights at all times b) Drive at the same speed as in daylight c) Dim your headlights when approaching another vehicle d) Ignore road signs	c) Dim your headlights when approaching another vehicle
3	What is the primary purpose of seat belt in a car? a) To make the car look nice b) To help the driver avoid fatigue c) To keep passengers and drivers safe during sudden stops or accidents d) To ensure the car's interior remains clean	c) To keep passengers and drivers safe during sudden stops or accidents
4	On Independence Day, the national flag is hoisted at: a) Schools only b)Historical monuments only c) Red Fort d) Parks only	c) Red fort
5	Which of these festivals involves lighting of lamps and candles in homes? a) Eid b) Diwali c) Holi d) Christmas	b) Diwali

6	What do people offer during Ganesh Chaturthi? a) Fruits and flowers b) Laddoos and modaks c) Christmas cake d) Sweets made of dates	b) Laddoos and modaks
7	Which harvest festival is celebrated in Punjab with dance and music? a) Diwali b) Baisakhi c) Holi d) Dussehra	b) Baisakhi
8	A red octagonal sign with the word "STOP" means vehicles must come to a complete stop. a) True b) False c) Can't say d) None of these	a) True
9	A triangular sign with a red border and a pedestrian symbol indicates a pedestrian crossing ahead. a) True b) False c) Can't say d) None of these	a) True
10	A circular blue sign with a white arrow pointing right indicates that you must turn right. a) True b) False c) Can't say d) None of these	a) True

केन्द्रीय विद्यालय संगठन, जम्मू संभाग

KENDRIYA VIDYALAYA SANGATHAN, JAMMU REGION

LAT WORKSHEET
CLASS - III

SUBJECT – EVS
CHAPTER NO – 4
CHAPTER NAME – Getting to know plants

CLASSWORK

Q.No.	Question	Answer
1	What is the main function of leaves in a plant? a) To make the plant grow b) To produce food for plants plant c) To absorb water from the soil d) To protect the plant from animals	b) To produce food for plants
2	How do plants help maintain ecological balance? a) Providing Shelter b) Regulating Water Cycles c) Supporting Food Chains d) All of them	d) All of them
3	Why do leaves appear green? a) Because of the sunlight b) Because of chlorophyll c) Because of water d) Because of air	b) Because of chlorophyll
4	**State True/False :** Plants give us food, shelter and oxygen. a) True b) False c) None of these d) Can not say	a) True
5	Which animal helps spread plant seeds? a) Birds b) Monkeys c) Butterflies d) All of them	d) All of them

6	Which part of plant become fruit? a) Stem b) Flowers c) Roots d) Leaves	b) Flowers
7	What do we get from the plants? a) Fruit b) Medicine c) wood d) All of them	d) All of them
8	What is the function of stem? a) To make the plant grow b) To produce food for the plant c) To support the plant and carry food and water to other parts of plant d) None	c) To support the plant and carry food and water to other parts of plant
9	Fill in the blank. Pulses like toor, masoor etc. are the seeds of _____. a) Herbs b) Shrubs c) Climber d) Creeper	b) Shrubs
10	What happens when we plant trees? a) Less Pollution b) More shade c) Cleaner Air d) All of them	d) All of them
11	**State True or False** Plants only grow in the ground. a) True b) False c) None of these d) Can not say	b) False

12	Plants that have flowers and produce seed are known as ___ a) Flowering plants b) Non flowering plants c) Both d) None	a) Flowering plants
13	**Fill in the Blanks** The leaves of grasses are _____ and _____. a) Wide and spiky b) short and Rigid c) Long and Narrow d) None	c) Long and Narrow
14	**What do plants need to make their own food?** a) Water and sunlight b) Air and carbon dioxide c) Water, sunlight, and air d) Water, sunlight, air, and carbon dioxide	d) Water, sunlight, air, and carbon dioxide
15	**Which part of the plant absorbs water and minerals from the soil?** a) Stem b) Leaves c) Roots d) Flowers	c) Roots

HOMEWORK

Q. No.	Question	Answer
1	**Which part of the plant produces seeds?** a) Stem b) Leaves c) Flowers d) Fruits	d) Fruits
2	What do plants release into the air that we breathe? a) Carbon dioxide b) Oxygen c) Water d) Soil	b) Oxygen
3	Which part of plant provides shelter for animals? a) Trunk b) Branches c) Leaves d) All of them	d) All of them

4	**Which of these is an example of a tree?** a) Tomato b) Mint c) Mango tree d) Hibiscus	c) Mango tree
5	**Which of these plants needs support to climb?** a) Money plant b) Rose c) Tulsi d) Mango tree	a) Money plant
6	How can we help plants grow? a) Pulling weeds b) Watering c) Providing sunlight exposure d) All of them	d) All of them
7	Why should we plant more trees? a) For shade b) For oxygen c) For animals' homes d) All of them	d) All of them
8	**State True or False** Plants can make their own food. a) True b) False c) None of these d) Can't say	a) True
9	**State True or False** All plants have flowers. a) True b) False c) None of these d) Can't say	b) False
10	**Fill in the blanks** The sun provides _____for plants to make food. a) Food B) Nutrients c) Energy d) All of the above	c) Energy

केन्द्रीय विद्यालय संगठन, जम्मू संभाग

KENDRIYA VIDYALAYA SANGATHAN, JAMMU REGION

LAT WORKSHEET
CLASS - III

SUBJECT – EVS
CHAPTER NO – 5
CHAPTER NAME – Plants and Animals Live Together

CLASSWORK

Q. No.	Question	Answer
1	What happens to the leaves of many trees in autumn? a) They grow bigger b) They turn yellow or red and fall off c) They stay green d) They grow flowers	b) They turn yellow or red and fall off
2	Which soil is most likely to be found in a desert? a) Sandy soil b) Clay soil c) Peaty soil d) Loamy soil	a) Sandy soil
3	Which of the following helps animals get oxygen to breathe? a) Plants b) Soil c) Rock d) Water	a) Plants
4	True/False: When animals eat plants, they help the plants grow. a) True b) False c) None of these d) Can’t say	b)False
5	Which type of soil is best for growing vegetables like carrots and potatoes? a) Sandy soil b) Clay soil d) Rocky soil c) Loamy soil	c) Loamy soil

6	How do plants and animals help each other? a) Animals provide food for plants. b) Plants give oxygen to animals and animals provide carbon dioxide to plants. c) Animals give water to plants. d) Plants and animals don't need each other	b) Plants give oxygen to animals and animals provide carbon dioxide to plants.
7	What do animals get from the plants? a) Food b) Shelter c) Meat d) Both ‘a’ and ‘b’.	d) Both a and b
8	**Which animal helps in spreading seeds?** a) Lion b) Tiger c) Bird d) Shark	c) Bird
9	Fill in the blanks. Birds like owl use _____ in the trees to bring up their young ones. a) Flowers b) Roots c) Trunk d) All of them	c) Trunk
10	**Which animal helps in pollination of flowers?** a) Snake b) Frog c) Bee d) Fish	c) Bee
11	State True or False Plants do not need animals to survive. a) True b) False c) None of these d) Can’t say	b) False
12	**What do plants get from the soil?** a) Sunlight b) Air c) Water and minerals d) Oxygen	c) Water and minerals

13	Fill in the blanks Caterpillars munch on different leaves of plants for _____. a) Food b)Water c) Both d) None	a) Food
14	**What is the process of a plant making its own food called?** a) Respiration b) Photosynthesis c) Digestion d) Excretion	b) Photosynthesis
15	**Which animal makes its home in a tree hole?** a) Snake b) Squirrel c) Fish d) Frog	b) Squirrel

HOMEWORK

Q. No.	Question	Answer
1	**Which animal helps in breaking down dead plants and animals?** a) Lion b) Tiger c) Earthworm d) Deer	c) Earthworm
2	_____soil drains water quickly and does not hold moisture for long. a) Clay b) Sandy soil c) Loamy soil d) Peaty Soil	b) Sandy soil
3	What does a caterpillar eat? a) Leaves b) Flowers c) Insects d) Fruits	a) Leaves
4	What is the first stage in the life cycle of a butterfly? a) Caterpillar b) Pupa c) Butterfly d) Egg	d) Egg

5	What does a butterfly come out of? a) Egg b) Pupa c) Caterpillar d) Flower	b) Pupa
6	Animals like earthworms and insects help plants by breaking down dead plants in to _____that go back into the soil. a) Weeds b) Scraps c) Nutrients d) All of them	c) Nutrients
7	Which one is not the Omnivores? a) Human b) Bear c) Crow d) Lion	d) Lion
8	State True or False Animals help plants by pollinating them, spreading seeds, and providing nutrients to the soil. a) True b) False c) None of these d) Can’t say	a) True
9	State True or False All animals depend on plants for food. a) True b) False c) None of these d) Can’t say	b) False
10	Fill in the blanks A decomposer is also known as a _____. a) Herbivores b) Nutrients c)Nature's recycler d) All of the above	c) Nature's recycler

केन्द्रीय विद्यालय संगठन, जम्मू संभाग

KENDRIYA VIDYALAYA SANGATHAN, JAMMU REGION

LAT WORKSHEET
CLASS –III

SUBJECT – EVS
CHAPTER NO – 6
CHAPTER NAME - LIVING IN HARMONY

CLASSWORK

Q.No.	Question	Answer
1	What is essential for our survival? a) Only Plants b) Only Animals c) Plants and Animals d) None	c) Plants and Animals
2	How do plants help maintain ecological balance? a) Providing Shelter b) Regulating Water Cycles c)Supporting Food Chains d) All of them	d) All of them
3	Which action promotes harmony between humans and wildlife? a) Habitat Destruction b) Pollution c)Conservation d) Overhunting	c)Conservation
4	**State True/False :** Plants give us food, shelter and oxygen. a) True b) False c) None of these d) Cannot say	a) True
5	Which animal helps to spread plant seeds? a) Birds b) Monkeys c) Butterflies d) All of them	d) All of them

6	How do bees help flowers? a) By watering them b) By giving them sunlight c) By Pollination d) By giving them shelter	c) By Pollination
7	What do we humans get from the plants? a) Fruit b) Medicine c) Fibre d) All of them	d) All of them
8	What do earthworms do to help plants? a) Eat plants b) Make soil soft & fertile c) Drink water d) Give shade	b) Make soil soft & fertile
9	A bird's nest falls from a tree. What should you do? a) Take the eggs b) Leave it alone c) Put it back safely d) Show friends	c) Put it back safely
10	What happens when we plant trees? a) Less Oxygen b) More shade c) Cleaner Air d) Both b) and c)	d) Both b) and c)
11	What do plants need for their growth? a) Air b) Water c) Sunlight d) All of them	d) All of them
12	Where do fish live? a) Forests b) Rivers/Oceans c) Deserts d) Mountains	b) Rivers/ Oceans
13	What is the main reason that migratory birds travel? a) To find food b) To escape cold weather c) To breed d) All of them	d) All of them

14	What do migratory birds use to navigate? a) Maps b) Compass c) Stars and Landmarks d) GPS	c) Stars and Landmarks
15	Why should we not disturb bird's nests? a) Birds will fly away b) Babies will fall c) Birds will be scared d) All of them	d) All of them

HOMEWORK

Q. No.	Question	Answer
1	How can we help animals? a) By feeding them b) By protecting habitats c) By providing water d) All of them	d) All of them
2	What do plants release during photosynthesis? a) Carbon dioxide b) Oxygen c) Water d) Soil	b) Oxygen
3	Which part of the trees provides shelter for animals? a) Trunk b) Branches c) Leaves d) Roots	b) Branches
4	How do birds help plants? a) By eating them b) By giving water c) By spreading seeds d) By providing shade	c) By spreading seeds

5	How can we help to conserve water for animals? a) Taking long baths b) Turning off taps c) Leaving the tap running d) Making more swimming pools	b) Turning off taps
6	How can we help plants to grow? a) Pulling weeds b) Watering c) Providing sunlight exposure d) All of them	d) All of them
7	Why should we plant more trees? a) For shade b) For oxygen c) For animals' homes d) All of them	d) All of them
8	How can we help the injured animals? a) By leaving them alone b) Taking them to vets c) Feeding them d) None	b) Taking them to vets
9	Your school organizes a tree-plantation event. How can you help? a) Plant trees b)Water plants c) Make posters d) All of them	d) All of them
10	Which of the following is a migratory bird? a) Peacock b) Sparrow c) Crow d) Siberian Crane	d) Siberian Crane

केन्द्रीय विद्यालय संगठन, जम्मू संभाग

KENDRIYA VIDYALAYA SANGATHAN, JAMMU REGION

LAT WORKSHEET
CLASS – III

SUBJECT –EVS
CHAPTER NO –7
CHAPTER NAME – WATER-A PRECIOUS GIFT

CLASSWORK

Q.No.	Question	Answer
1	Which of the following is the main source of water? a) Hand pump b) Rain c) Well d) Ocean	b) Rain
2	Drinking water should be stored in _____. a) Open container b) Covered container c) Uncovered container d) Covered and clean container	d) Covered and clean container
3	Which is the main source of salty water? a) Lake b) Pond c) Ocean d) River	c) Ocean
4	**True/False:** We cannot live without water. a) True b) False c) None of these d) Cannot say	a) True
5	We get water from _____ in our house. a) Tap b) River c) Pond d) Ocean	a) Tap
6	Which of the following activity can be done without the use of water? a) Making tea b) Kneading dough c) Skipping d) Plants to grow	c) Skipping

7	Which of the following is not a natural source of water? a) River b) Pond c) Rain d) Hand pump	d) Hand pump
8	A_____ is a shallow container for birds to drink water. a) Bottle b) Bird bath c) Tank d) Pot	b) Bird bath
9	**True/ False:**We should add too much soap in water. a) True b) False c) None of these d) Cannot say	b) False
10	What is the term used for water stored underground? a) Ground water b) Rain water c) Tap water d) None of these	a) Groundwater
11	Which of the following is not a method of storing water? a) Tanks b) Buckets c) Soil d) Bottles	c) Soil
12	Why is it important to conserve water? a) It is abundant b) It is a precious resource c) It is not needed for daily activities d) It can be created artificially	b) It is a precious resource
13	What is the primary source of water for taps at home? a) Tank b) Puddle c) Rain d) All of them	a) Tank
14	**True / False:** Rainwater is clean and can be used for drinking without treatment. a) True b) False c) None of these d) Can’t say	b) False

15	Which of the following activity helps in reuse of water? a) Take short shower b) Watering plants with water used to wash fruits c) Turn off the tap while brushing teeth d) All of them	b) Watering plants

HOMEWORK

Q. No.	Question	Answer
1	How can we conserve water? a) By taking short shower b) Turn off tap while brushing c) Check for toilet leaks d) All of them	d) All of them
2	**True / False:** We should leave the taps open all the time. a) True b) False c) None of these d) Can't say	b) False
3	Which of the following vessel is used to store water at home? a) Clay pot b) Brass pot c) Steel pot d) All of them	d) All of them
4	How much % of earth's surface is covered with water? a) 70% b) 80% c) 78% d) 75%	a) 70%
5	Which activity needs the least water? a) Taking a bath b) Making a cup of tea c) To wash a car d) Watering the fields	b) Making a cup of tea
6	Which plant can survive without water for many days? a) Rose b) Cactus c) Jasmine d) All of them	d) All of them

7	How can we reduce wastage of water? a) Take short shower b) Washing car c) Watering fields d) Leaving tap open	a) Take short shower
8	**True/ False:** Excess rain causes floods. a) True b) False c) None of these d) Can’t say	a) True
9	Ice is the _____ form of water. a) Liquid b) Gaseous c) Solid d) None of them	a) Solid
10	Which of the following needs water? a) Human b) Animals and birds c) Plants d) All of them	d) All of them

केन्द्रीय विद्यालय संगठन, जम्मू संभाग

KENDRIYA VIDYALAYA SANGATHAN, JAMMU REGION

LAT WORKSHEET
CLASS - III

SUBJECT - EVS
1CHAPTER NO – 8
CHAPTER NAME - FOOD WE EAT

CLASSWORK

Q. No.	Question	Answer
1	What is the main source of energy for our body? a) Water b) Food c) Air d) Sleep	b) Food
2	Which of the following is a type of carbohydrate? a) Protein b) Fat c) Rice d) Vitamin	c) Rice
3	What is the function of fibres in our diet? a) To provide energy b) To build muscles c) To help digestion d) To protect from diseases	c) To help digestion
4	Why is it important to eat a variety of foods? a) To get all the nutrients b) To save money c) To eat quickly d) To please others	a) To get all the nutrients
5	What is the name of the process by which plants make their own food? a) Respiration b) Photosynthesis c) Decomposition d) Fermentation	b) Photosynthesis

6	Which of the following is a type of healthy food? a) Junk food b) Fruits and vegetables c) Soft drinks d) Fried foods	b) Fruits and vegetables
7	What is the role of vitamins in our body? a) To provide energy b) To build muscles c) To protect from diseases d) To help growth	c) To protect from diseases
8	Which of the following foods is rich in protein? a) Apple b) Banana c) Egg d) Carrot	c) Egg
9	Which of the following is a type of healthy eating habit? a) Eating junk food daily b) Eating regular meals c) Eating in front of TV d) Eating too quickly	b) Eating regular meals
10	Which of the following is a type of unhealthy food? a)Fresh fruits b)Leafy vegetables c) Junk food d)Whole grains	c) Junk food
11	Why is it important to eat a balanced diet? a) To provide energy b) To build muscles c) To prevent diseases d) All of the above	d) All of the above
12	Why is it important to drink plenty of water? a) To stay cool b) To stay healthy c) To digest food d) All of the above	d) All of the above
13	Why is it important to chew food properly? a) To prevent germs b) To prevent diseases c) To digest food properly d) To build muscles	c) To digest food properly
14	Which of the following foods is rich in fibre? a) Bread b) Rice c) Fruits and vegetables d) Meat	c) Fruits and vegetables

15	What is the function of saliva in digestion? a) To break down carbohydrates b) To break down proteins c) To break down fats d) To prevent germs	a) To break down carbohydrates

HOMEWORK

Q. No.	Question	Answer
1	What is the main function of the digestive system? a) To breathe b) To move c) To digest food d) To thin	c) To digest food
2	Which of the following foods is rich in calcium? a)Leafy vegetables b)Fruits c) Milk d)Meat	d) Milk
3	What is the function of minerals in our body? a) To provide energy b) To build muscles c) To protect from diseases d) To regulate body functions	d) To regulate body functions
4	Which of the following is a healthy snack option? a) Chips b) Cookies c) Fresh fruits d) Soft drinks	c) Fresh fruits
5	Why is it important to drink milk? a) To build bones b) To build muscles c) To provide energy d) To prevent diseases	a) To build bones
6	What is the name of the nutrient that helps build muscles? a) Carbohydrate b) Protein c) Fat d) Vitamin	b) Protein

7	Why is it important to eat breakfast? a) To provide energy b) To build muscles c) To prevent diseases d) To stay healthy	a) To provide energy
8	Why is it important to wash hands before eating? a) To stay cool b) To stay healthy c) To prevent germs d) To please others	c) To prevent germs
9	Which of the following food is rich in vitamins and minerals? a)Fruits and vegetables b)Meat and eggs c)Bread and pasta d)Junk food	a) Fruits and vegetables
10	What is the name of the nutrient that helps provide energy? a) Carbohydrate b) Protein c) Fat d) Vitamin	a) Carbohydrate

केन्द्रीय विद्यालय संगठन, जम्मू संभाग

KENDRIYA VIDYALAYA SANGATHAN, JAMMU REGION

LAT WORKSHEET
CLASS - III

SUBJECT - EVS
CHAPTER NO: 9
CHAPTER NAME: STAYING HEALTHY AND HAPPY

CLASSWORK

Q. No.	Question	Answer
1	How many times should we brush our teeth? a) Once a day b) Twice a day c) Three times a day d) None of them	b) Twice a day
2	**True or False**: We should sleep for at least 8 hours at night. a) True b) False c) None d) Can't say	a) True
3	**True or False**: We can cross a busy road at any time. a) True b) False c) None d) Can't say	b) False
4	Which of the following activity helps to keep your body healthy and strong? a) Watching T.V daily b) Eating junk food c) Staying indoors d) Playing outdoor games	d) Playing outdoor games
5	**Fill in the blank:** When there is no footpath, we must walk on the _____ side of the road to be safe. a) Left b) Right c) Middle d) A OR B Both	a) Left

6	**True or False:** All the family members should use the same towel. a) True b) False c) None d) Can’t say	b) False
7	**Fill in the blank:** Exercise makes our body _____and _____. a) Clean and healthy b) Healthy and strong c) Weak and lazy d) Weak and clean	b) Healthy and strong
8	Neha cleans her house and throws her household waste on the road. Is it good habit or bad habit? a) Good Habit b) Bad Habit c) Interesting d) Looks good	b) Bad Habit
9	**True or False:** Safety rules keep us unsafe. a) True b) False c) None d) Can’t say	b) False
10	When should we wash our hands? a) After reading a book b) Before and after eating anything c) Before going to sleep d) After taking a bath	b) Before and after eating anything
11	**Fill in the blank:** We should not open the door for _____ unless we are not with our parents. a) Grandparents b) Siblings c) Strangers d) Relatives	c) Strangers
12	Rohan eats a healthy breakfast every morning. He never skips his Breakfast. Why does he do so? a) Because everyone does it. b) To skip his lunch. c) To keep his teeth strong. d) To give his body energy to start the day.	d) To give his body energy to start the day.

13	**True or False**: Birds and animals also like to keep themselves clean like human beings. a) True b) False c) None d) Can't say	a) True
14	Which of the following is an indoor game that help us to keep our mind active? a) Chess b) Cricket c) Football d) Hockey	a) Chess
15	**Fill in the blank:** A healthy mind lives in a healthy _____. a) Head b) Body c) House d) Place	b) Body

HOMEWORK

Q. No.	Question	Answer
1	**True or False**: Playing indoor games do not help us to keep our body and mind active. a) True b) False c) None d) Can't say	b) False
2	**Fill in the blank:** We should drink at least _____ glasses of water every day. a) 4-5 b) 1-2 c) 6-8 d) 2-3	c) 6-8
3	**Fill in the blank**: We should take a _____ everyday to keep our body clean and germ free. a) Towel b) Soap c) Walk d) Bath	d) Bath
4	From which tree datun can be made to clean our teeth? a) Neem tree b) Mango tree c) Tamarind tree d) Banyan tree	a) Neem tree

5	**Fill in the blank**: _____ is a natural cleaning alternative for the hair. a) Reetha b) Shikakai c) Shampoo d) Both A and B	d) both A and B
6	Which of the following food item which is not good for our health. a) Spinach b) Apple c) Samosa d) Carrot	c) Samosa
7	Riya does not follow safety rules anywhere. She doesn't obey traffic rules. She plays with sharp objects. She runs up and down on staircases. How this can be harmful for her? a) She may get hurt herself. b) She may fall down. c) She may loss her life. d) All of the above	d) All of the above
8	Mohan is touching electronic appliances with wet hands. Is it safe or unsafe for him? a) Safe b) Unsafe c) Both 'a' and 'b' d) None of the above	b) Unsafe
9	**True or False**: We should not rinse our mouth every time after eating food. a) True b) False c) None d) Can't say	b) False
10	**True or False**: We should eat a balanced diet to remain healthy. a) True b) False c) None d) Can't say	a) True

केन्द्रीय विद्यालय संगठन, जम्मू संभाग

KENDRIYA VIDYALAYA SANGATHAN, JAMMU REGION

LAT WORKSHEET
CLASS - 3

SUBJECT - EVS
CHAPTER NO - 10
CHAPTER NAME - THE WORLD OF THINGS

CLASSWORK

Q. N.	**Question**	**Answer**
1	What do plants need to make their food? a) Sunlight b) Plastic c) Cotton d) Metal	a) Sunlight
2	Which of these is a natural resource? a) Plastic b) Water c) Steel d) Glass	b) Water
3	Identify the material used to make the object in the picture below: a) Plastic b) Wood c) Metal d) Glass 	b) Wood
4	**Fill in the blank**: Trees give us _____. a) Oxygen b) Plastic c) Smoke d) Metal	a) Oxygen
5	**Fill in the blank**: Plastic is not ___. a) Reusable b) Natural c) Man-made d) Useful	b) Natural
6	Which of these is NOT made from the plant? a) Wooden table b) Cotton shirt c) Clay pot per	c) Clay pot

7	Look at the picture below: What is this made of? a) Glass b) Plastic c) Clay d) Wood 	c) Clay
8	Which of these materials can be recycled? a) Glass b) Stone c) Soil d) Leaves	a) Glass
9	**Fill in the blank:** Trees give us ___, which we need to breathe. a) Water b) Oxygen c) Sugar d) Carbon dioxide	b) Oxygen
10	**True or False:** Plants give us cotton to make clothes. a) True b) False c) None d) Can't say	a) True
11	**Match the following:** Items:Materials: a) Pencil (1) Glass b)Water tank (2) Wood c)Sculptures (3) Plastic d) Mirror (4) Clay a) a-2,b-3, c-4, d-1, b) a-3, b-4, c-1, d-2 c) a-4, b-1, c-2, d-3 d) a-3, b-4, c-1, d-2	a) a-2,b-3, c-4, d-1
12	Which one of these is a natural thing? a) Plastic bag b) Leaf c) Glass bottle d) Spoon	b) Leaf

13	**True or False:** Soil is made up of broken pieces of rock and minerals. a) True b) False c) None d) Can't say	a) True
14	**Fill in the blank**: We use ___ to make furniture. a) Rubber b) Plastic c) Clay d) Wood	d) Wood
15	Which material is not used to make cloth? a) Cotton b) Wool c) Plastic d) Silk	c) Plastic

HOMEWORK

Q. No.	Question	Answer
1	Which one product is made from trees? a) Rubber b) Plastic c) Paper d) Metal	c) Paper
2	Which of these items is NOT made from plants? a) Cotton shirt b) Wooden table c) Glass bottle d) Paper	c) Glass bottle
3	Identify the material used in the object below: a) Wood b) Glass c) Metal d) Clay 	b) Glass
4	**Fill in the blank:** We should use ___ instead of plastic bags to save the environment. a) Cloth b) Metal c) Rubber d) Glass	a) Cloth

5	**True or False:** Plants do not need soil to grow. a) True b) False c) None d) Can’t say	b) False
6	Which of these is a man-made object? a) Water b) Flower c) Chair d) Tree	c) Chair
7	What is the primary use of sunlight for plants? a) To grow taller b) To make food c) To change color d) To get water	b) To make food
8	**Fill in the blank: ___** is a product we get from plants. a) Glass b) Paper c) Metal d) Plastic	b) Paper
9	Which of these materials is naturally biodegradable? a) Leaves b) Plastic c) Metal d) Glass	a) Leaves
10	What material is used to make a cotton shirt? a) Leaves b) Cotton fibre c) Wool d) Plastic	b) Cotton fibre

केन्द्रीय विद्यालय संगठन, जम्मू संभाग

KENDRIYA VIDYALAYA SANGATHAN, JAMMU REGION

LAT WORKSHEET
CLASS - 3

SUBJECT - EVS
CHAPTER NO - 11
CHAPTER NAME - MAKING THINGS

CLASSWORK

Q. No.	Question	Answer
1	Which material is commonly used to make pots? a) Wood b) Metal c) Clay d) Glass	c) Clay
2	**True or False**: A potter uses a wheel to shape clay a) True b) False c) None d) Can't say	a) True
3	**Fill in the blank:** Paper is made from __. a) Plastic b) Wood c) Cloth d) Iron	b) Wood
4	Glass is made from which material? a) Metal b) Wood c) Clay d) Sand	d) Sand
5	**Fill in the blank:** _____ can be folded easily. a) Glass b) Paper c) Metal d) Stone	b) Paper
6	Which of these is not a recyclable material? a) Plastic b) Paper c) Stone d) Cloth	c) Stone

7	**True or False:** A carpenter uses glue to cut wood. a) True b) False c) None d) Can’t say	b) False
8	Which of these is an example of a handmade object? a) Laptop b) Clay pot c) Bicycle d) Mobile phone	a) Clay Pot
9	**Fill in the blank:** A __ is used to cut paper. a) Hammer b) Scissors c) Saw d) Glue	b) Scissors
10	Which of these items can be made from plastic? a) Table b) Pot c) Spoon d) All of the above	d) All the above
11	**Fill in the blank**: Sandpaper is used to make wood __ a) Wet b) Dry c) Smooth d) Rough	c) Smooth
12	Which of these is a tool used by a carpenter? a) Paintbrush b) Saw c) Needle d) Glue	b) Saw
13	**True or False**: A spoon is usually made from cloth. a) True b) False c) None d) Can’t say	b) False
14	**Fill in the blank: ____** is a soft material that can be shaped into different objects. a)Wood b) Plastics c) Sand d) Clay	d) Clay

15	**Match the following:** a) Spoon 1) Wood b) Chair 2) Metal c) Plastic 3) Clay d) sculpture 4) Recyclable a) a-2,b-1,c-4,d-3 b) a-1,b-2,c-3,d-4 c) a-3,b-4,c-2,d-1 d) a-4,b-2,c-3,d-1	a) a-2,b-1,c-4,d-3

HOMEWORK

Q. No.	Question	Answer
1	Which of the following is recyclable? a) Cement b) Sand c) Plastic d) Stone	c) Plastic
2	Which of the following object made of wood? a) Fan b) Shoe c) Bed d) Stone	c) Bed
3	**Fill in the blank**: _____ is a handmade object available at home. a) Computer. b) Wooden Chair c) Stone. d) Fruit.	b) Wooden chair
4	Which material is the easiest to mould? a) Clay b) paper c) plastic d) All of these	a) Clay
5	**True or False**: Metal is used to make things like nails and tools. a) True b) False c) None d) Can’t say	a) True

6	**Match the following:** a) Potter. 1) Sand. b) Glass. 2) Folding c) Paper. 3) Cutting d) Scissors. 4) Wheel a) a-2,b-3,c-4,d-1 b) a-1,b-2,c-3,d-4 c) a-3,b-2,c-1,d-4 d) a-4,b-1,c-2,d-3	d) a-4,b-1,c-2,d-3
7	**Fill in the blank-** Paper can be folded to make things like ____. a) Kite b) Window c) Hair d) Clothes	a) Kite.
8	Which material is commonly used to make furniture? a) Paper b) Wood c) Clay d) Plastic	b) Wood.
9	Which materials can you use to make a small house model? a) Cardboard b) Iron c) Stone d) Metal	a) Cardboard
10	Which of the following items can be made from waste materials? a) Bottle vase b) Wooden table. c) Metal spoon d) Plastic bag.	a) Bottle vase.

केन्द्रीय विद्यालय संगठन, जम्मू संभाग

KENDRIYA VIDYALAYA SANGATHAN, JAMMU REGION

LAT WORKSHEET
CLASS - V

SUBJECT - EVS
CHAPTER NO - 12
CHAPTER NAME - Taking Charge of Waste

CLASSWORK

Q. No.	Question	Answer
1	We should always separate recyclable and non-recyclable waste a) True b) False c) both d) none	a) True
2	Burning waste is the best way to get rid of garbage. a) True b) False c) Both d) None	b) False
3	Composting is a method of turning waste into useful manure. a) True b) False c) Both d) None	a) True
4	Plastic waste takes a long time to decompose. a) True b) False c) Both d) None	a) True
5	It is good to throw garbage on the roads. a) True b) False c) Both d) None	b) False

6	Who is responsible for managing waste? a) Only the government b) Everyone in society c) Just the teachers d) No one	b) Everyone in society
7	Which of these actions can help reduce plastic waste? a) Use cloth bags b) Throw plastic in rivers c) Use more plastic d) Burn plastic at home	a) Use cloth bags
8	What is compost? a) Plastic waste b) A type of liquid waste c) Rotten plant and food waste that becomes natural fertilizer d) Metal waste	c) Rotten plant and food waste that becomes natural fertilizer
9	Which of these materials takes the longest to decompose? a) Paper b) Glass c) Vegetable peels d) Wood	b) Glass
10	What can we do to reduce waste at home? a) Use disposable plates b) Reuse bags and containers c) Buy more items d) Throw away everything	b) Reuse bags and containers
11	Where should we throw electronic waste like old phones? a) River b) In a separate e-waste bin c) In the garden d) In a food bin	b) In a separate e-waste bin
12	Which of these is an example of wet waste? a) Banana peels b) Glass bottle c) Paper bag d) Old shoe	a) Banana peels

13	What color bin is usually used for dry waste? a) Red b) Green c) Blue d) Black	c) Blue
14	Why is it important to separate wet and dry waste? a) To make our home dirty b) To make recycling easier c) To play with the waste d) To throw it all together	b) To make recycling easier
15	What can we make from recycled paper? a) Food b) New paper products c) Shoes d) Plastic toys	b) New paper products

HOMEWORK

Q. No.	Question	Answer
1	Which of these items can be composted? a) Plastic bottles b) Metal cans c) Vegetable peels d) Broken glass	c) Vegetable peels
2	What does the term "recycle" mean? a) Burning waste b) Making new things from old items c) Mixing all waste together d) Throwing things away	b) Making new things from old items
3	What should we do with plastic waste? a) Throw it on the road b) Recycle or reuse it c) Burn it d) Ignore it	b) Recycle or reuse it

4	Which of the following is an example of waste? a) Old newspaper b) New clothes c) Fresh fruits d) Running water	a)Old newspaper
5	What is waste? a) Something we can eat b) Something we don't need anymore c) A new toy d) Something we don't need anymore	b) Something we don't need anymore
6	We should use _____ bags instead of plastic bags to reduce waste. a) Paper b) Polythene c) Cloth d) Metal	c) Cloth
7	Recycling is important because it helps in _____. a) Increasing waste b) Using resources again c) Throwing more waste d) Making more dustbins	b) Using resources again
8	Throwing waste in open places can cause _____. a) Clean streets b) Pollution c) Fresh air d) Less garbage	b) Pollution
9	Wet waste such as vegetable peels can be used to make _____. a) Plastic bags b) Compost c) Paper d) Glass	b) Compost
10	We should always separate dry waste and wet waste using different _____. a) Buckets b) Bags c) Dustbins d) Boxes	c) Dustbins